Коло, вписане в трикутник

1. На якому рисунку зображено коло, вписане в трикутник?

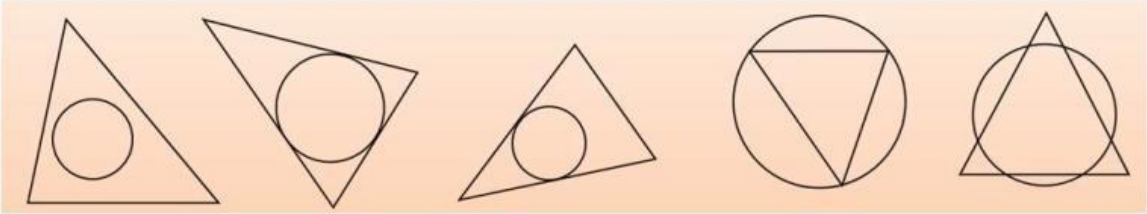

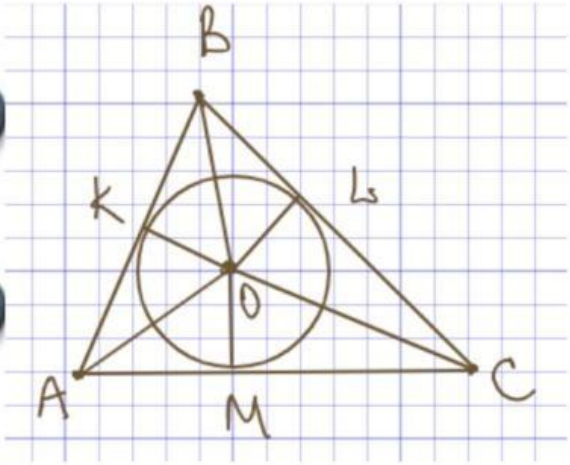

2. На рисунку точка O – центр кола, вписаного в трикутник ABC, точки M, K, L – точки дотику. Доповніть записи:

1) Δ AOK =Δ
2) Δ MOC=Δ
3) Δ OLB=Δ

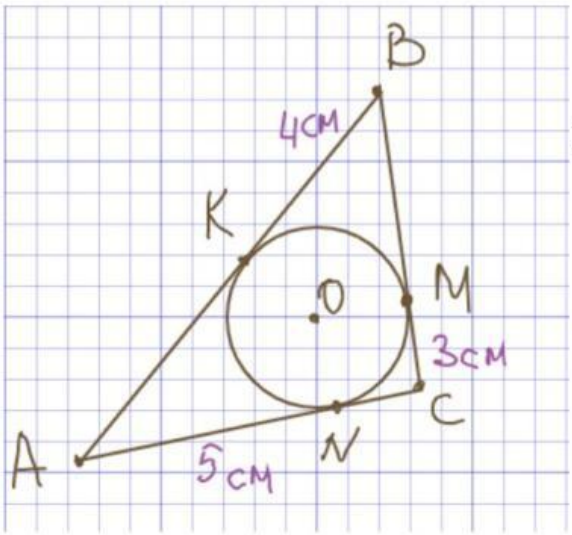

3. Знайди периметр трикутника. *(впиши тільки число)*

LIVEWORKSHEETS