Математика самостійно

Познач зафарбовані частини дробами

1) 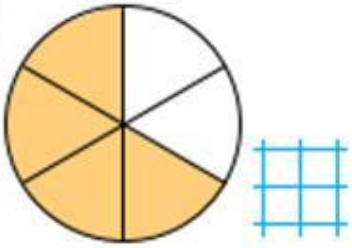

2) 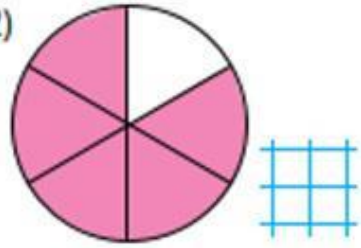

3) 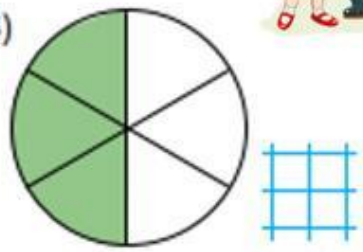

Обчисли та запиши результати.

$\frac{1}{7}$ від 420 ☐ ціле, якщо його $\frac{2}{5}$ становлять 140 ☐

$\frac{3}{5}$ від 150 ☐ ціле, якщо його $\frac{3}{4}$ становлять 120 ☐

$\frac{8}{11}$ від 121 ☐ ціле, якщо його $\frac{7}{8}$ становлять 560 ☐

Порівняй.

$\frac{1}{2}$ від 600 ◯ $\frac{1}{5}$ від 950

$\frac{3}{10}$ від 300 ◯ $\frac{4}{7}$ від 280

$\frac{10}{11}$ від 2200 ◯ $\frac{11}{12}$ від 2400

$\frac{7}{15}$ від 600 ◯ $\frac{4}{5}$ від 520

LIVEWORKSHEETS