ورقة عمل

قياس المساحة

أوجد/ـي مساحة كل شكل مما يأتي :

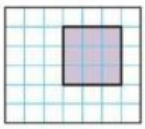

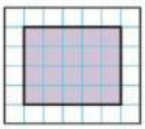





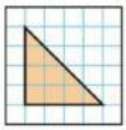

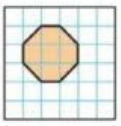



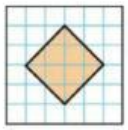

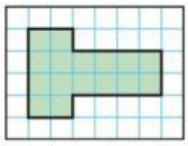

أَجِدُ مِسَاحَةَ سَجَّادَةٍ مُسْتَطِيلَةِ الشَّكْلِ طُولُهَا ٦ أَمْتَارٍ وعَرْضُهَا ٥ أَمْتَارٍ؟ (الدرس ٨-٤)

أَجِدُ مِسَاحَةَ الشَّكْلِ أَدْنَاهُ: (الدرس ٨-٤)

أ) ٢ وحدة مربعة ج) ٦ وحداتٍ مربعةٍ

ب) ٤ وحداتٍ مربعةٍ د) ٨ وحداتٍ مربعةٍ

الْجُزْءُ الْمُظَلَّلُ مِنَ الشَّكْلِ أَدْنَاهُ يُمَثِّلُ مِسَاحَةَ غُرْفَةِ يَاسِرٍ، فَمَا مِسَاحَةُ غُرْفَتِهِ؟



أ) ١٨ وَحْدَةً مُرَبَّعَةً ج) ٣٦ وَحْدَةً مُرَبَّعَةً

ب) ٢٤ وَحْدَةً مُرَبَّعَةً د) ٤٨ وَحْدَةً مُرَبَّعَةً

مَا مِسَاحَةُ غُرْفَةٍ أَرْضِيَّتُهَا مُسْتَطِيلَةٌ طُولُهَا ٤ وَحَدَاتٍ، وَعَرْضُهَا ٣ وَحَدَاتٍ؟

أ) ٧ وَحَدَاتٍ مُرَبَّعَةٍ

ب) ٨ وَحَداتٍ مُرَبَّعَةٍ

ج) ١٢ وَحْدَةً مُرَبَّعَةً

د) ١٥ وَحْدَةً مُرَبَّعَةً

يُخَطِّطُ وَلِيدٌ لِتَغْطِيَةِ جُزْءٍ مِنْ مَنْزِلِهِ بِبَلاطٍ مِنَ الرُّخَامِ، فَمَا مِسَاحَةُ الْجُزْءِ الَّذِي سَيُغَطِّيهِ؟

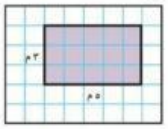

يُسَاعِدُ مَحْمُودٌ أَبَاهُ عَلَى تَبْلِيطِ مَدْخَلِ الْمَنْزِلِ، فَكَمْ بَلاطَةً مُرَبَّعَةً سَيَحْتَاجَانِ؟

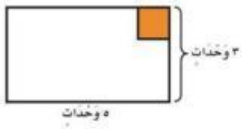

تُرِيدُ أَرْوَى أَنْ تَجِدَ مِسَاحَةَ وَاجِهَةِ خِزَانَةِ مَلابِسِهَا، الْمُوَضَّحَةِ أَبْعَادُهَا عَلَى الرَّسْمِ أَدْنَاهُ، فَكَمْ وَحْدَةً مُرَبَّعَةً مِسَاحَةُ وَاجِهَةِ الْخِزَانَةِ؟

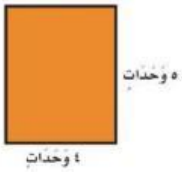

إعداد : أ . منال الشاهين

LIVEWORKSHEETS