# Secuencias gráficas

¿Cuál es el gráfico que continúa? Selecciona la alternativa correcta.

2 ?

a) b) c)

3 ?

a) b) c)

4 ?

a) b) c)

5 ?

a) b) c)

6 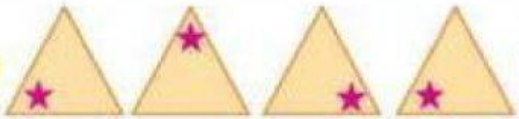 ?

a) b) c)

7 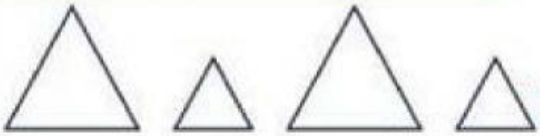 ?

a)  b) c)

8 ?

a) b) c)

LIVEWORKSHEETS