Kerjakan semua permasalahan dalam LKPD ini dengan tepat!

Agar dapat menyelesaikan dengan tepat, silahkan simak materi berikut ini (video youtube)

Selamat Mengerjakan . . .

1. Cocokkan nama-nama bangun datar berikut (memasangkan)

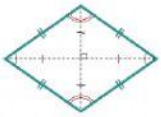

PERSEGI PANJANG

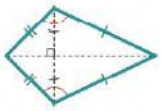

BELAH KETUPAT

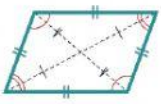

JAJAR GENJANG

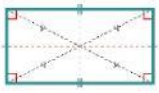

LAYANG-LAYANG

2. Salah satu sifat bangun datar berikut yang tepat adalah… (pilihan drop down)

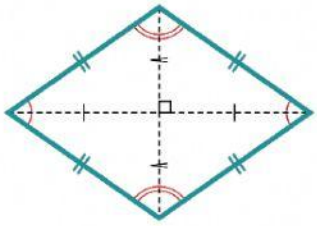

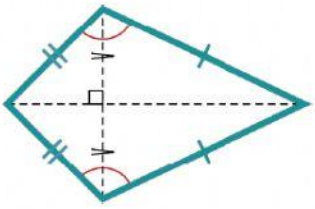

3. Luas daerah sebuah persegi panjang adalah 24 cm^2. Yang tidak mungkin menjadi ukuran panjang dan lebar persegi panjang tersebut adalah … (pilihan ganda)
   a. 24 cm dan 1 cm
   b. 20 cm dan 4 cm
   c. 12 cm dan 2 cm
   d. 8 cm dan 3 cm

4. 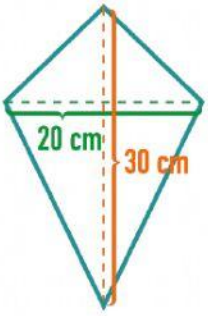

Budi membuat layang-layang dengan ukuran seperti gambar di samping. Luas kertas minimum untuk membuat layang-layang tersebut adalah …… cm^2. (jawaban singkat)