INSTITUCIÓN EDUCATIVA PARTICULAR
"VIRGEN MARÍA DE LAS NIEVES"

Examen del I trimestre - Ciencia y Ambiente

Nombres y Apellidos: _____ Fecha: _____

Profesora: Miss Laura Grado: 1er

1.- Completa el siguiente gráfico con las partes que faltan

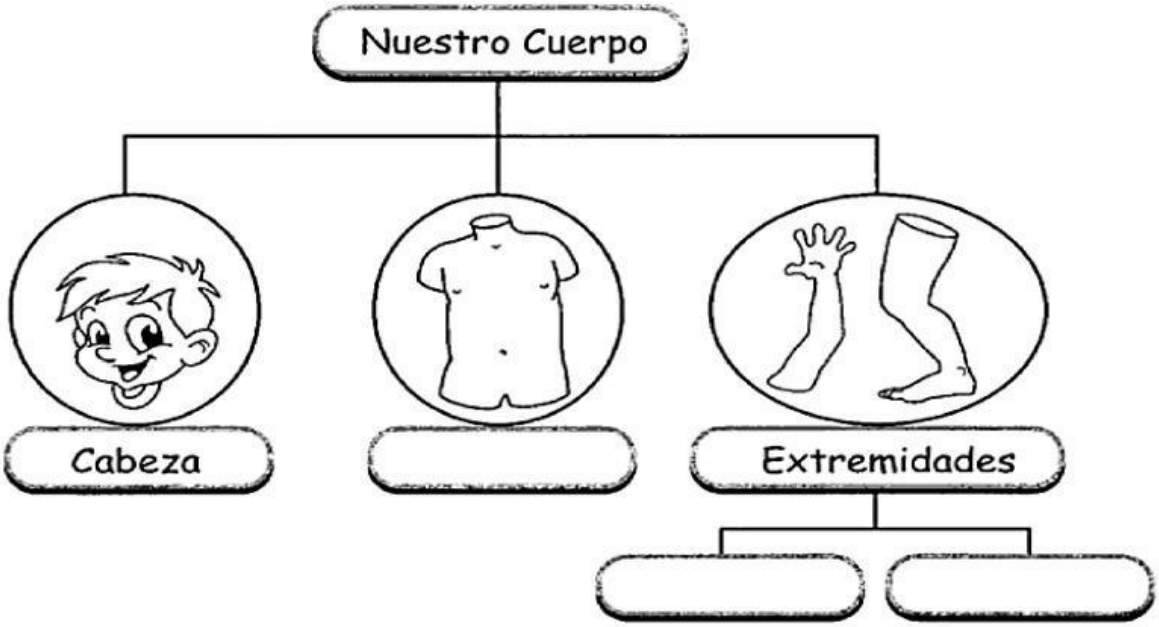

2.- Pinta según las indicaciones

Pinta de color

1. Rojo = cabeza
2. Azul = tronco
3. Amarillo = extremidades superiores
4. Verde = extremidades inferiores

LIVEWORKSHEETS

3.- Completa las partes del rostro



4.- Colorea de amarillo la respuesta correcta

A. Las extremidades pueden ser:

a) superiores | b) inferiores | c) Todas

B. Las extremidades superiores son:

a) piernas | b) brazos | c) cabeza

C. Las extremidades inferiores son:

a) piernas | b) brazos | c) tronco

5.- Colorea de verde solo lo que corresponde a la parte del rostro

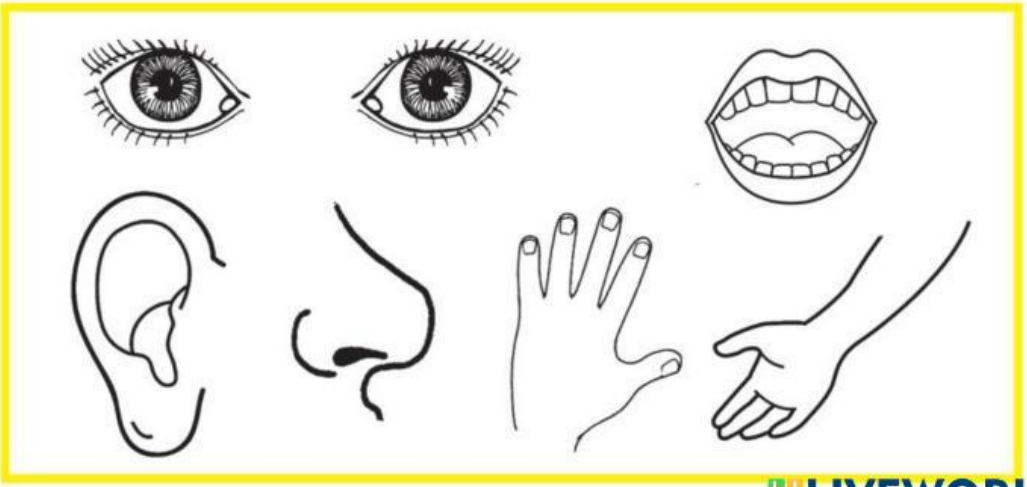

LIVEWORKSHEETS

6- **Marca con una X del como cuido mi cuerpo**

7.- Lee y une cada letrero con el dibujo del sentido que corresponde

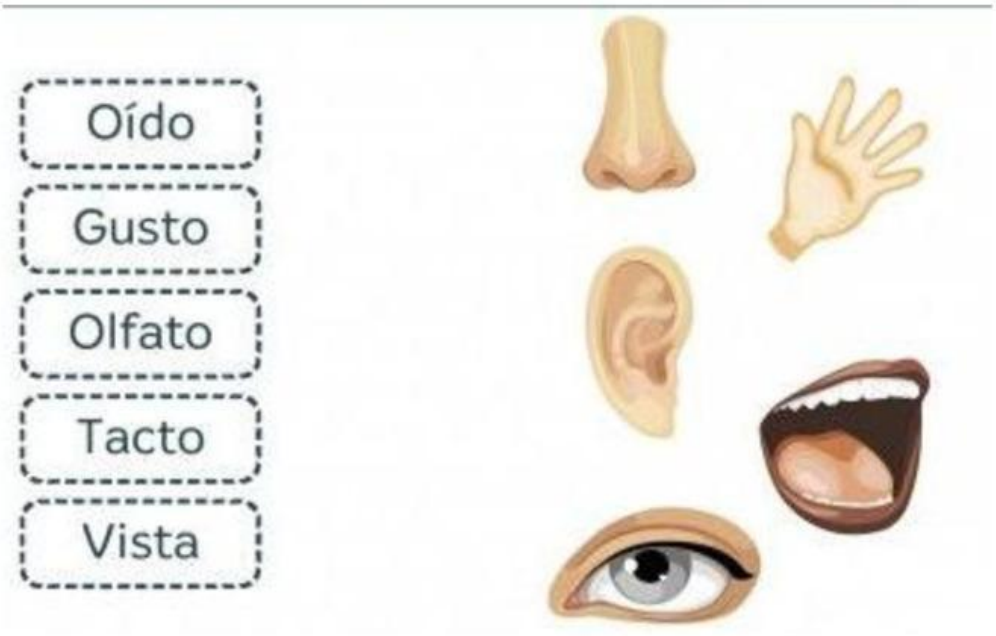

8.- Marca con una X lo que percibimos con el gusto

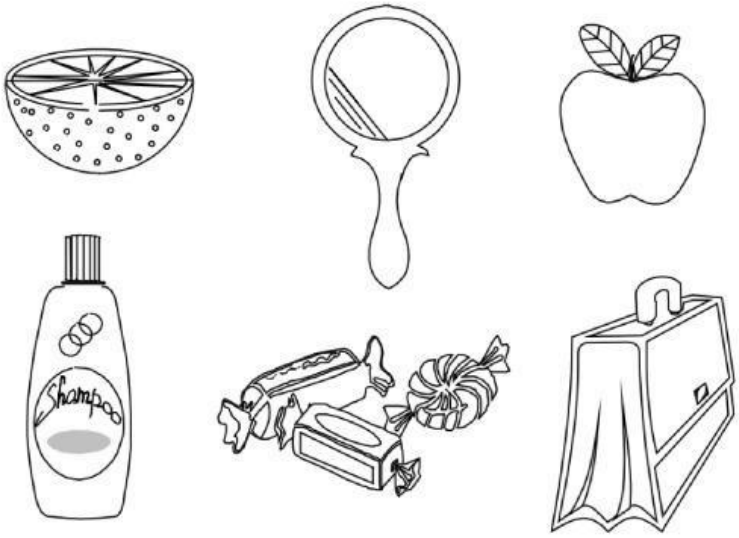

LIVEWORKSHEETS

9.- Encierra en un círculo lo que podemos percibir a través del oído.



10.- Lee y colorea de amarillo la respuesta correcta

a.- El sentido de la vista está en:

a) Los ojos | b) Las manos | c) orejas

b.- El sentido del gusto esta en la:

a) Boca | b) Lengua | c) Labios

c.- La temperatura de los cuerpos los percibes con el sentido

a) Gusto | b) Tacto | c) Olfato

d.- ¿Cuántos sentidos tenemos:?

a) 4 | b) 3 | c) 5

e.- Los olores los percibes con el sentido del:

a) Gusto | b) Tacto | c) Olfato

¡Buena Suerte!

LIVEWORKSHEETS