LEMBAR KERJA PESERTA DIDIK (LKPD) ONLINE

MATERI : LUAS PERMUKAAN PRISMA DAN LIMAS

NAMA :

NO.ABSEN :

KELAS :

UPT SPF SMP NEGERI 5 MAKASSAR

SOAL MENJODOHKAN

Prisma dan limas di bawah garis merah
Silahkan tarik garis dari atas (jenis prisma dan limas) ke bawah garis merah sehingga menjadi jawaban yang benar

PRISMA SEGITIGA | **PRISMA SEGIEMPAT** | **LIMAS SEGITIGA** | **PRISMA SEGILIMA** | **LIMAS SEGIEMPAT**

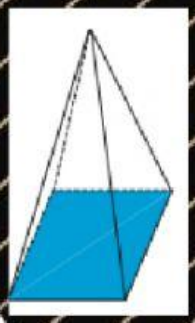

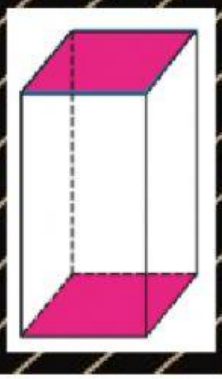

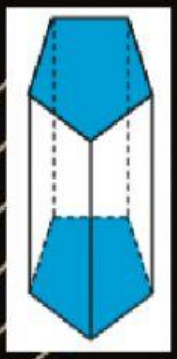

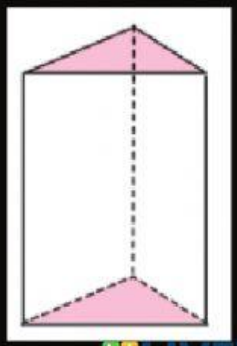

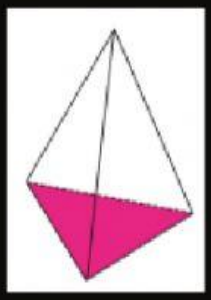

LIVEWORKSHEETS

SOAL PILIHAN GANDA

Sebuah prisma memiliki alas berbentuk segitiga siku-siku dengan alas 10 cm dan tinggi 15 cm, sedangkan tinggi prisma tersebut ialah 20 cm. Berapakah luas permukaan pada prisma tersebut?

a. 1.050 cm^2

b. 6.000 cm^2

c. 5.075 cm^2

d. 5.065 cm^2

ISIAN SINGKAT (Langsung tulis jawabannya)

Diketahui sebuah limas mempunyai alas berbentuk persegi dengan panjang sisi 8 cm. Jika tinggi segitiga pada sisi tegak adalah 12 cm, tentukan luas permukaan limas tersebut !

JAWABAN :

LIVEWORKSHEETS