Bài 4: Bé đếm hình và chọn số đúng

Tên:_____

Chọn số đúng



4
5
3



5
4
2

5
2
4



3
2
5

5
4
3

4
5
3

LIVEWORKSHEETS

Họ và tên: ..... Lớp: .....

Đếm và đối chiếu

- Em hãy đếm các vật ở mỗi nhóm và nối với số tương ứng.

6



4

1

3

8

LIVEWORKSHEETS

Họ và tên: ..... Lớp: .....

Cặp số có tổng bằng 5

- Em hãy nối hai nhóm quả ở hai hàng để được tất cả 5 quả.



- Em hãy viết tất cả các phép tính cộng có kết quả là 5.

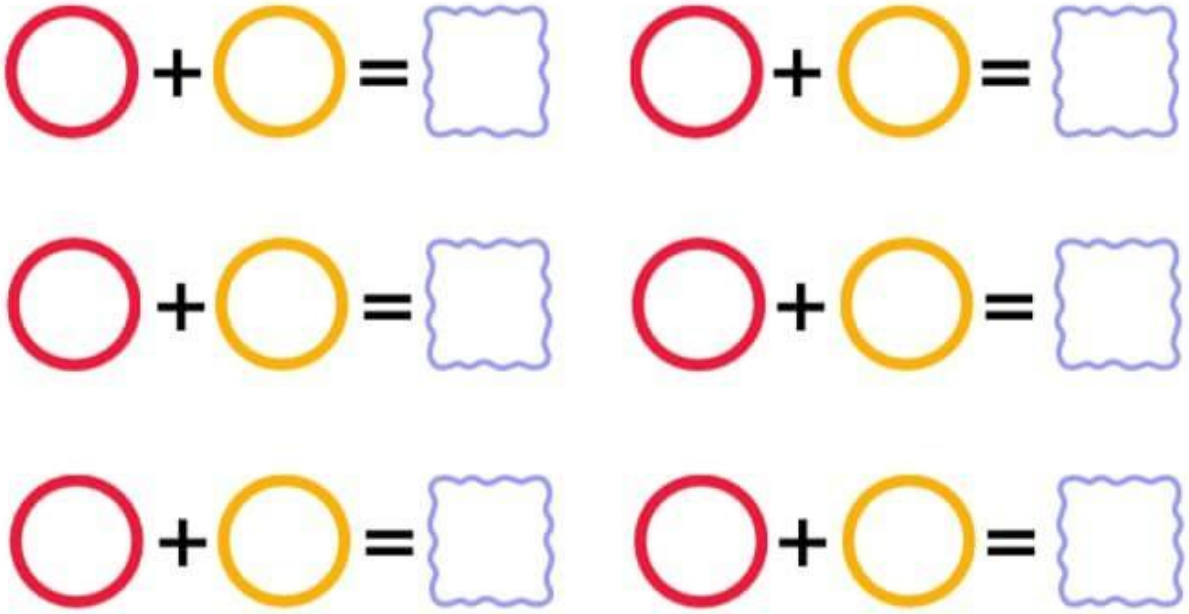

LIVEWORKSHEETS

Họ và tên: ..... Lớp: .....

Có tất cả bao nhiêu con vật?

- Em hãy đếm rồi ghi số vào ô dưới và điền kết quả tất cả con vật vào ô trống.

+

= ○

□ □

+



= ○

□ □

+

= ○

□ □

LIVEWORKSHEETS

Họ và tên: ..... Lớp: .....

Đếm tổng và viết phép cộng

Em hãy đếm tổng hoa quả và viết phép tính thích hợp.

..... + ... = ...

..... + ... = ...

..... + ... = ...

..... + ... = ...

..... + ... = ...

..... + ... = ...

..... + ... = ...

..... + ... = ...

LIVEWORKSHEETS

BÀI TẬP TÁCH GỘP TRONG PHẠM VI 9

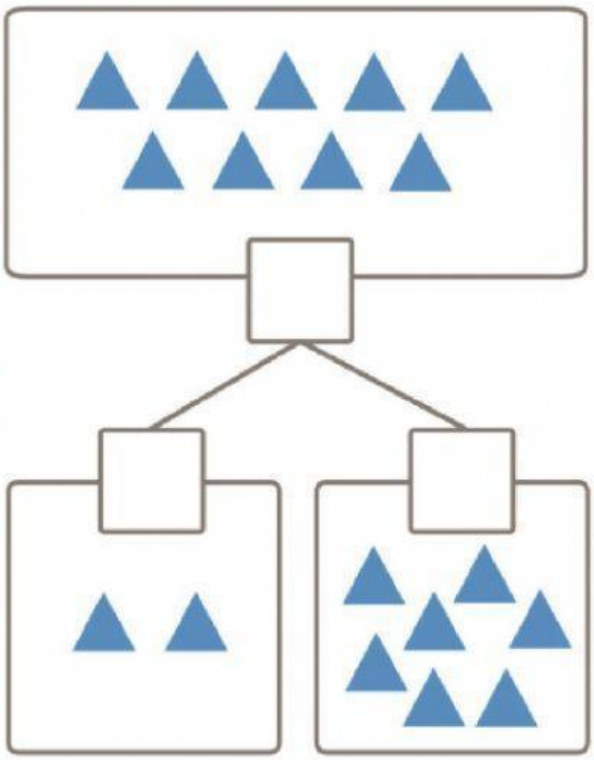

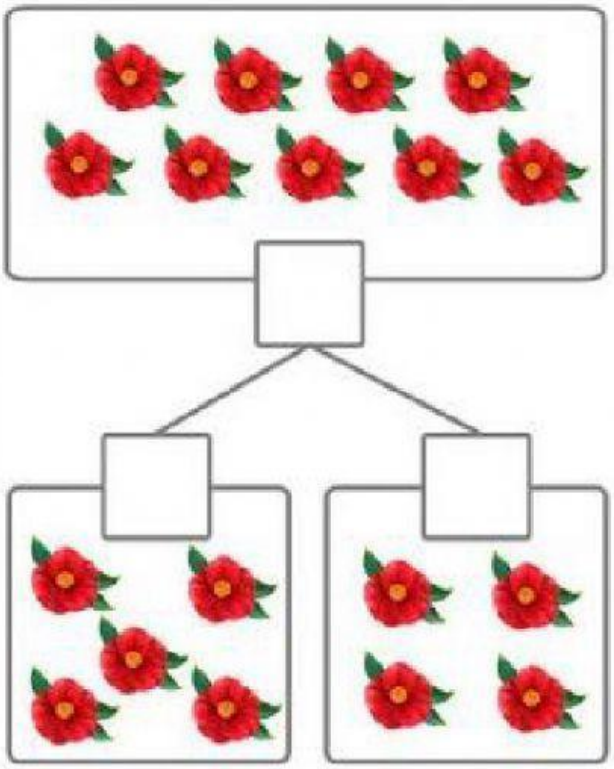

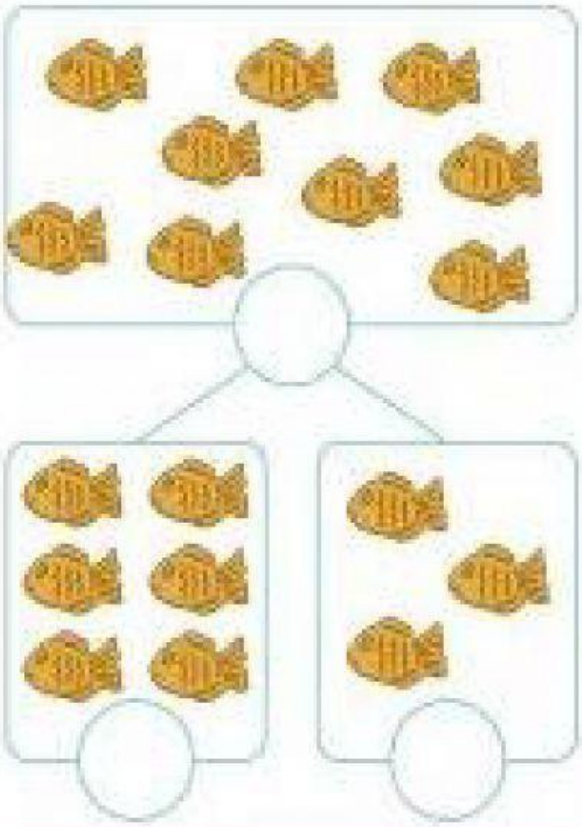

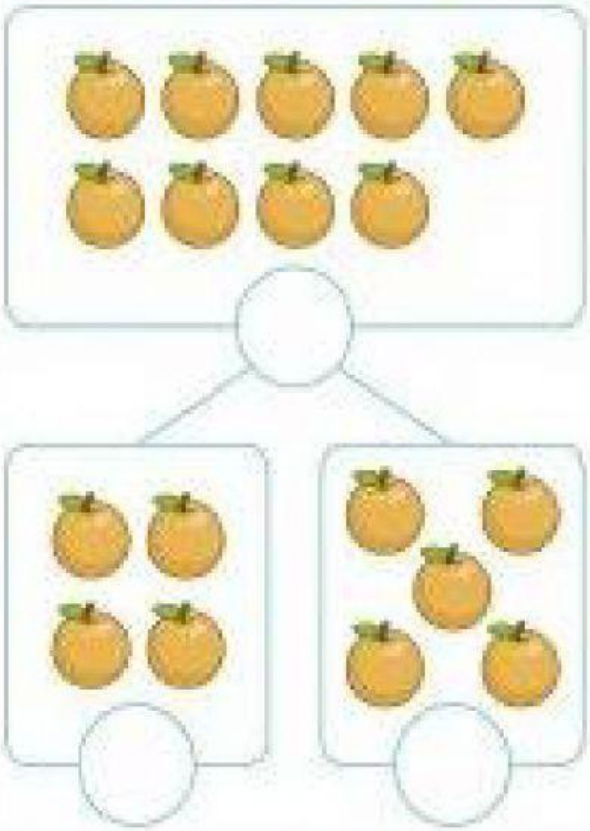

LIVEWORKSHEETS

Họ và tên: ..... Ngày: .....

Chuỗi phép tính

Em hãy tính các phép tính liên tiếp và điền số còn thiếu.

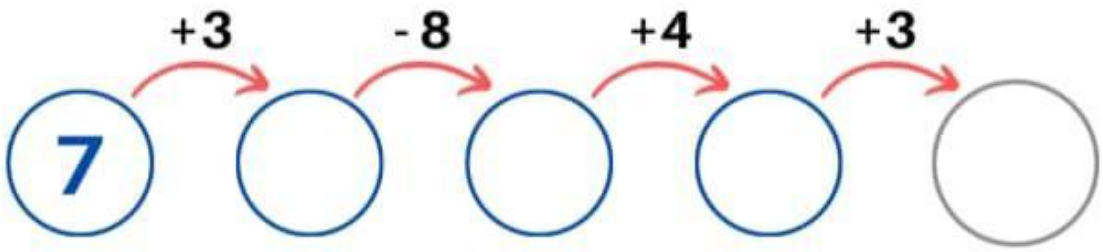

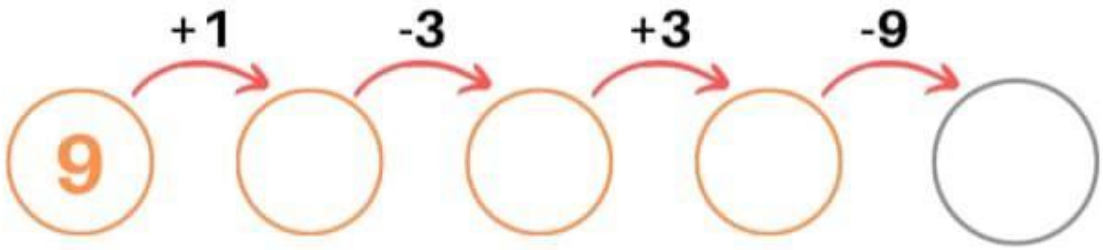

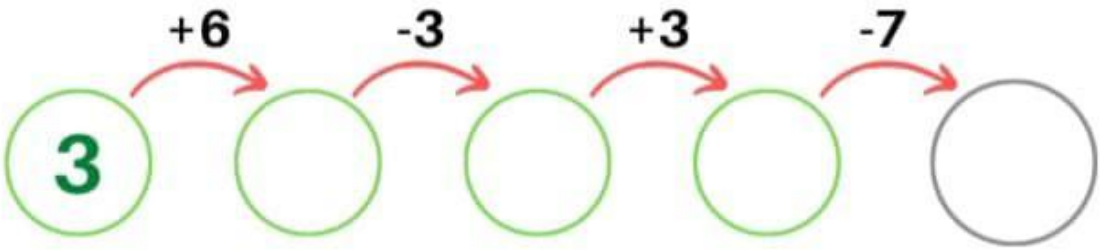

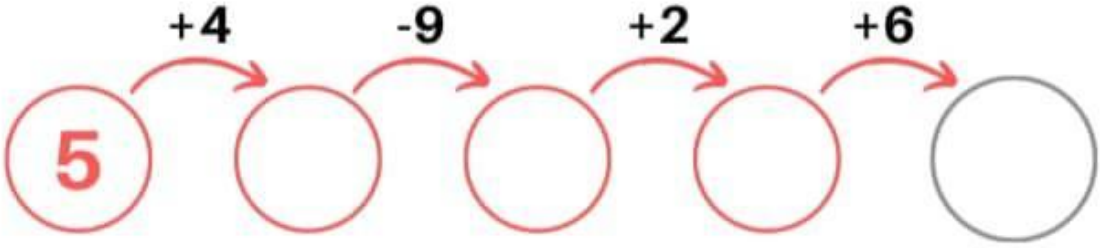

LIVEWORKSHEETS

Họ và tên: ..... Lớp: .....

Đếm và điền số

- Em hãy đếm các loại hoa quả và viết số vào ô trống.



LT04
LIVEWORKSHEETS

Họ và tên:..... Lớp:.....

Thiếu số nào?

Biết tổng hai số trên hai bông hoa bằng với số ở chậu, em hãy điền số còn thiếu vào ô trống.



LIVEWORKSHEETS