LECCIÓN DE MATEMÁTICAS

FRACCIONES Y DECIMALES

1. **Busque el número decimal de las siguientes fracciones y marque como se lee correctamente.**

FRACCIÓN	DECIMAL	SE LEE
$\frac{9}{100}$		Nueve décimos Nueve centésimos Nueve milésimos
$\frac{9}{15}$		Seis décimas Seis centésimos Seis milésimos
$\frac{12}{10}$		Un entero y dos décimos Un entero y dos centésimos Un entero y dos milésimos
$\frac{5}{2}$		Dos enteros y cinco décimos Dos enteros y cinco centésimos Dos enteros y cinco milésimos

2. **Pinta las afirmaciones correctas**

- 1,78 indica una unidad y setenta y ocho milésimas
- En 4,65 la parte entera es 4 y la parte decimal es 65
- En $\frac{11}{5}$ para buscar el número decimal debo multiplicar el numerador por el denominador.
- El número 0,901 se lee novecientos un milésimos.
- El número decimal expresa una parte de la unidad
- En $\frac{7}{5}$ el número decimal es 1,5

LIVEWORKSHEETS

3. **Observa las representaciones gráficas y escribe la fracción y el número decimal que le corresponde.**



_____



_____

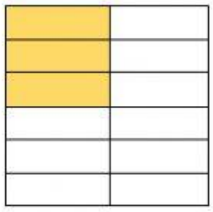

_____

_____

LIVEWORKSHEETS