Лабораторне дослідження №7

Тема. **Вивчення будови спинного мозку людини.**

Мета: **вивчити будову та функції спинного мозку, встановити взаємозв'язок між будовою та функцією.**

Хід роботи:

1. **Розгляньте сегменти спинного мозку людини, визначте назву кожного сегменту (позначених цифрами) та кількість пар спинномозкових нервів, які беруть початок у даних сегментах. Заповни таблицю.**

ВІДДІЛИ СПИННОГО МОЗКУ	
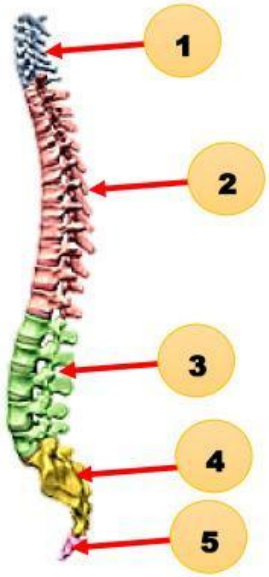	**назва сегментів**
	1.
	2.
	3.
	4
	5.

2. **Розгляньте поперечну будову спинного мозку. Які ділянки спинного мозку показані цифрами? Яку функцію виконують дані ділянки? Заповніть таблицю.**

ПОПЕРЕЧНИЙ РОЗРІЗ СПИННОГО МОЗКУ		
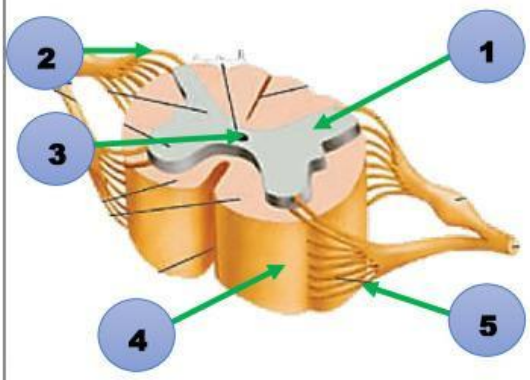	**ділянка поперечного розрізу спинного мозку**	**функція**
	Біла речовина	
	Сіра речовина	
	Спинномозковий канал	
	Руховий корінець	
	Чутливий корінець	

3. **Розгляньте оболонки спинного мозку.**
4. **Якими цифрами позначені дані оболонки та які функції вони виконують.**

ОБОЛОНКИ СПИННОГО МОЗКУ		
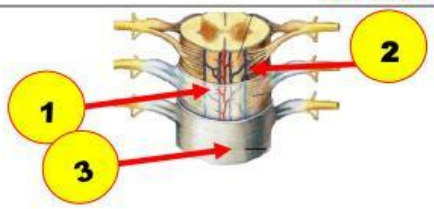	**оболонки спинного мозку**	**функції**
	1.	
	2.	
	3.	

Висновок:

Які основні функції виконує спинний мозок?	

LIVEWORKSHEETS