Nombre: _____ Clase: _____

EJERCICIOS DE TEORÍA MUSICAL

Arrastra la clave de sol:



Arrastra la clave de fa:



Relaciona las notas con su símbolo correcto y los símbolos con su duración:

Semicorchea		1
Negra		1/4
Corchea		1/2
Redonda		4
Blanca		2

¿Qué representa el número superior en un compás?

_____

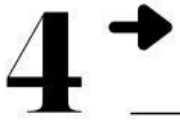

¿Qué representa el número inferior en un compás?

_____

Al inicio de cada compás escribe el número de compás correspondiente como en el ejemplo:



LIVEWORKSHEETS