Lớn thầy Sĩ

VUI HỌC TOÁN

TOÁN 3

LỚP THẦY SĨ

THỬ THÁCH TUẦN 29

Tên bài: Thực hành xem đồng hồ, xem lịch
Tiền Việt Nam

Câu 1 Đồng hồ bên chỉ mấy giờ?



A. 19 giờ 50 phút **B.** 7 giờ 50 phút

C. 20 giờ 50 phút **D.** 8 giờ 50 phút

Câu 2 Tờ tiền (*hình bên*) có mệnh giá là:

A. 1 000 đồng

B. 2 000 đồng

C. 5 000 đồng

D. 10 000 đồng

Câu 3 Tháng 4 có số ngày là:

A. 28 ngày **B.** 29 ngày **C.** 30 ngày **D.** 31 ngày

Câu 4 Hôm nay, lớp 3A có bài kiểm tra 15 phút. Bài kiểm tra bắt đầu lúc 8 giờ 25 phút. Đồng hồ nào dưới đây chỉ thời gian bài kiểm tra kết thúc?

A.

B.

C.

D.

Câu 5 Nếu hôm nay là thứ Năm ngày 28 tháng 4 thì ngày 5 tháng 5 cùng năm đó là ngày thứ mấy trong tuần?

A. Thứ Ba **B.** Thứ Tư **C.** Thứ Năm **D.** Thứ Sáu

Câu 6 An đi từ nhà đến trường hết 30 phút. Nhà Bình ở gần trường hơn nên thời Bình đến trường nhanh hơn An 25 phút. Thời gian An đi từ nhà đến trường gấp thời gian Bình đi từ nhà đến trường số lần là:

A. 3 lần **B.** 4 lần **C.** 5 lần **D.** 6 lần

LIVEWORKSHEETS

II. Phần tự luận.

Bài 1 Điền vào chỗ trống.

My đến trường lúc ____ giờ ____ phút.



Quý đi câu cá lúc ____ giờ ____ phút.



Huy trồng cây lúc ____ giờ ____ phút.



Hà đi ngủ lúc ____ giờ ____ phút.

Bài 2 Số?

Tháng	1	2	3	4	5	6
Số ngày						

Tháng	7	8	9	10	11	12
Số ngày						

Bài 3 Nối.

2 000 đồng

10 000 đồng

50 000 đồng

100 000 đồng

LIVEWORKSHEETS

Bài 4 Quan sát tờ lịch bên và viết tiếp vào chỗ trống cho thích hợp.

- Chủ Nhật đầu tiên của tháng 11 là ngày ☐
- Còn 9 ngày nữa là đến ngày Nhà Giáo Việt Nam 20 tháng 11, hôm nay là thứ ☐, ngày ☐ tháng 11.

Tháng 11						
Thứ Hai	Thứ Ba	Thứ Tư	Thứ Năm	Thứ Sáu	Thứ Bảy	Chủ Nhật
	1	2	3	4	5	6
7	8	9	10	11	12	13
14	15	16	17	18	19	20
21	22	23	24	25	26	27
28	29	30				

- Bố Hương đi công tác 1 tuần. Bố đi vào ngày 26 tháng 11 và sẽ trở về nhà vào thứ ☐, ngày ☐ tháng ☐.

Bài 5 Điền vào chỗ trống.

Mai đi học từ nhà lúc 6 giờ 15 phút, Hoa đi học từ nhà lúc 6 giờ 40 phút.

Hai bạn Mai và Hoa cùng đến trường lúc 7 giờ.

- Thời gian Mai đi từ nhà đến trường là ☐ phút .
- Thời gian Hoa đi nhà đến trường là ☐ phút.
- Thời gian Hoa đi nhà đến trường ít hơn Mai là ☐ phút.

Bài 6 Điền vào chỗ trống.

- An và mẹ đi siêu thị. Mẹ mua 1 kg cà chua và 3 kg cam. Số tiền mẹ cần thanh toán là ☐☐☐ đồng.

10 000 đồng/kg

20 000 đồng/kg

- Mẹ đưa cho cô thu ngân tờ 100 000 đồng. Cô thu ngân trả lại mẹ 2 tờ tiền, đó là các tờ: ☐☐☐ đồng và ☐☐☐ đồng.

LIVEWORKSHEETS