**Név:** ***AZ OMM GAZDASÁGA***

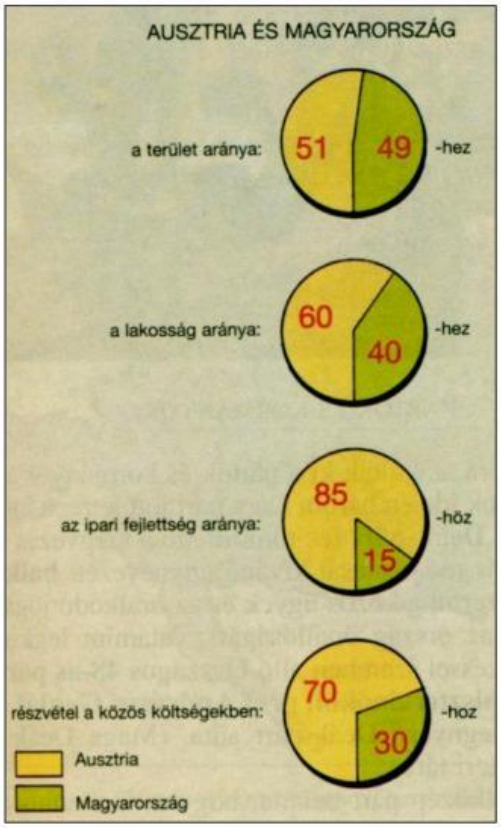


1. *Tanulmányozd a két ország egyes „tulajdonságait" összehasonlító kördiagramokat, majd válaszolj a kérdésekre!*
   a. Melyik ország területe volt nagyobb?

      Ausztria Magyarország

   b. Magyarország hány százalékát állta a közös költségeknek?

      _____

   c. Hányszorosa volt Ausztria lakossága a magyarországi lakosságnak?

      _____

   d. Melyik ország volt iparilag elmaradottabb?

      Ausztria Magyarország

2. *A képek és diagramok Magyarország ipari és mezőgazdasági termelését ábrázolják. Válaszolj a kérdésekre az adatok segítségével!*

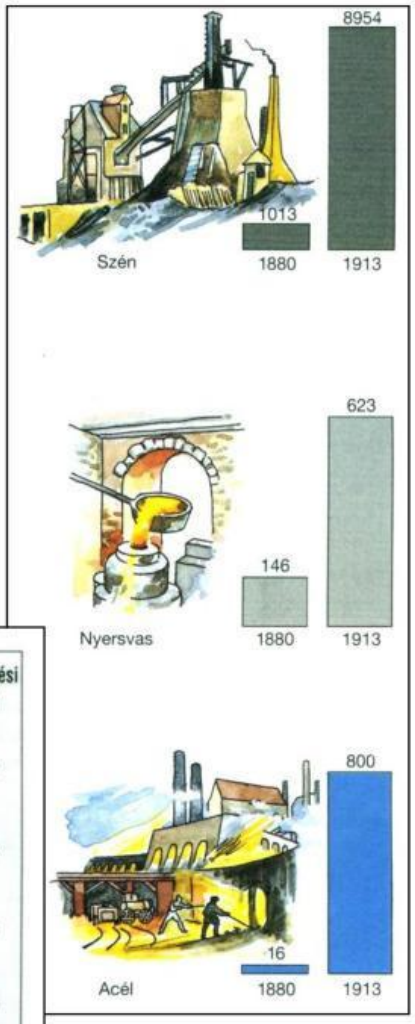


a) Magyarország gyors ipari fejlődésen ment keresztül a 19-20. sz. fordulóján. IGAZ – HAMIS?

b) A széntermelés körülbelül hányszorosára nőtt 33 év alatt? _____

c) Melyik ipari nyersanyag termelése nőtt a legnagyobb ütemben?

szén nyersvas acél

d) A nyersvas termelése körülbelül a hatszorosára nőtt. IGAZ-HAMIS?

e) Melyik növény termelési eredménye nőtt a legnagyobb mértékben?

*búza* *kukorica* *burgonya* *cukorrépa*

f) Hány tonna kukorica termett 1911-13-ban? _____

g) Hány tonna burgonya termett 1864-66-ban? _____



| Termeléseredmények millió q | 1864–66 | 1911–13 | Növekedési arány |
|---|---|---|---|
| | 17,2 | 49,1 | 285% |
| | 13,4 | 48,5 | 361% |
| | 7,3 | 54,9 | 752% |
| | 2,0 | 43,3 | 2165% |

LIVEWORKSHEETS

*3. A malomipar fejlődése*

A táblázat és a diagram tanulmányozása után válaszolj a következő kérdésekre!

| év | malmok száma (db) |
|---|---|
| 1863 | 22 131 |
| 1906 | 20 726 |

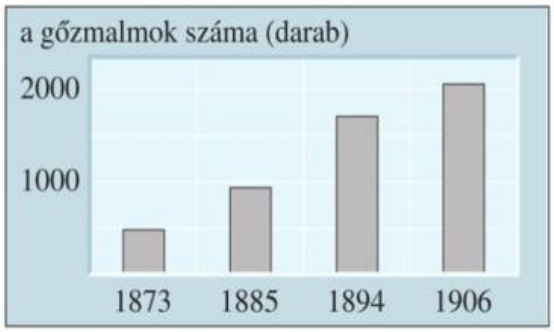


Csökkent vagy nőtt a malmok száma 1863 és 1906 között? .....

A gőzmalmok száma folyamatosan nőtt-e 1873–1906 között?

1906-ban hagyományos vagy gőzmalomból volt-e több? .....

A táblázat és a diagram összevetésével állapítsd meg, hogyan változott a hagyományos (szél- vagy vízi) malmok száma? Vajon miért?

| | |
|---|---|
| **csökkent** | **nőtt** |
| **igen** | **nem** |
| **hagyományos** | **gőz** |

**Válaszodat ide írd, kerek mondatokban!**

*4. A táblázat a magyarországi állatállomány alakulását ábrázolja (ezer db).*

| | 1884 | 1911 |
|---|---|---|
| juh | 10 595 | 7698 |
| szarvasmarha | 4879 | 6184 |
| sertés | 4804 | 6416 |
| ló | 1749 | 2001 |

1) Melyik faj állománya csökkent?

*juh* *szarvasmarha* *sertés* *ló*

2) Hány juhot tartottak Magyarországon 1884-ben? _____

3) Melyik faj állománya nőtt a legnagyobb mértékben?

*juh* *szarvasmarha* *sertés* *ló*

4) Hány sertés tartottak Magyarországon 1911-ben? _____

*5. Képek, eszközök*

Kösd össze az eszközt a nevével!

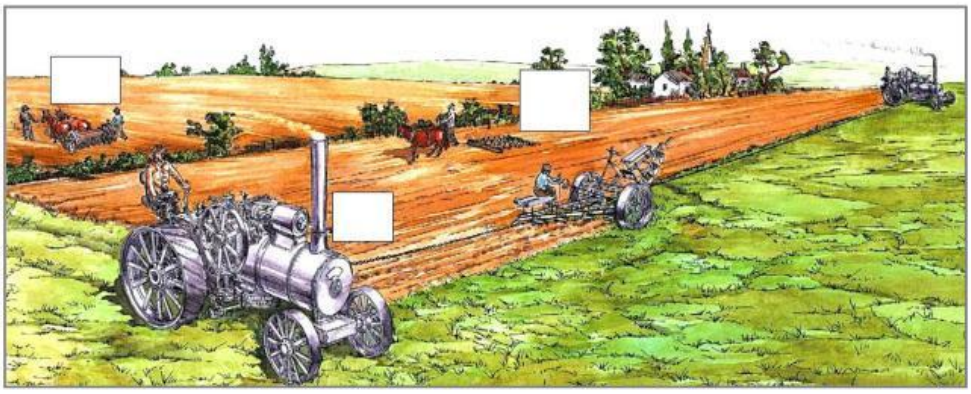

**vasborona**

**gőzeke**

**vetőgép**

LIVEWORKSHEETS