NUME…… **TEST NR1** DATĂ……

I.Cititi cu atentie afirmţiile de mai jos şi încercuiţi adevărat **(A)** daca afirmatia e adevarată **sau (F)** pentru falsă.

Cel mai mic continent de pe Terra este Asia.	A/ F
Cel mai adanc ocean este Oceanul Arctic.	A/ F
Cea mai mare altitudine de pe Terra se află în M. Himalaya	A/ F
Câmpia are altitudini de peste 1000 m.	A/ F
Platforma continentală coboară aproape de -400m	A/ F

5X2=10P

II.4X2=8P

Identificaţi formele majore de relief ale continentelor notate cu litere mari

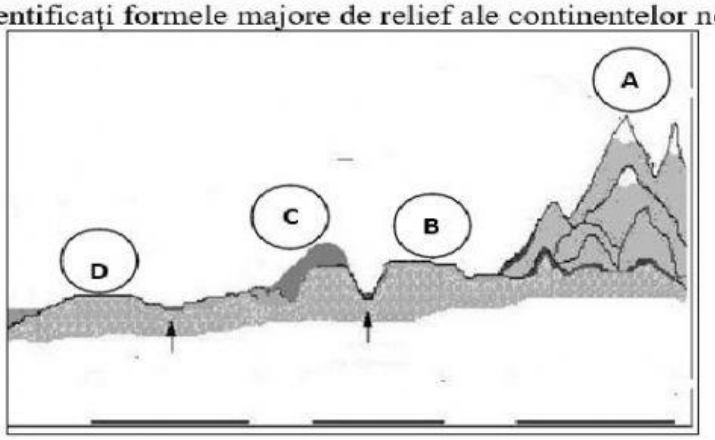

A……...

B……

C……....

D……

III.Identificaţi articulaţiile de ţărm notate cu majuscule pe harta de mai jos:7X4= 28P

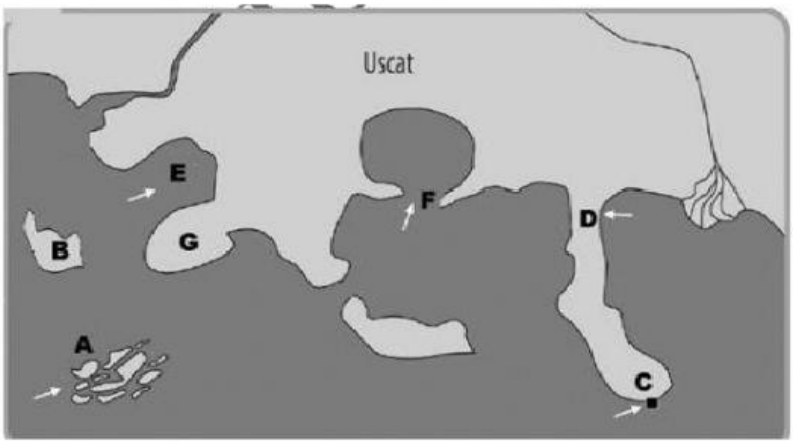

A……

B……

C……

D……

E……

F……

G……

IV.4X3=12P

Identificaţi formele majore de relief ale bazinelor oceanice notate cu litere

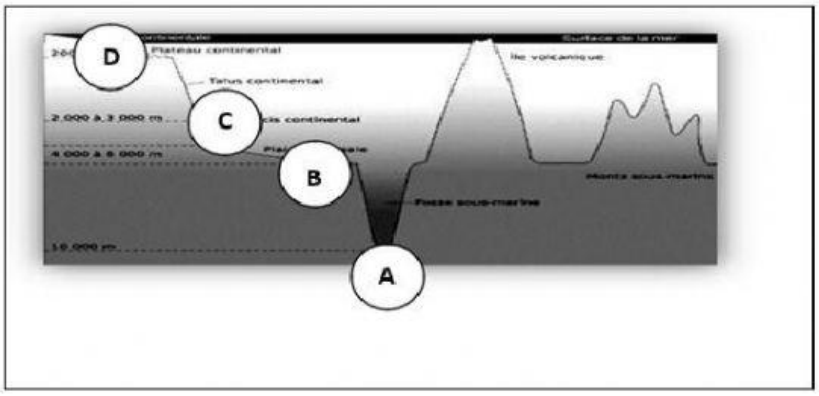

A……

B……

C……

D……

LIVEWORKSHEETS

V. Se dă harta de mai jos cu unități majore de relief importante ale Terrei. Identificați unitățile notate cu cifrele: **8X4=32P**

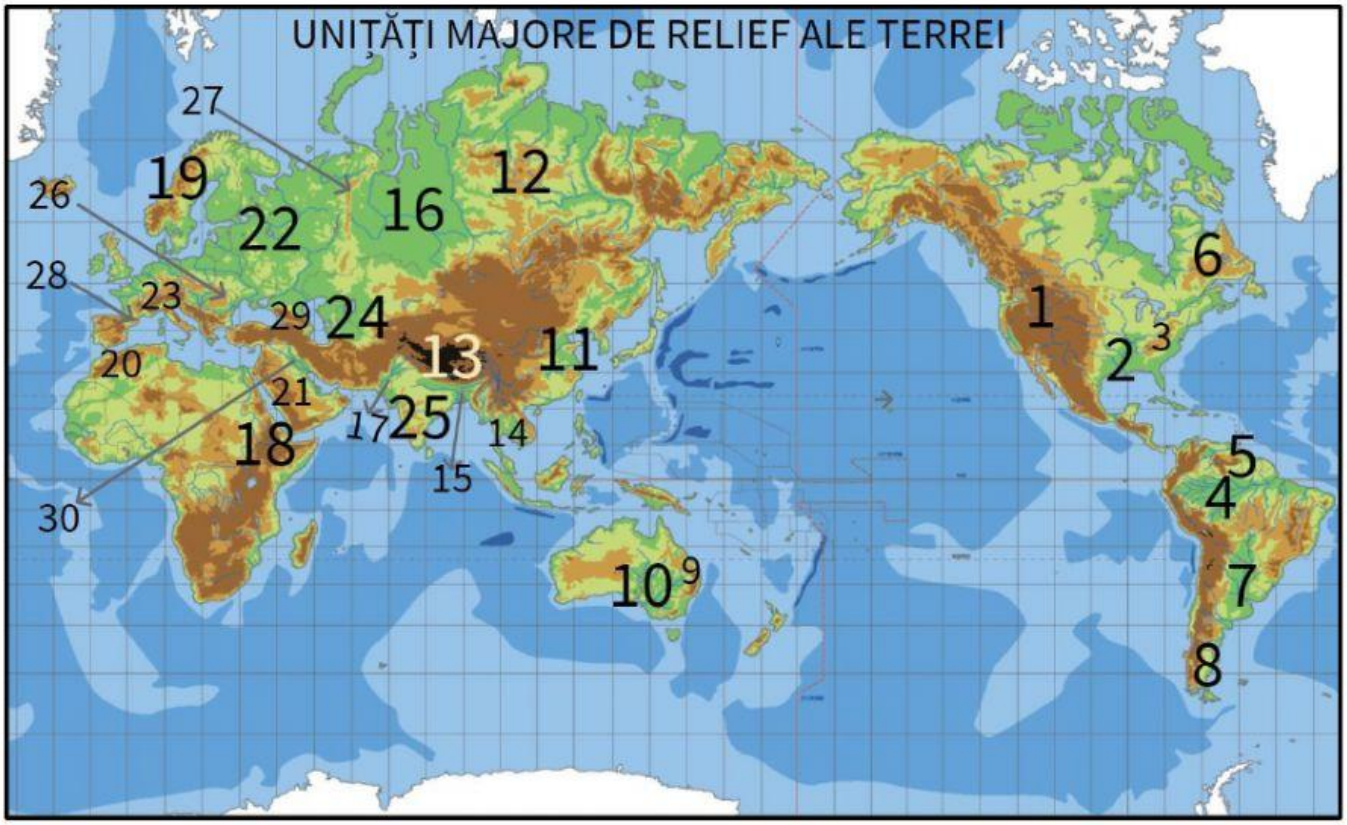

3.....

7.....

24.....

27.....

30.....

14.....

23.....

29.....

10P oficiu

LIVEWORKSHEETS