Indicație: de substituit simbolul infinit cu trei puncte ... semnele + sau - de le tastat, parantezele de le tastat.

3. In desenul alăturat este reprezentat graficul funcției

$f: \mathbb{R} \to \mathbb{R}, \quad f(x) = ax + b.$

Să se completeze caseta, astfel încît să se obțină o propoziție adevărată.

„ $f(x) > 0$ pentru

$x \in$ [ ] ."

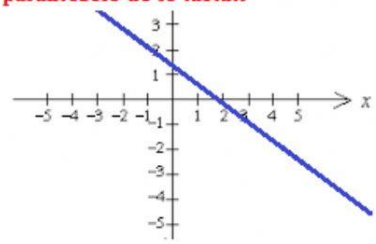

3. In desenul alăturat este reprezentat graficul funcției

$f: \mathbb{R} \to \mathbb{R}, \quad f(x) = ax + b.$

Să se completeze caseta, astfel încît să se obțină o propoziție adevărată.

„ $f(x) \geq 0$ pentru

$x \in$ [ ] ."

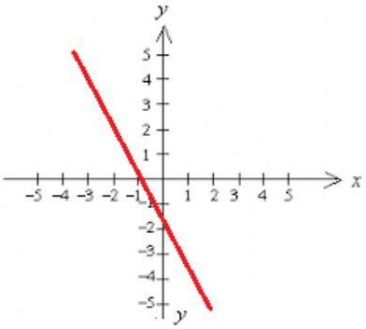

3. In desenul alăturat este reprezentat graficul funcției

$f: \mathbb{R} \to \mathbb{R}, \quad f(x) = ax + b.$

Să se completeze caseta, astfel încît să se obțină o propoziție adevărată.

„ $f(x) < 0$ pentru

$x \in$ [ ] ."

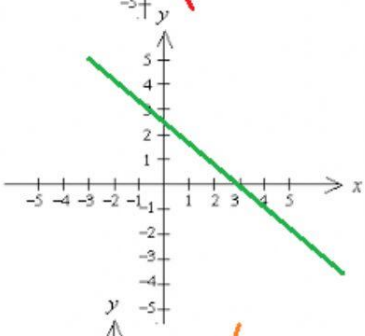

3. In desenul alăturat este reprezentat graficul funcției

$f: \mathbb{R} \to \mathbb{R}, \quad f(x) = ax + b.$

Să se completeze caseta, astfel încît să se obțină o propoziție adevărată.

„ $f(x) \leq 0$ pentru

$x \in$ [ ] ."

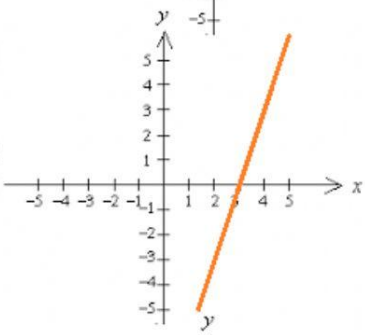

3. In desenul alăturat este reprezentat graficul funcției

$f: \mathbb{R} \to \mathbb{R}, \quad f(x) = ax + b.$

Să se completeze caseta, astfel încît să se obțină o propoziție adevărată.

„ $f(x) = 0$ pentru

$x =$ [ ] ."

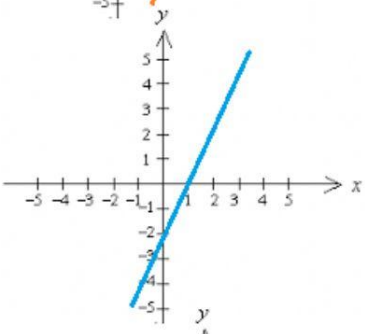

3. In desenul alăturat este reprezentat graficul funcției

$f: \mathbb{R} \to \mathbb{R}, \quad f(x) = ax + b.$

Să se completeze caseta, astfel încît să se obțină o propoziție adevărată.

„ $f(x) = 0$ pentru

$x =$ [ ] ."

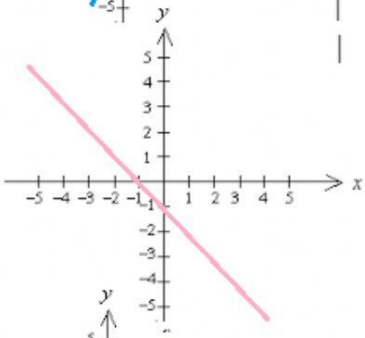

3. In desenul alăturat este reprezentat graficul funcției

$f: \mathbb{R} \to \mathbb{R}, \quad f(x) = ax + b.$

Să se completeze caseta, astfel încît să se obțină o propoziție adevărată.

„ $f(x) = 0$ pentru

$x =$ [ ] ."

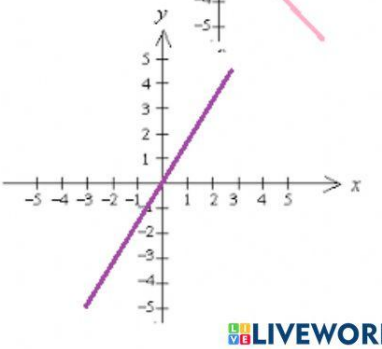

LIVEWORKSHEETS