2. Fie funcția $f: R \to R, f(x) =$ **5x-2**
Panta dreptei ce reprezintă graficul funcției f este egală cu ☐.

2. Fie funcția $f: R \to R, f(x) =$ **-3x+4**
Panta dreptei ce reprezintă graficul funcției f este egală cu ☐.

2. Fie funcția $f: R \to R, f(x) =$ **x-5**
Panta dreptei ce reprezintă graficul funcției f este egală cu ☐.

2. Fie funcția $f: R \to R, f(x) =$ **-x+8**
Panta dreptei ce reprezintă graficul funcției f este egală cu ☐.

2. Folosind graficul funcției $f: R \to R, f(x) = mx + b$, reprezentat în desen, scrieți unul dintre semnele ">", "<" sau "=", astfel încît propoziția obținută să fie adevărată.

m ☐ 0.

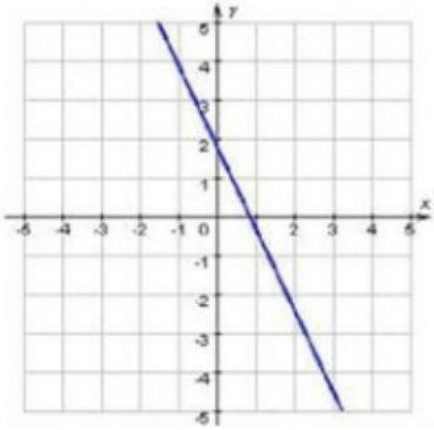

2. Folosind graficul funcției $f: R \to R, f(x) = mx + b$, reprezentat în desen, scrieți unul dintre semnele ">", "<" sau "=", astfel încît propoziția obținută să fie adevărată.

m ☐ 0.

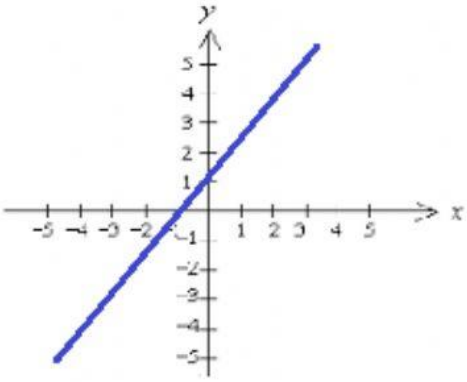

2. Folosind graficul funcției $f: R \to R, f(x) = mx + b$, reprezentat în desen, scrieți unul dintre semnele ">", "<" sau "=", astfel încît propoziția obținută să fie adevărată.

m ☐ 0.

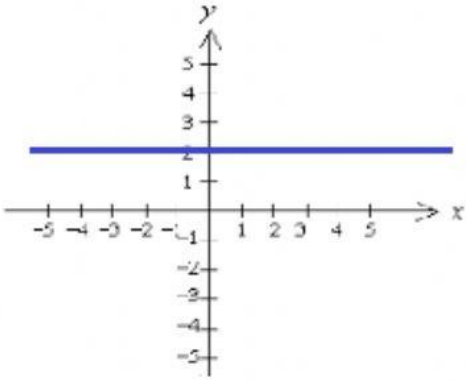

LIVEWORKSHEETS