1.- Las siguientes imágenes muestran los núcleos teñidos de varias células en distintas etapas de su ciclo. Identifica cada etapa e indica el orden en el que ocurren.

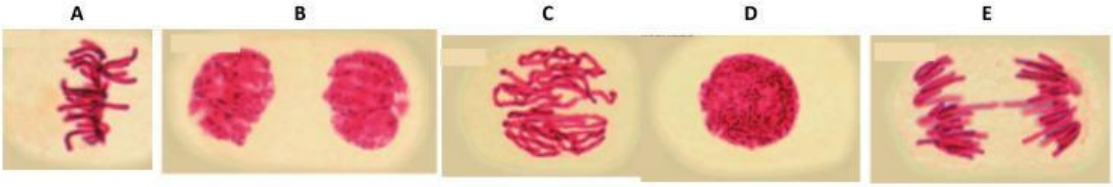

2.- ¿En qué tipo de ácido nucleico vamos a encontrar las siguientes estructuras?

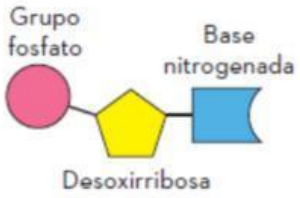

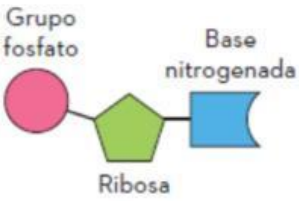

LIVEWORKSHEETS