UNIDAD EDUCATIVA "CIUDAD DE PORTOVELO"
MATEMÁTICAS
BÁSICA SUPERIOR – NOVENO GRADO

FUNCIÓN LINEAL

Tabla de Valores y representación gráfica

- **Analiza, calcula y completa las siguientes tabla de valores**

Tabla de valores

Representación gráfica

$f(x) = x - 3$

x	f(x)
-3	
-1	
2	

Ubica los puntos rojos en el plano cartesiano

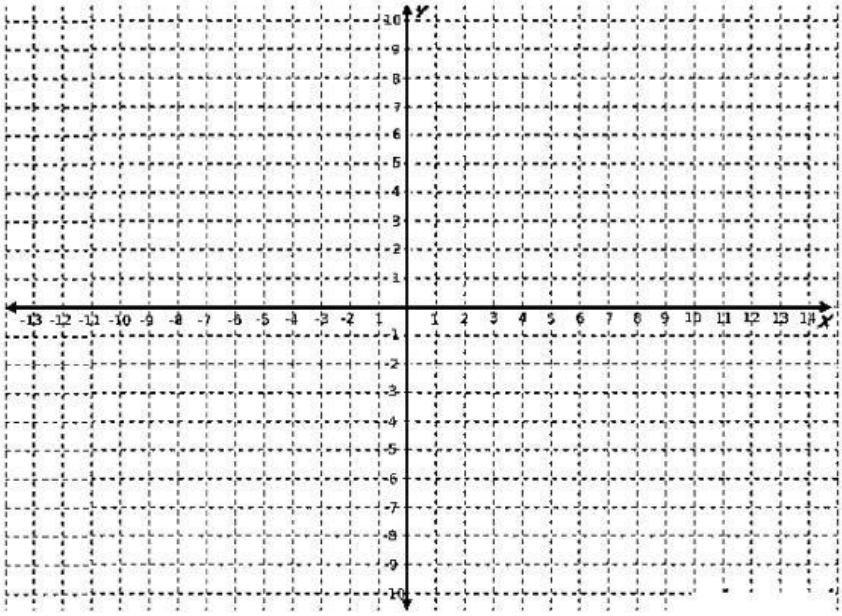

Tabla de valores

Representación gráfica

$f(x) = x + 3$

x	f(x)
-3	
-1	
2	

Ubica los puntos rojos en el plano cartesiano

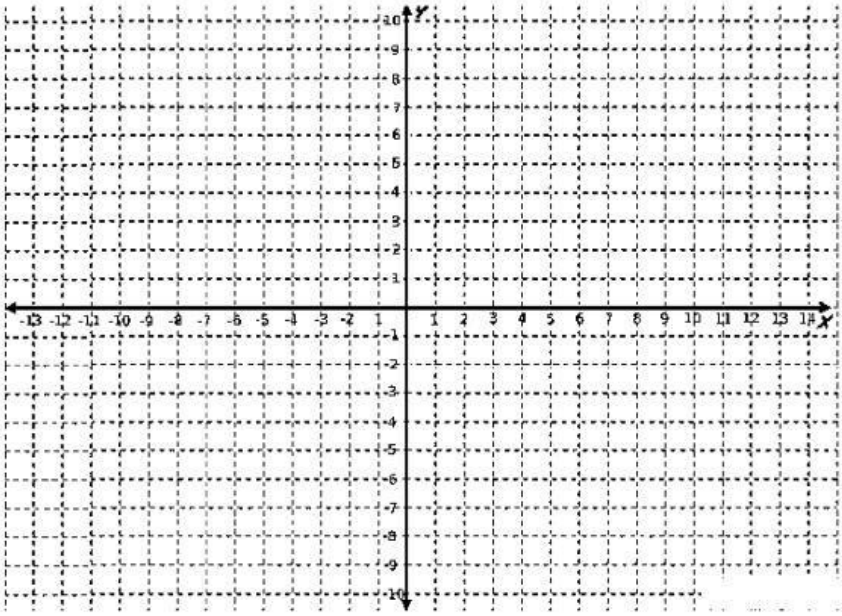

LIVEWORKSHEETS

UNIDAD EDUCATIVA "CIUDAD DE PORTOVELO"

MATEMÁTICAS

BÁSICA SUPERIOR – NOVENO GRADO

Tabla de valores

$f(x) = 2x - 4$

x	f(x)
-3	
-1	
2	

Ubica los puntos rojos en el plano cartesiano

Representación gráfica

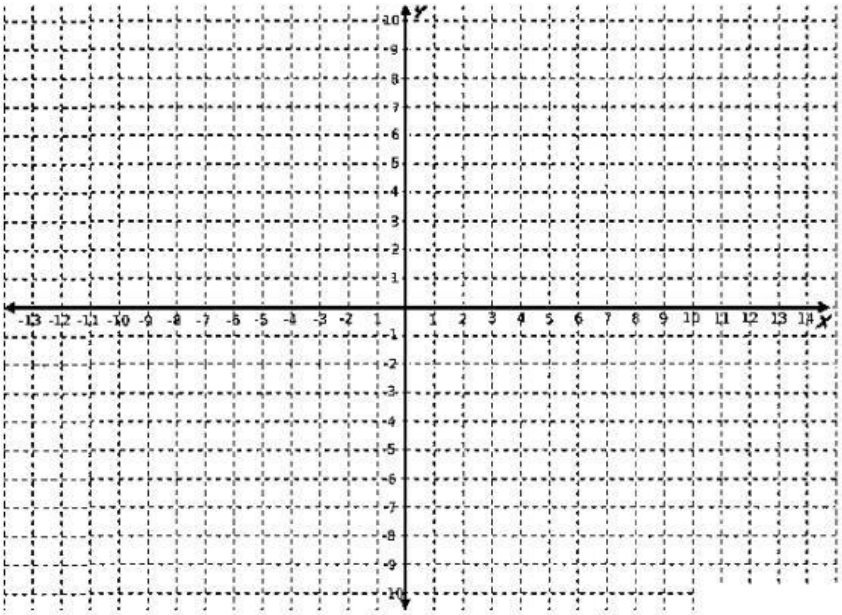

LIVEWORKSHEETS