До уроку:

ДОСЛІДЖУЄМО ТАБЛИЦІ ДОДАВАННЯ ЧИСЕЛ ДРУГОЇ П'ЯТІРКИ

1 Склади істинну рівність або нерівність. Намалюй відповідну кількість трикутників.

3 = □



4 > □



□ < 9



□ > 2

2 Склади вирази, скориставшись підказкою.

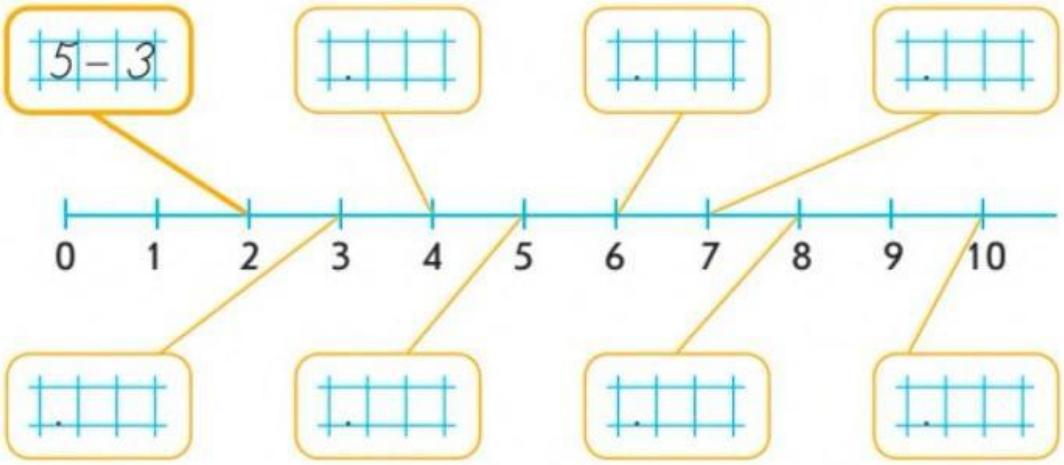

мені було легко

у мене були сумніви

мені було складно

LIVEWORKSHEETS