QUIZ MATEMÁTICAS PRIMER PERIODO 1°

Comparar cantidades

Recuerda;

Mayor que > | Menor que < | Igual =

Compara las siguientes cantidades usando > , < o =

> < < = > < = < > < >

45		29	9		18
32		21	13		50
20		20	90		80
10		11	5		3
14		41	1 decena		10

LIVEWORKSHEETS

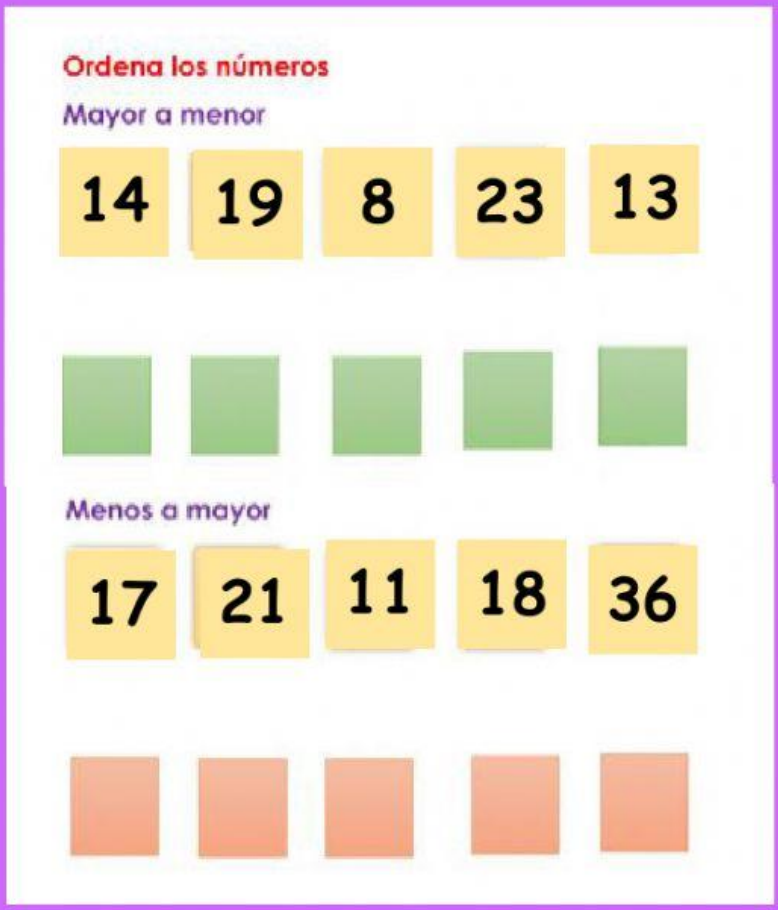

Ubica el numero anterior y el numero posterior según corresponda



LIVEWORKSHEETS

1. Coloca cada número en su lugar correspondiente.

Primero		4º
Segundo		5º
Tercero		3º
Cuarto		2º
Quinto		1º
Sexto		6º
Séptimo		10º
Octavo		9º
Noveno		8º
Décimo		7º

LIVEWORKSHEETS

2. Hemos colocado las sillas de clase en orden para un juego. ¿Qué lugar ocupa cada alumno?



Candela → primero

Elena → ____

Mario → ____

Pedro → ____

LIVEWORKSHEETS