Картка 14. Органи чуття.

Завдання 1. Підпишіть будову ока та його допоміжного апарата.

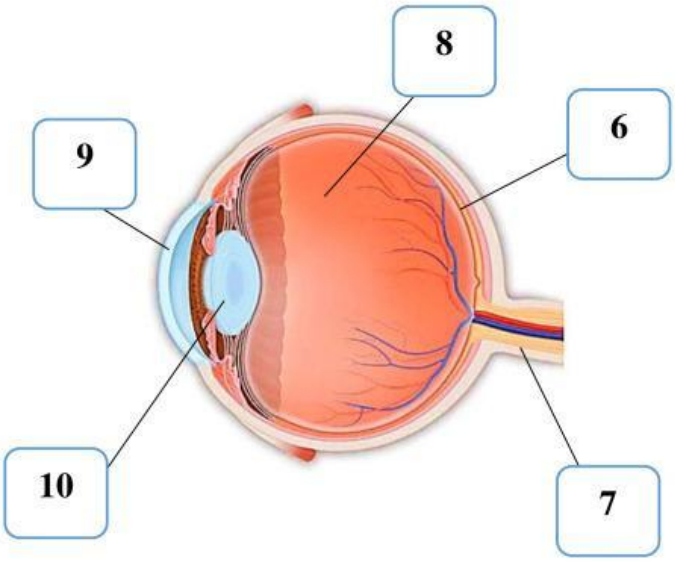

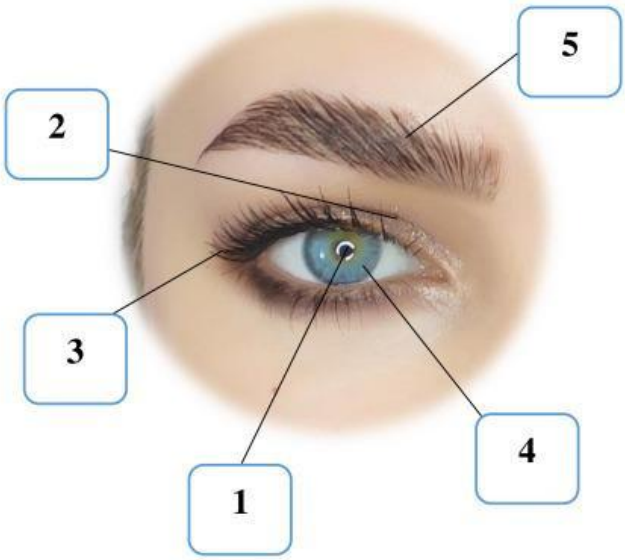

1._____ 6._____

2. _____ 7._____

3._____ 8._____

4._____ 9._____

5._____ 10._____

Завдання 2. Зіставте цифрові позначення будови вуха з їх назвою.

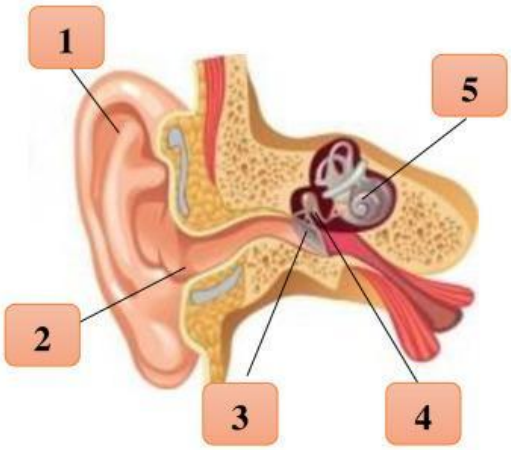

Вушна раковина

Слухові кісточки

слуховий прохід

Завитка

Барабанна перетинка

LIVEWORKSHEETS

LIVEWORKSHEETS