Картка 13. Хто керує процесами в нашому тілі.

Завдання 1. Вставте пропущенні слова в тексті.

Нервова система складається з головного, спинного мозку і нервів.

Улюдини є _____пар черепномозкових нервів, і _____пара спинномозкових.

Основними клітинами нервової системи є_____.

Реакція організму на різні впливи за участю нервової системи називають_____

Завдання 2.Позначте складові будови нейрона. Заповніть таблицю.

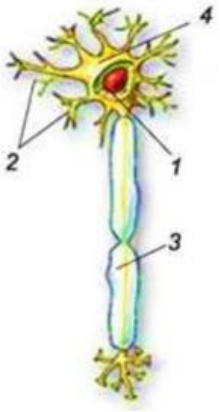

	тіло
	аксон
	дендрити
	ядро

Завдання 3. Позначте складові нейронної дуги. Заповніть таблицю.

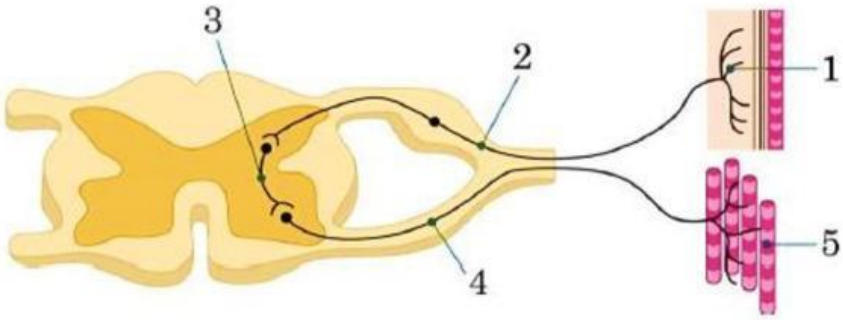

	Шкіра
	Робочий орган
	Чутливий нейрон
	Вставний нейрон
	Руховий нейрон

LIVEWORKSHEETS

Завдання 4. Перетягніть назви відділу головного мозку до відповідних цифр.

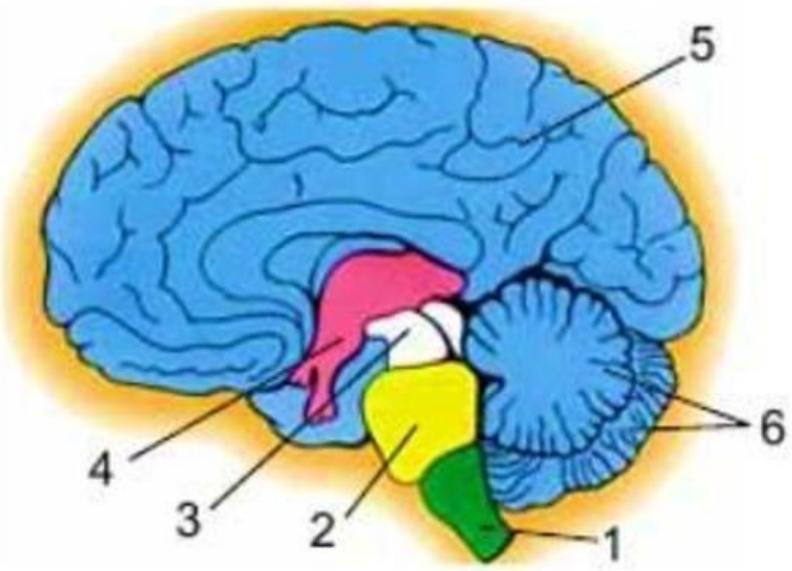

Проміжний мозок

Довгастий мозок

Кінцевий мозок

Середній мозок

Міст

Мозочок

Завдання 5.Позначте відділи хребта.

	Куприковий відділ
	Шийний відділ
	Грудний відділ
	Поперековий відділ
	Крижовий відділ

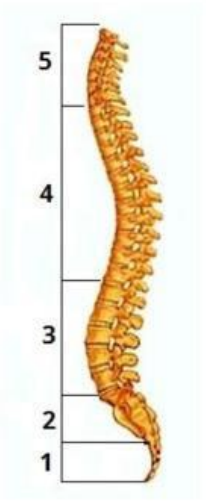

LIVEWORKSHEETS