3º ANO

MATEMÁTICA

RUBRICA :

Nome : _____

Data : ___/___/____

INFORMAÇÃO : _____

1 Lê e escreve os números ordinais.

9.º	_____		sétimo
13.º	_____		décimo quinto
21.º	_____		vigésimo oitavo

2 Ordena os números por ordem DECRESCENTE.

682 268 602 912 509 284

_____ > _____ > _____ > _____ > _____ > _____

3 Escreve os números por extenso.

245	_____
497	_____
823	_____
1504	_____
1771	_____

4 Coloca os números na recta graduada.

300 450 650 800

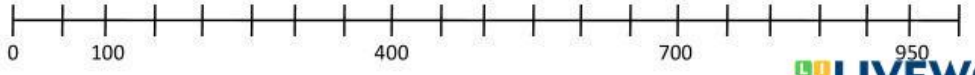

LIVEWORKSHEETS

5 Utiliza a simbologia >, < ou =.

80 + 70		150	1500		1000 + 500
6 x 4		6 x 5	550 – 150		350
65 + 15		70 + 10	6 x 3		2 x 9

6 Relaciona correctamente.

150 ◎	◎ 8 dezenas
1005 ◎	◎ 6 centenas
600 ◎	◎ 1 milhar e 5 unidades
80 ◎	◎ centena e meia

7 Decompõe.

736	=		+		+			
891	=		+		+			
1502	=		+		+		+	
1856	=		+		+		+	

8 Compõe

	=	700	+	80		=	600	+	41
	=	500	+	53		=	400	+	6
	=	600	+	200		=	1000	+	100
	=	500	+	123		=	800	+	150

LIVEWORKSHEETS

9 Completa a sequência.

755	750						

10 Efectua.

383 + 216 =	854 + 328 =	421 + 235 + 147 =
764 - 532 =	563 - 57 =	409 - 155 =
345 x 3 =	672 x 5 =	703 x 4 =

11 Escreve o nome dos sólidos geométricos.

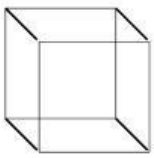

_____

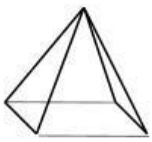

_____

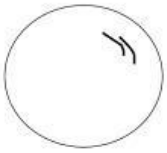

_____



_____

LIVEWORKSHEETS