Nom: _____Data:_____

Tema 6: Longitud i superfície
Repàs 02

1- Completa les equivalències:

146 dm = _____ cm 23 Hm =_____ m 14 Hm = _____Dam

0,14 m =_____ mm 1,45 cm = _____ m 1 cm = _____Hm

2- Escriu la part entera i la part decimal:

	p. entera	p.decimal
34,6 m		
0,369 Hm		
240,1 cm		

3- Escriu aquestes mesures incomplexes d'una forma complexa:

3,64 Km= _____ 0,45 Dam= _____

CORREGIR A CLASSE

3.008 dm= _____ 34 dm= _____

4- Relaciona les longituds que són iguals. Per a saber-ho passa-les totes a la mateixa unitat.

5- Calcula l'àrea d'aquestes figures:

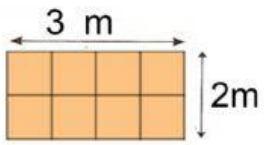

m^2

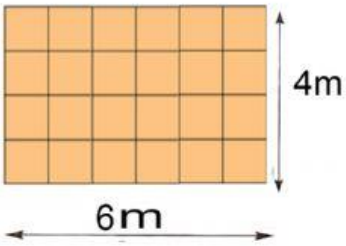

m^2

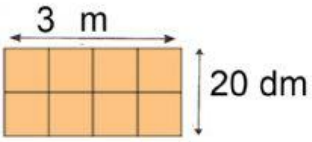

m^2

LIVEWORKSHEETS