Petunjuk: Seret titik Hitam (yang merupakan peta)

1. (2,-1) direfleksi terhadap sumbu x

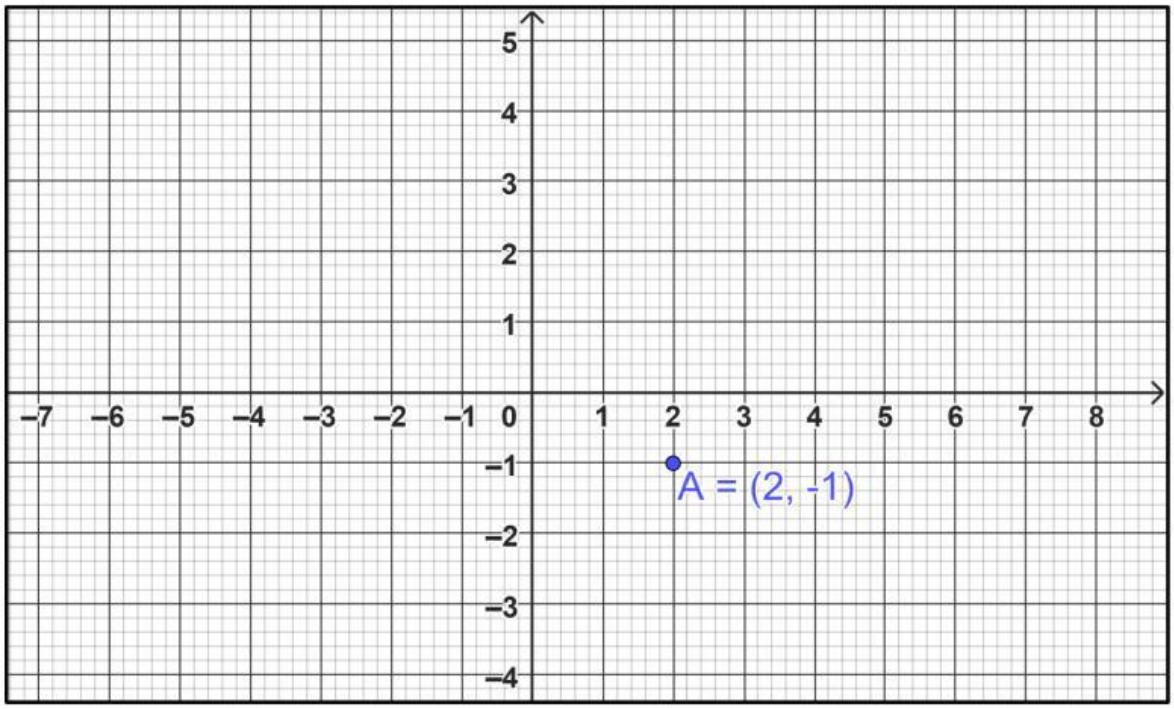

2. (2,-1) direfleksi terhadap sumbu y

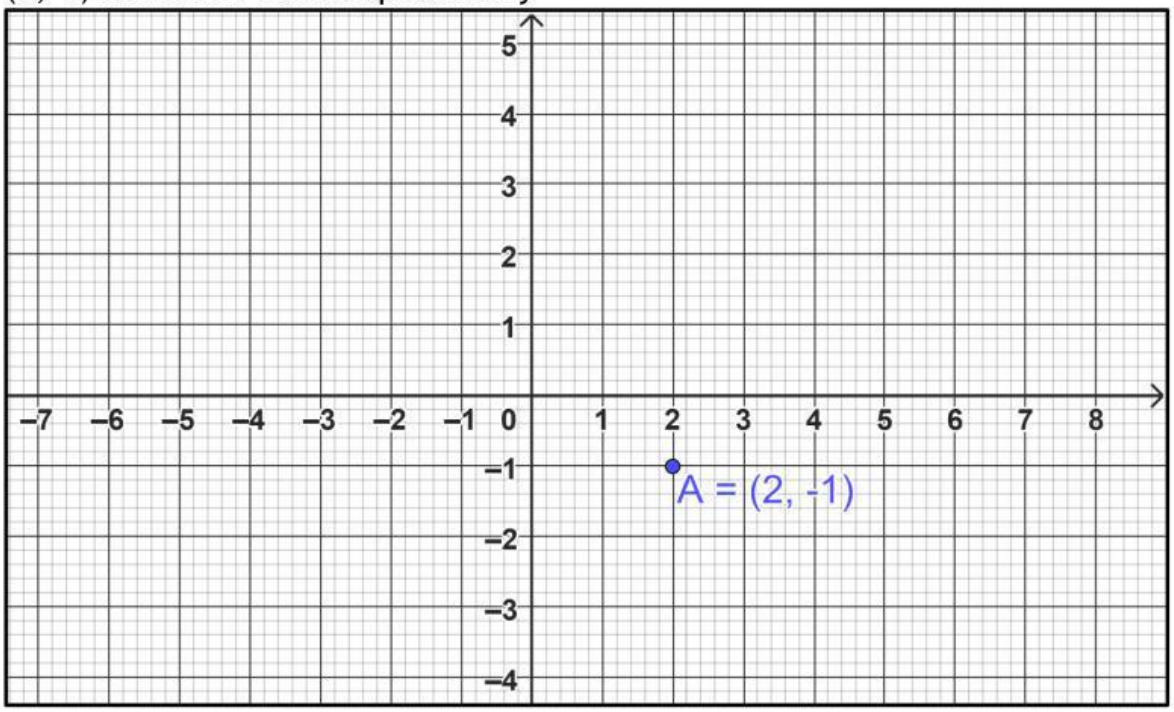

LIVEWORKSHEETS

3. (2,-1) direfleksi terhadap garis x=5

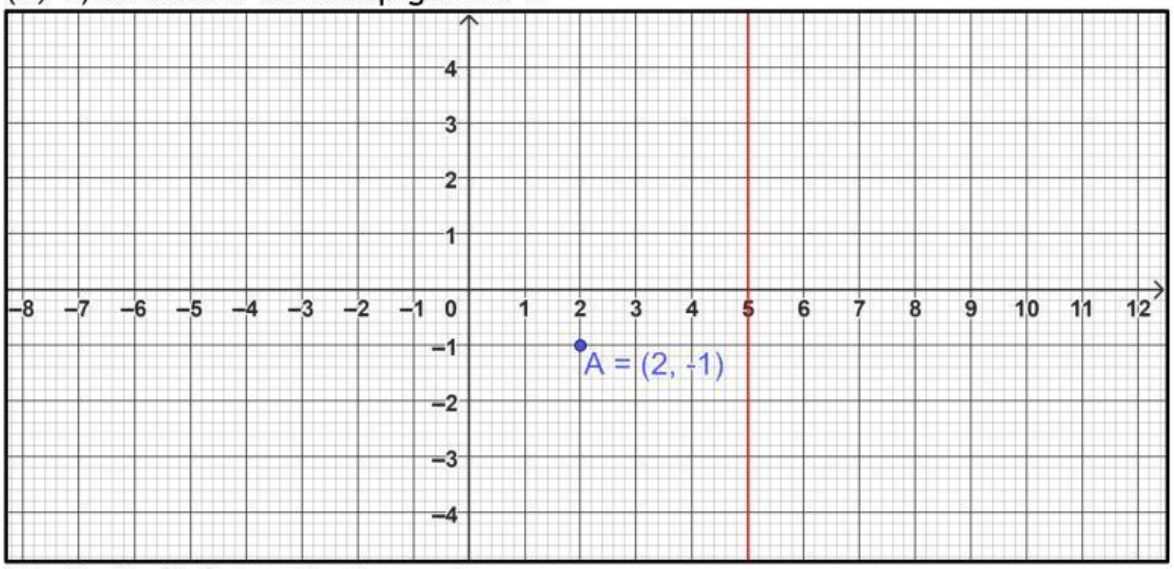

4. (2,-1) direfleksi terhadap garis y=x

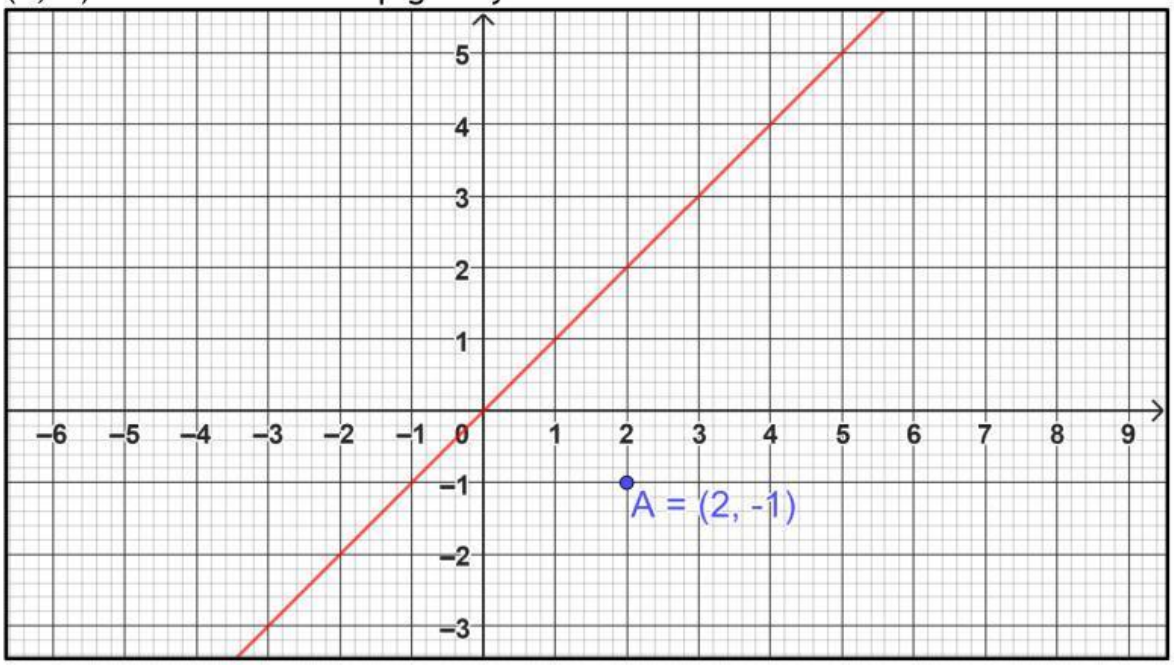

LIVEWORKSHEETS

5. (2,-1) direfleksi terhadap garis y=-x

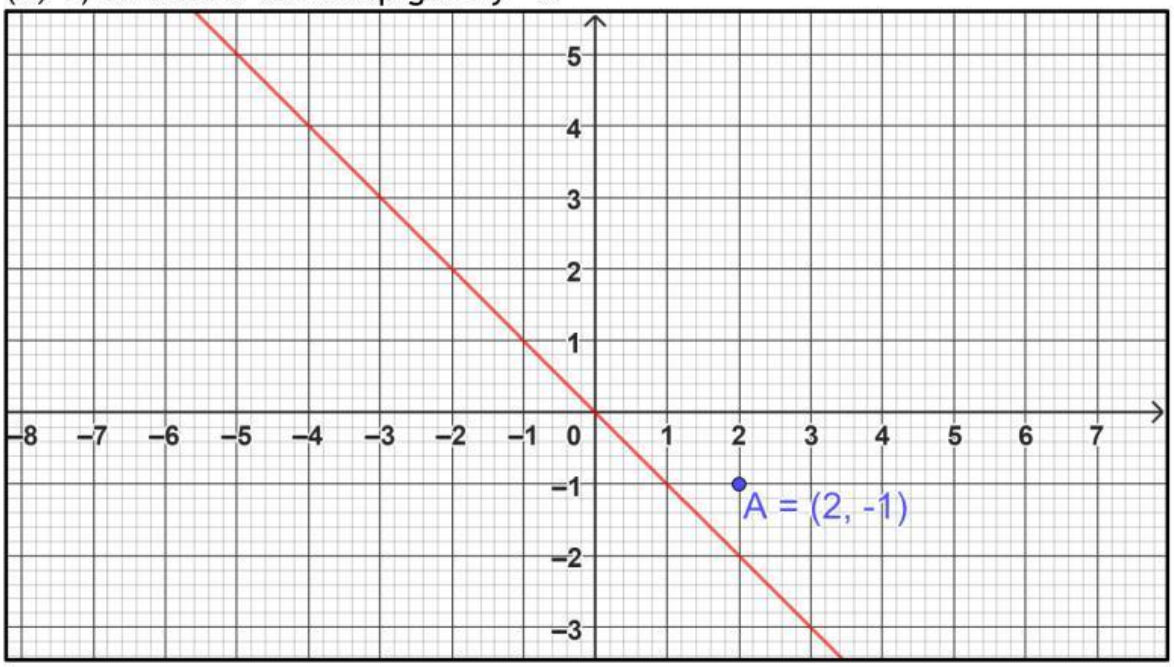

6. (2,-1) direfleksi terhadap titik (0,0)

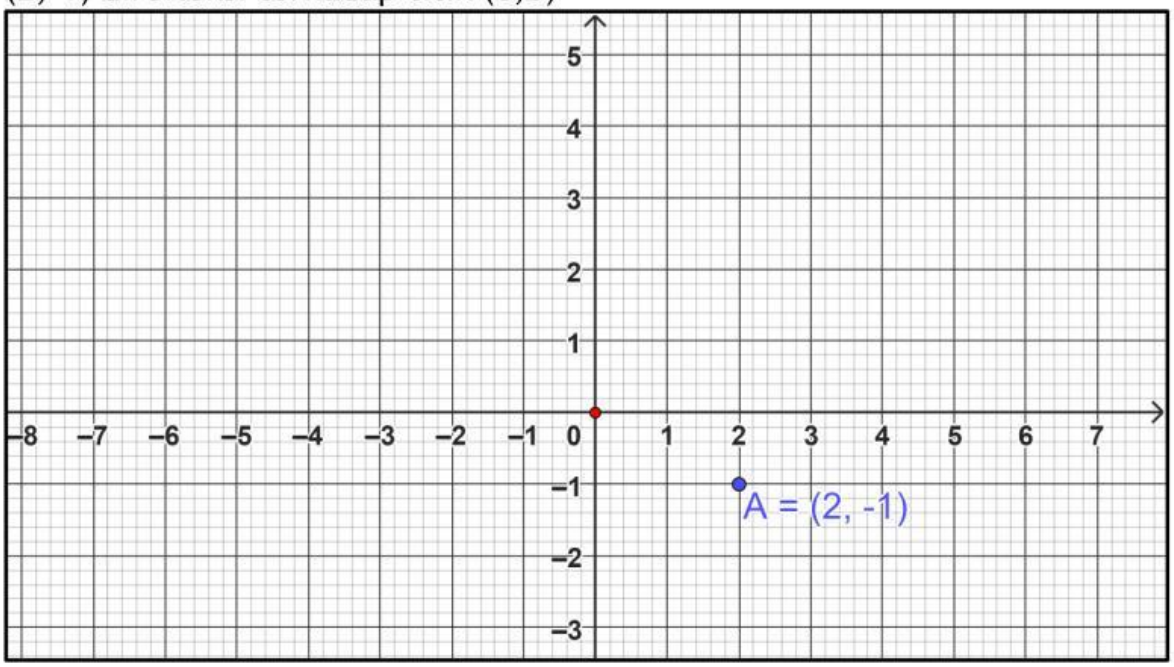

LIVEWORKSHEETS

Petunjuk: Buat garis dari kiri ke kanan yang sesuai dengan petanya!

No	Refleksi Titik
1	(2,-1) direfleksi terhadap sumbu x
2	(2,-1) direfleksi terhadap sumbu y
3	(2,-1) direfleksi terhadap garis x=5
4	(2,-1) direfleksi terhadap garis y=5
5	(2,-1) direfleksi terhadap garis y=x
6	(2,-1) direfleksi terhadap garis y=-x
7	(2,-1) direfleksi terhadap titik (0,0)

Petanya
(2,11)
(-2,-1)
(2,1)
(-1,2)
(-2,1)
(8,-1)
(1,-2)

Petunjuk: angkat jawaban/petanya dari kanan menuju ke kiri/soal

No	Refleksi Titik
1	Garis y=2x-1 direfleksikan ke sumbu x, petanya adalah
2	Garis y=2x-1 direfleksikan ke sumbu y, petanya adalah
3	Garis y=2x-1 direfleksikan ke garis x=5, petanya adalah
4	Garis y=2x-1 direfleksikan ke garis y=5, petanya adalah
5	Garis y=2x-1 direfleksikan ke garis y=x, petanya adalah
6	Garis y=2x-1 direfleksikan ke garis y=-x, petanya adalah
7	Garis y=2x-1 direfleksikan ke titik (0,0), petanya adalah

Petanya
y=2x+1
x-2y-1=0
x-2y+1=0
y=-2x+11
y=-2x+19
y=-2x-1
y=-2x+1

LIVEWORKSHEETS