SAINS TAHUN 4 FIKIR NAMA MURID : _____

Tajuk : Proses perkumuhan dan penyahtinjaan manusia.

1. Padankan proses perkumuhan dan proses penyahtinjaan dengan defininisnya yang betul.

Proses perkumuhan	Proses penyingkiran makanan tidak tercerna daripada badan
Proses penyahtinjaan	Proses penyingkiran bahan buangan daripada badan

2. Labelkan organ perkumuhan di bawah. Letak perkataan tersebut dalam petak yang betul.

Ginjal | Peparu | Kulit

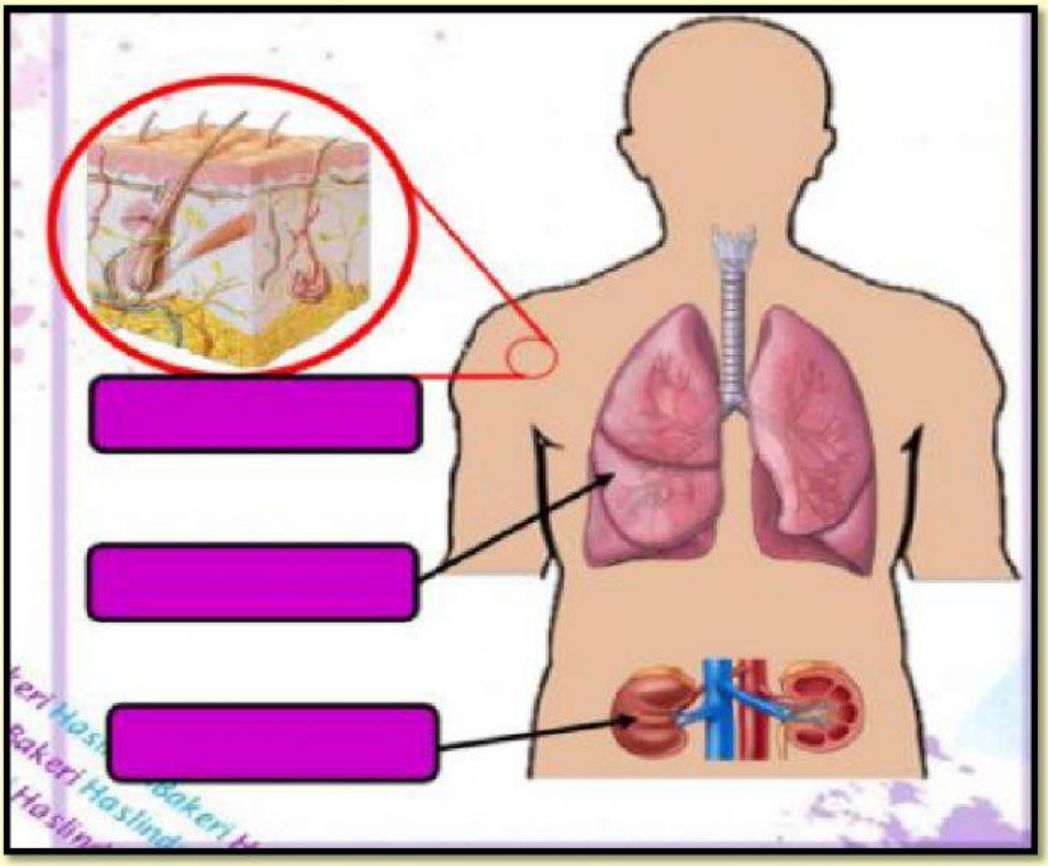

LIVEWORKSHEETS

SAINS TAHUN 4 FIKIR NAMA MURID : _____

3. Lengkapkan jadual di bawah dengan bahan kumuh yang betul. Heretkan hasil buangan tersebut ke dalam petak bahan buangan.

Wap air **Peluh** **Air kencing** **Karbon dioksida**

Organ perkumuhan	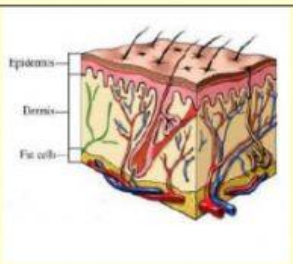		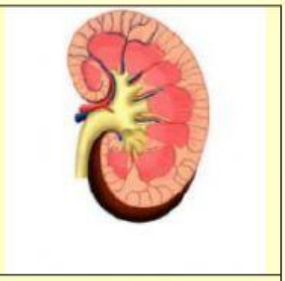
Bahan buangan			

4. Tuliskan jawapan untuk proses penyahtinjaan dalam petak yang disediakan.

- dubur
- usus besar
- usus kecil
- tinja

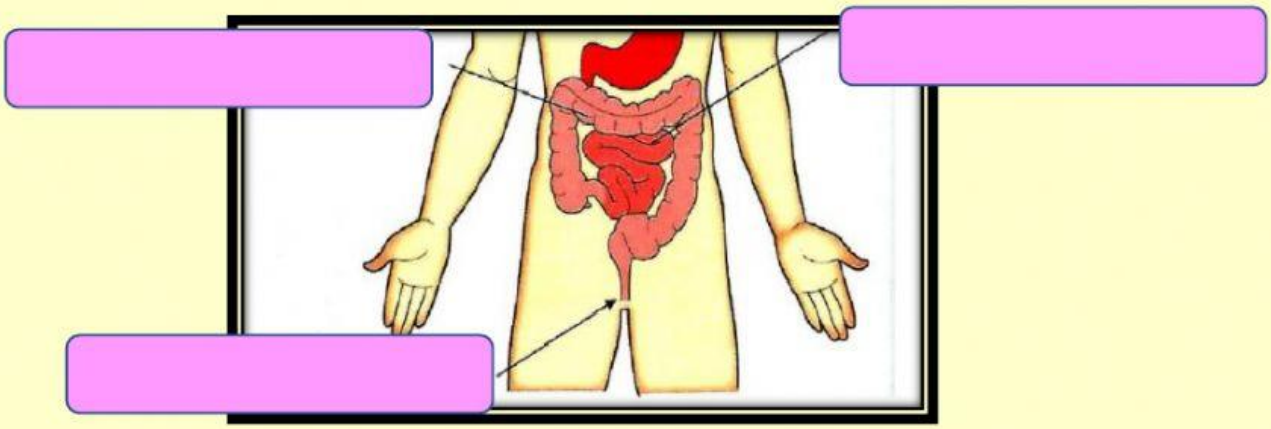

5. Hasil buangan proses penyahtinjaan ialah _____

LIVEWORKSHEETS

SAINS TAHUN 4 FIKIR NAMA MURID : _____

6. Isikan tempat kosong dengan jawapan yang betul. Heretkan jawapan kamu ke dalam ruangan jawapan di bawah.

karbon dioksida | kumuh | ginjal

makanan | tinja | dubur

a. Perkumuhan ialah proses menyingkirkan sisa _____ daripada badan.

b. Penyahtinjaan ialah proses menyingkirkan sisa _____ daripada badan.

c. Hasil perkumuhan disingkirkan oleh organ- organ seperti peparu, _____ dan kulit.

d. Hasil penyahtinjaan dikumpulkan di dalam usus besar dan disingkirkan melalui _____.

e. Sisa perkumuhan ialah _____, peluh, wap air dan air kencing.

f. Sisa pencernaan ialah _____.

Bersama cikgu RemyRegok

LIVEWORKSHEETS