KINGDOM OF BAHRAIN
Ministry of Education
Budayaa Primary & intermediate school

مملكة البحرين
وزارة التربية والتعليم
مدرسة البديع الابتدائية الإعدادية للبنات

نحن جيل لوطننا ننتمي ، بإنجازنا نحتفي، وللعلياء نرتقي

# متوازي الضلاع

اسم الطالبة :  الصف :

(١) استعملي ▱ أ ب جـ د المجاور لإيجاد قياس كل مما ياتى :

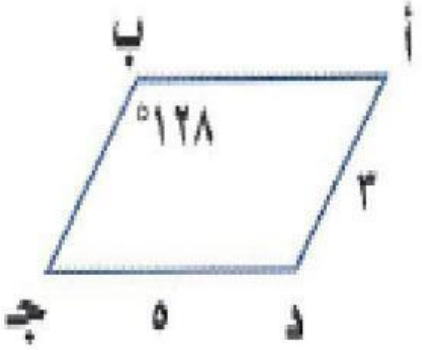


ق < جـ =  ب جـ =

أ ب =  ق< د =

(٢) اختري الإجابة الصحيحة مما يأتي :

في متوازي الأضلاع التالي أوجدي قيمة ص

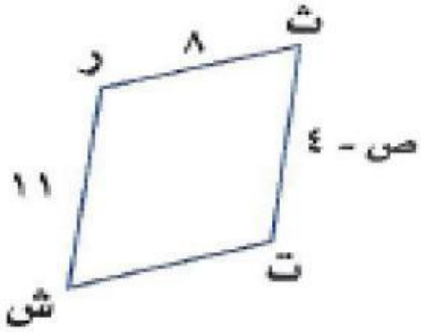


(أ) ١٥  (ب) ١١  (ج) ٨

في متوازي الأضلاع التالي أوجدي قيمة س

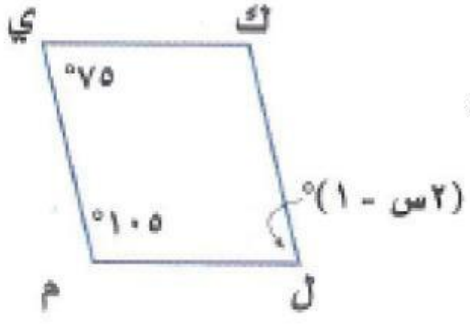


(أ) ١٠٥°  (ب) ٣٨°  (ج) ٧٥°

إعداد:أ.داليا عبد العظيم

LIVEWORKSHEETS