krychle

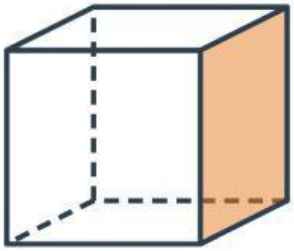

$S_{\square} = 8$



Co je to krychle?

A) čtverec

B) Kvadr

C) Má všechny strany stejně dlouhé

Dá se takto složit?

A) ANO

B) NE

vzorec

Využíváme ji doma?

A) ANO

B) NE

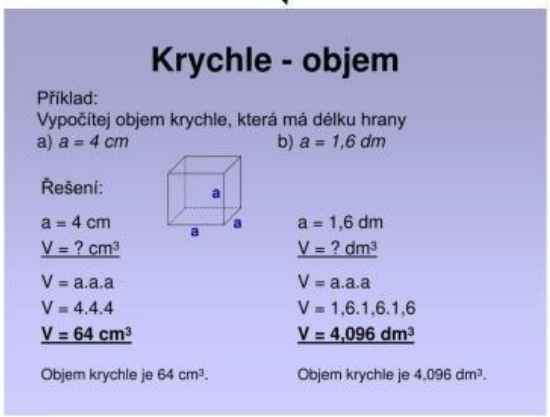

Krychle - objem

Příklad:
Vypočítej objem krychle, která má délku hrany
a) *a = 4 cm* b) *a = 1,6 dm*

Řešení:

a = 4 cm
V = ? cm³
V = a.a.a
V = 4.4.4
V = 64 cm³

Objem krychle je 64 cm³.

a = 1,6 dm
V = ? dm³
V = a.a.a
V = 1,6.1,6.1,6
V = 4,096 dm³

Objem krychle je 4,096 dm³.

LIVEWORKSHEETS