ДОСЛІДЖУЄМО КОЛО І КРУГ

1 Встанови відповідності, з' єднай фігуру і назву.

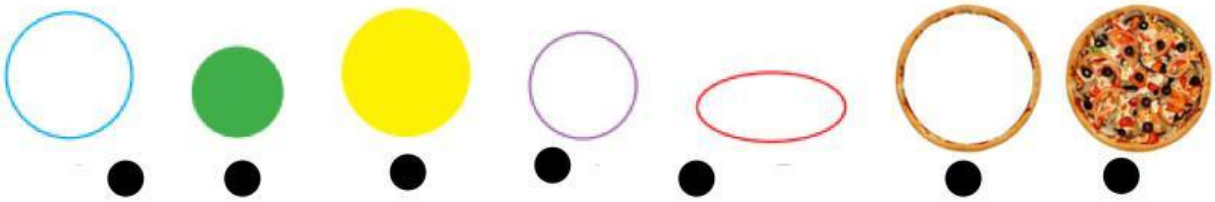

Коло ***Круг***

2 Розглянь малюнок. Познач істинні твердження.

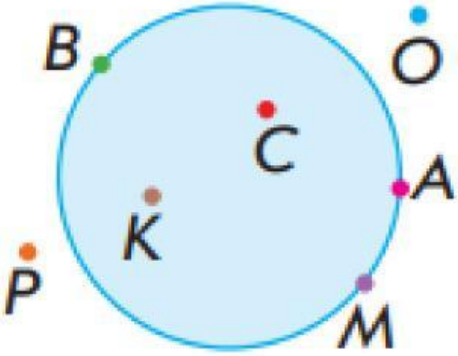

Точки B,K,C,A,M належать кругу.

Точки B,A,M належать колу.

Точки P, O не належать кругу і колу.

Точки C,K належать колу.

3 Розглянь малюнок. Назви :

центр кола

діаметр

радіус

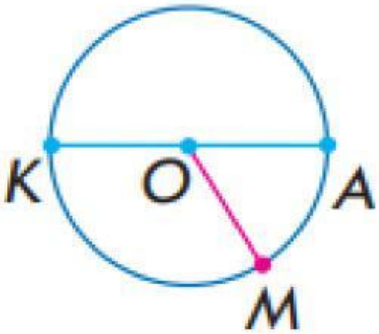

4 Знайди значення виразів та заповни таблицю.

a	78	17	34
b	9	6	8
a+b			
a-b			

Дякую за роботу, ти вправся!

WORKSHEETS