MATEMÁTICAS TERCER GRADO

Lee atentamente cada una de las preguntas y selecciona la respuesta correcta. Realiza las operaciones necesarias en tu cuaderno.

1.- Es el orden del menos largo al más largo.

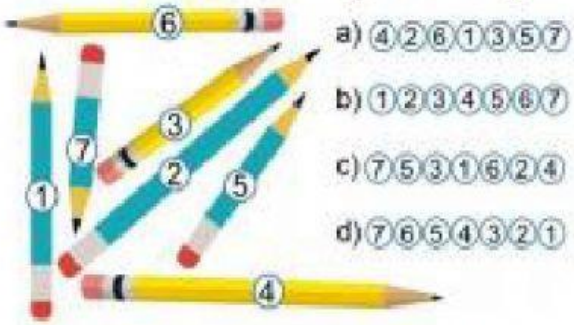

Observa la siguiente imagen y responde la pregunta 2 y 3

2.- ¿Qué objeto tendrá una longitud entre 7 y 8 cm?

a) Desarmador
b) Espátula
c) Pinzas
d) Llave

3.- ¿Qué objeto tiene la mayor longitud?

a) Desarmador
b) Espátula
c) Pinzas
d) Llave

4.- Según la gráfica, ¿Qué fruta es la favorita de los encuestados?

a) Mango
b) Melón
c) Uvas
d) Plátano

Observa el siguiente dibujo y contesta las preguntas 5 y 6

5.- ¿Qué está más cerca del ratón?

a) El gato
b) El queso
c) La escoba
d) La jaula de pájaro

6.- ¿Qué está más lejos del gato?

a) El ratón
b) El queso
c) La escoba
d) La jaula de pájaro

Observa la siguiente gráfica y contesta las preguntas 4 y 7

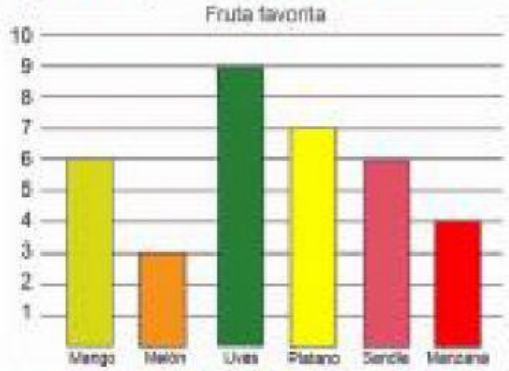

7.- ¿Cuántas personas fueron encuestadas?

a) 10
b) 15
c) 30
d) 35

¡ÉXITO!

LIVEWORKSHEETS

8.- Elige el vaso con 1/8 de agua.

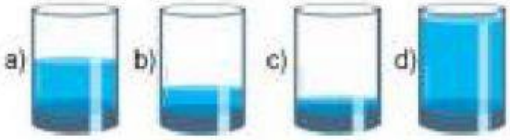

9.- Elige el vaso con 1/2 de jugo.

Observa la siguiente imagen y responde la pregunta 10 y 11

10.- ¿Cuántas botellas pequeñas se podrán llenar con la botella grande?

a) 2 botellas.
b) 6 botellas.
c) 4 botellas.
d) 8 botellas.

11.- ¿Cuántos vasos se pueden llenar con la botella pequeña?

a) 2 vasos
b) 6 vasos
c) 4 vasos
d) 8 vasos

12.- ¿Elije el símbolo > (mayor que), < (menor que) o = (igual), según corresponda?

$$\frac{2}{8} \quad \boxed{?} \quad \frac{1}{4}$$

a) > b) < c) = d) /

13.- ¿Qué número falta en la siguiente sucesión?

1273	1373	1473	1573	

a) 1283 b) 1383 c) 1574 d) 1673

14.- María ahorra dinero de lo que le dan sus papás para la escuela. Ya tiene 125 pesos y decide incrementar 25 pesos cada semana. ¿Cuánto tendrá ahorrado en 10 semanas?

a) 375 pesos
b) 250 pesos
c) 325 pesos
d) 150 pesos

15.- ¿Qué parte de la siguiente figura esta iluminada?

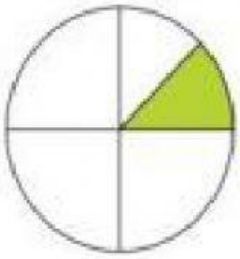

a) 1/2
b) 1/4
c) 1/6
d) 1/8

¡ÉXITO!

LIVEWORKSHEETS

16.- ¿Qué número falta en la siguiente sucesión de números?

3785,	3788,	3791,		3797,

a) 3892
b) 3893
c) 3894
d) 3895

17.- Indica cual es la regularidad de la siguiente sucesión numérica:

2313,	2321,	2329,	2337,	2345,

a) Incrementa de 4 en cuatro.
b) Disminuye de 7 en 7
c) Incrementa de 8 en 8
d) Disminuye de 8 en 8

Resuelve los problemas:

18.- Juan y María son hermanos. Juan tiene 10 años. Si María es 13 años mayor que él, ¿Cuántos años tiene María?

a) 15 años.
b) 20 años.
c) 23 años.
d) 33 años.

19.- Sofía fue al mercado y compró 16 pesos de huevo y 28 de jamón. Si llevaba 80 pesos, ¿Cuánto dinero le quedó?

a) 26 pesos.
b) 36 pesos.
c) 24 pesos.
d) 34 pesos.

20.- Si repartimos equitativamente las fresas en los tres recipientes. ¿Cuántas fresas tendrá cada uno?

a) 8 fresas.
b) 6 fresas.
c) 10 fresas.
d) 12 fresas

21.- Juan quiere poner 4 fresas en cada recipiente. Si en total tiene 28 fresas. ¿Cuántos recipientes necesita?

a) 4 recipientes.
b) 6 recipientes.
c) 7 recipientes.
d) 8 recipientes.

22.- ¿Cuántas calorías más se consumen si elegimos el cereal de la marca Chispita?

a) 12 calorías.
b) 10 calorías.
c) 122 calorías.
d) 132 calorías.

¡ÉXITO!

LIVEWORKSHEETS