Lembar Kerja Peserta Didik

LKPD

KESEBANGUNAN

Nama: .....

Kelas : .....

LIVEWORKSHEETS

PENDAHULUAN

KOMPETENSI DASAR

1. Menjelaskan dan menentukan kesebangunguan dan kekongruenan antar bangun datar
2. Menyelesaikan masalah yang berkaitan dengan kesebangunguan dan kekongruenan antar bangun datar

Tujuan Pembelajaran

1. Peserta didik dapat mengidentifikasi 2 benda/ bangun yang kongruen atau tidak
2. Peserta didik dapat menjelaskan syarat-syarat 2 bangun segi banyak yang kongruen

LIVEWORKSHEETS

LEMBAR KERJA PESERTA DIDIK

PETUNJUK PENGISIAN!

1. Bacalah do'a terlebih dahulu!
2. Isilah Identitas diri kalian!
3. Bacalah Perintah pada LKPD sebelum mengerjakan!
4. Lengkapi dan jawab pertanyaan dengan benar!
5. Tanyakan pada guru jika kurang jelas

SELAMAT MENGERJAKAN!

LIVEWORKSHEETS

RINGKASAN MATERI

KESEBANGUNAN

a. Sifat Kongruen 2 Bangun (Sebangun dan Kembar)
Dikatakan sebangun dan kongruen jika terdapat 2 buah bangun datar
dapat tepat berimpit dan saling menutup.

Syarat kekongruenan

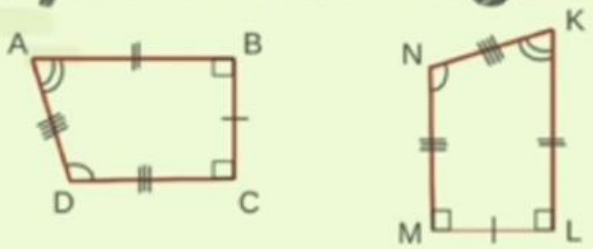

LIVEWORKSHEETS

KEGIATAN 1

KESEBANGUNAN & KEKONGRUENAN

Tentukan panjang sisi yang tidak diketahui dari setiap gambar di bawah ini! Pilih dan geser jawabanmu dari opsi yang disediakan.

4 6 9 12 15 18

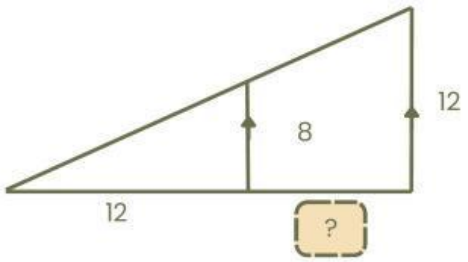

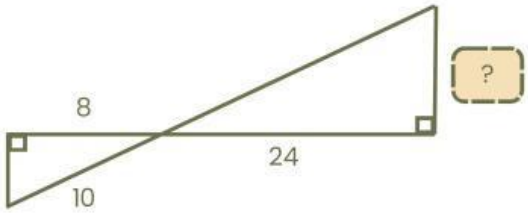

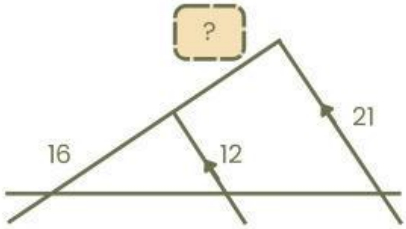

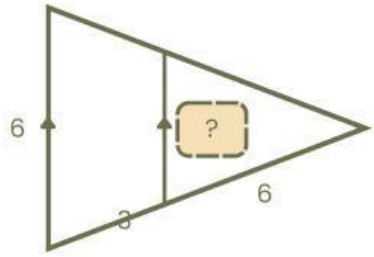

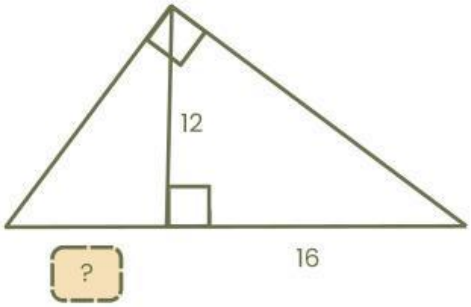

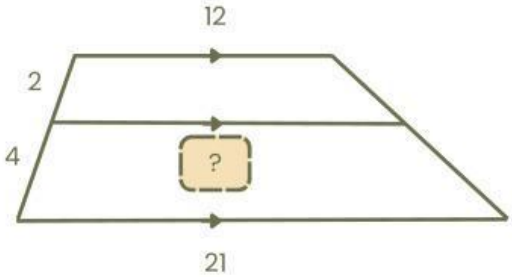

LIVEWORKSHEETS

Nama : Kelas :

KESEBANGUNAN & KEKONGRUENAN

Tentukan panjang sisi yang tidak diketahui dari setiap gambar di bawah ini! Pilih dan geser jawabanmu dari opsi yang disediakan.

4 6 9 12 15 18

Kunci Jawaban

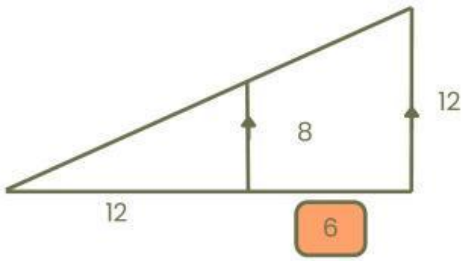

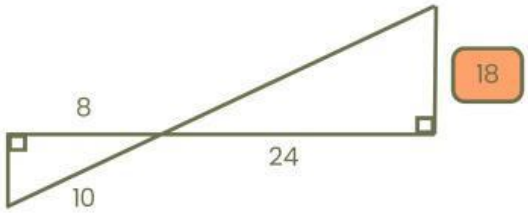

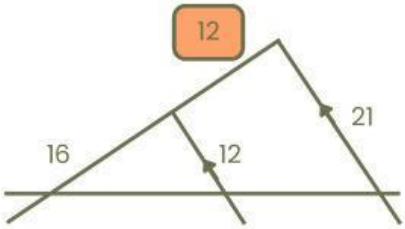

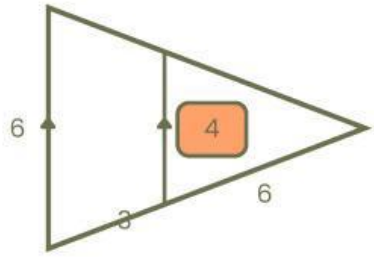

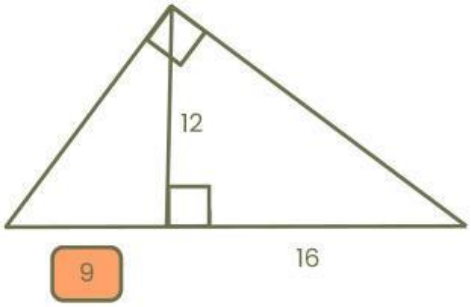

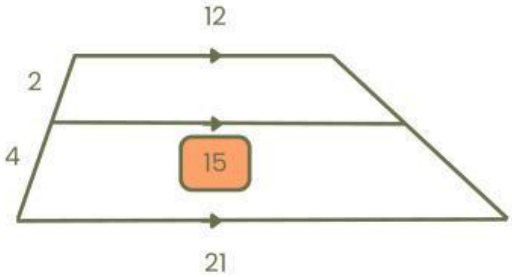

LIVEWORKSHEETS

Kegiatan 2

Mari Berpikir

1. APAKAH LUAS DAN DAN BANGUN KONGRUEN PASTI SAMA?

Jawab:

2. APAKAH DUA BANGUN DENGAN LUAS YANG SAMA PASTI KONGRUEN?

Jawab:

3. JELASKAN DENGAN GAMBAR ATAU DIAGRAM UNTUK MENDUKUNG JAWABAN MU!

LIVEWORKSHEETS