

1.Banyaknya sudut siku-siku pada bangun datar di atas yaitu . . .

A. 1

B. 2

C. 3

D. 4

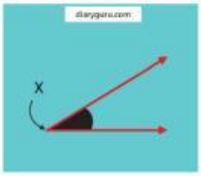

2. Huruf X pada gambar di atas menunjukkan bagian. . .

A. sudut

B. titik sudut

C. kaki sudut

D. sisi miring

3. Jenis sudut yang terbentuk pada gambar di atas yaitu. . .

A. sudut lancip

B. sudut siku-siku

C. sudut tumpul

D. sudut lurus

LIVEWORKSHEETS

4. Besar sudut yang terbentuk pada gambar di atas yaitu . .

A. sama dengan siku-siku

B. lebih kecil dari siku-siku

C. lebih besar dari siku-siku

D. sama dengan berpelurus

5.

Jenis sudut yang terbentuk pada gambar di atas yaitu. . .

A. sudut lurus

B. sudut lancip

C. sudut tumpul

D. sudut siku-siku

6. yang tidak termasuk perbedaan persegi dan persegi panjang ialah....

7.Komang menggambar sebuah sudut yang besarnya lebih dari 90° dan kurang dari 180°. Sudut yang digambar Komang dinamakan. . .

8.Adit menggunakan gunting untuk memotong kertas. Gunting tersebut terbuka dan membentuk sudut yang besarnya lebih dari 0° dan kurang dari 90°. Sudut tersebut dinamakan. . .

9.Sudut siku-siku adalah sudut yang besarnya. . .

10.Sudut yang besarnya 180° disebut . . .

11. 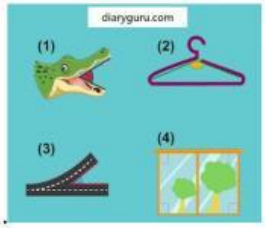

Benda yang membentuk sudut tumpul ditunjukkan oleh gambar nomor. . .

(1) (2)

(3) (4)

LIVEWORKSHEETS

12.Sudut yang terbentuk dari jarum pendek dan panjang pada jam analog di atas yaitu. . .

sudut refleks sudut tumpul

sudut siku-siku sudut lancip

13.Sudut yang terbentuk dari jarum pendek dan panjang pada jam analog di atas yaitu. . .

sudut refleks sudut tumpul

sudut siku-siku sudut lancip

14. 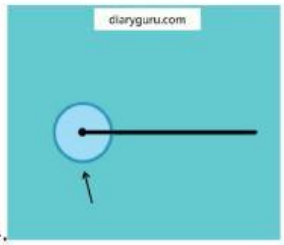

Tanda panah pada gambar di atas menunjukkan sudut . . .

sudut lurus sudut refleks

sudut tumpul sudut penuh

15 pasangkan ciri sudut dibawah in:

Lancip	besar sudut 90°
Siku - siku	besar sudut 180°
Tumpul	besar sudut dibawah 90°
Lurus	besar sudut diatas 90°
Reflek	besar sudut 360°

LIVEWORKSHEETS

LIVEWORKSHEETS