PRIETENI VESELI fișă de lucru/evaluare

SCĂDEREA numerelor formate din sute, zeci și unități cu trecere peste ordin

*Scrie în casete exercițiul corespunzător cerinței

1.Micșorează numărul 542 cu 328.

Descăzutul este 461, restul este 217. Află scăzătorul.

Află numărul cu 225 mai mic decât 751.

2. Iepurașul a rezolvat 152 de exerciții, căprioara 138. Cu câte exerciții a rezolvat iepurasul mai mult?

3. Calculează câte muște a prins fiecare broscuță , câte ghinde a adunat fiecare veveriță, câte banane a cules fiecare maimuță:



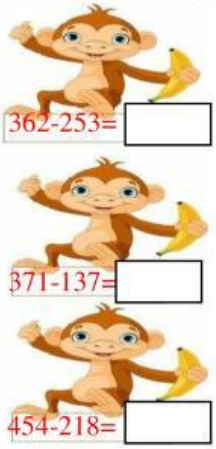

4. Calculează cine a câștigat concursul. Adună rezultatele finale.

Broscuțele:.....+.....+.....=.....

Maimuțele:.....+.....+.....=.....

Veveriițele :.....+.....+.....=.....

Locul I.....(scrie cu majuscule)

5. Bifează rezultatul corect:

408-279	320-276	687-569	545-326	692-438	818-633	903-394	674-457	952-725	239-189	658-399
12 9	**44**	**118**	**214**	**154**	**183**	**509**	**217**	**227**	**150**	**268**
☐	☐	☐	☐	☐	☐	☐	☐	☐	☐	☐

6. Scrie predecesorul apoi succesorul fiecărui număr dat:

☐ **427** ☐ ; ☐ **361** ☐ ; ☐ **850** ☐ ; ☐ **899** ☐ ; ☐ **600** ☐

7. Găsește rezultatul .Scrie în ordine <u>descrescătoare</u> rezultatele găsite pe etichete:

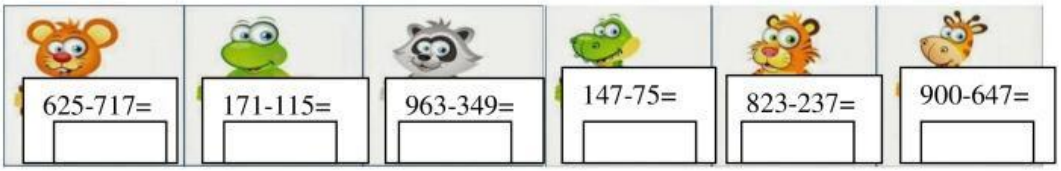

☐ ☐ ☐ ☐ ☐ ☐

LIVEWORKSHEETS