THẤU KÍNH-KÍNH LÚP

Hãy nối các hình với các nhận xét tương ứng

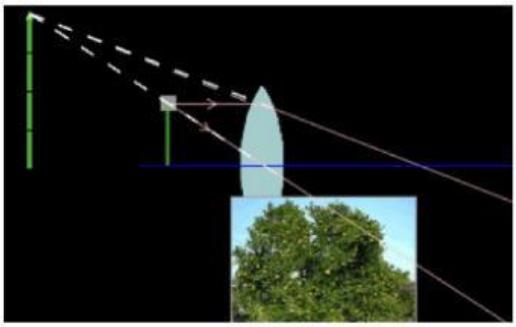

d=2f

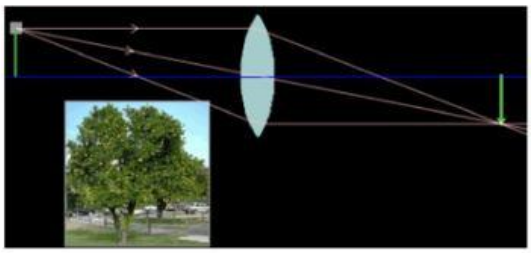

d<f

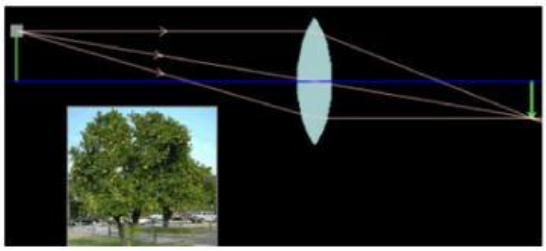

d>2f

Điền vào ô trống

Có hai loại thấu kính là và

Tia tới đi qua quang tâm thì tia ló

Tia tới qua tiêu điểm thì tia ló với trục chính

Tia tới song song với trục chính thì tia ló

LIVEWORKSHEETS