QUAN SÁT TRANH VÀ VIẾT PHÉP TÍNH THÍCH HỢP

Câu 1: Quan sát tranh, viết phép tính thích hợp

Câu 2: Quan sát tranh, viết phép tính thích hợp





Câu 3: Quan sát tranh, viết phép tính thích hợp





Câu 4: Quan sát tranh, viết phép tính thích hợp





LIVEWORKSHEETS

Câu 5: Quan sát tranh, viết phép tính thích hợp

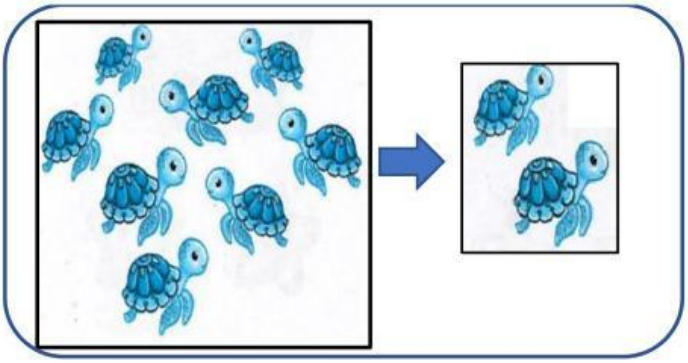

Câu 6: Quan sát tranh, viết phép tính thích hợp



Câu 7: Quan sát tranh, viết phép tính thích hợp

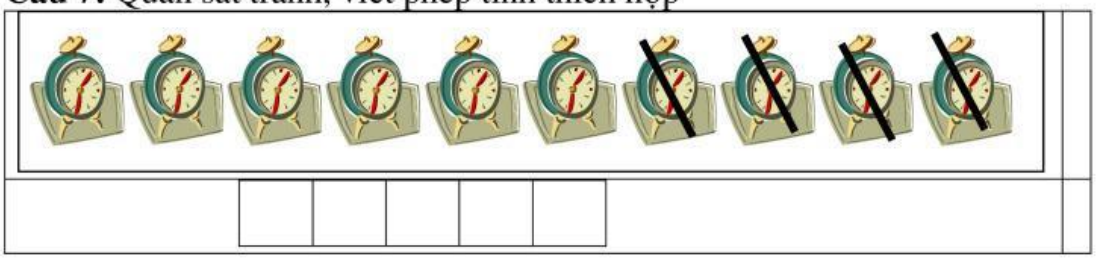

Câu 8: Quan sát tranh, viết phép tính thích hợp



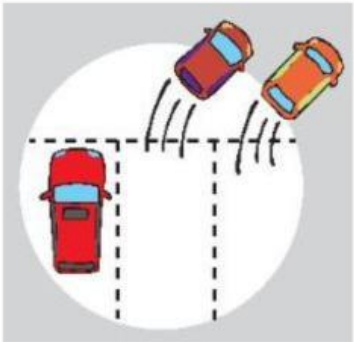

LIVEWORKSHEETS

DỰA VÀO TÓM TẮT VÀ VIẾT PHÉP TÍNH THÍCH HỢP

Câu 1: Viết phép tính thích hợp

a) Có : 3 con gà
Bán đi : 2 con gà
Còn : … con gà ?

b) Có : 7 con cá
Thêm : 3 con cá
Có tất cả : … con cá ?

Câu 2: Viết phép tính thích hợp

a) Có : 10 con gà
Bán đi : 6 con gà
Còn : … con gà ?

b) Tổ một: 5 bạn
Tổ hai: 4 bạn
Cả hai tổ: … bạn ?

Câu 3: Viết phép tính thích hợp

A. Có : 9 quả bóng
Bay đi : 1 quả bóng
Còn : … quả bóng ?

B. Tổ 1 có: 5 bạn nữ
Tổ 2 có: 3 bạn nữ
Cả hai tổ: …… bạn nữ ?

Câu 4: Viết phép tính thích hợp

a). Có : 9 quả bóng
Bay đi : 1 quả bóng
Còn : … quả bóng ?

b) Tổ 1 có: 5 bạn nữ
Tổ 2 có: 3 bạn nữ
Cả hai tổ: …… bạn nữ ?

Câu 5: Viết phép tính thích hợp

a). Có : 7 viên bi
Thêm : 3 viên bi
Có tất cả : … viên bi?

b) Có : 8 con mèo
Trèo cây : 2 con mèo
Còn : … con mèo ?

Câu 6: Viết phép tính thích hợp

a) Tổ em có: 4 bạn nam
Và : 6 bạn nữ
Tổ em có: … bạn ?

b) Anh câu : 5 con cá
Em câu : 4 con cá
Cả hai anh em câu: … con cá ?

LIVEWORKSHEETS

Câu 7: Viết phép tính thích hợp

a) Có : 5 cái kẹo
Thêm : 2 cái kẹo
Có tất cả…….. cái kẹo?

b) Có : 10 quả cam
Cho đi : 2 quả cam
Còn : … quả cam ?

LIVEWORKSHEETS