SALWA PATRISIA ADJIM (151422150)

LKPD

Lembar Kerja Peserta Didik

Tema : Pertumbuhan dan Perkembangan Makhluk Hidup
Sub Tema 1 : Ciri Ciri Makhluk Hidup

LIVEWORKSHEETS

MATERI

Makhluk hidup adalah makhluk yang memiliki ciri-ciri dapat bernapas, bergerak, tumbuh, berkembang biak, memerlukan makanan dan air, serta peka terhadap rangsangan.

Manusia, hewan, dan tumbuhan adalah contoh dari makhluk hidup.

ciri-ciri makhluk hidup

1. bernafas

Makhluk hidup memerlukan udara untuk hidup. Bernapas adalah proses menghirup udara dari lingkungan.

2.Bergerak

Makhluk hidup dapat bergerak sehingga dapat berpindah tempat.

Manusia dan hewan dapat berpindah dari satu tempat ke tempat lainnya. Tumbuhan juga dapat bergerak, namun pergerakannya terbatas.

3.Tumbuh

Makhluk hidup tumbuh seiring bertambahnya usia. Makhluk hidup tumbuh dari kecil menjadi besar.

4. Berkembang Biak

Makhluk hidup berkembang biak untuk menghasilkan keturunan dan melestarikan jenisnya.

LIVEWORKSHEETS

Langkah kerja

Kelompok .....
1.
2.
3.
4.

1. bacalah dan pahami materi dengan cermat
2. baca dan amati dengan seksama pertanyaan
3. pilihlah jawaban yang benar dengan tanda O

Soal Pilihan Ganda

1. Alat pernapasan utama pada tumbuhan adalah...
a. Hidung
b. Paru-paru
c. Stomata
d. Kulit
2. Selain insang, hewan juga bernapas menggunakan...
a. Mata dan telinga
b. Paru-paru, trakea, dan kulit
c. Kaki dan tangan
d. Mulut dan hidung
3. Jika suatu perkebunan menghasilkan 3.423 buah dalam satu kali panen, maka jumlah buah yang dihasilkan dalam dua kali panen adalah...
a. 6.846 buah
b. 5.423 buah
c. 4.999 buah
d. 3.425 buah
4. Pada musim panen dihasilkan 2 keranjang buah mangga. Jika keranjang pertama berisi 1.853 buah dan keranjang kedua berisi 3.146 buah, maka jumlah total buah mangga adalah...
a. 5.830 buah
b. 4.999 buah
c. 3.146 buah
d. 1.853 buah
5. Sebuah peternakan ayam menghasilkan 2.520 telur pada bulan pertama dan 3.310 telur pada bulan kedua. Total telur yang dihasilkan peternakan tersebut adalah...
a. 5.830 buah
b. 4.859 buah
c. 3.310 buah
d. 2.520 buah

LIVEWORKSHEETS

Langkah kerja

Kelompok .....
1.
2.
3.
4.

1. bacalah dan pahami materi dengan cermat
2. Amati gambar yang ada
3. Pilihlah gambar dibawah yang merupakan Makhluk Hidup
4.Pilihlah jawaban yang benar dengan tanda ✓



LIVEWORKSHEETS

Langkah kerja

Kelompok .....
1.
2.
3.
4.

1. bacalah dan pahami materi dengan cermat
2. Amati gambar dibawah
3. Buatlah garis hubung pada gambar dibawah dengan ciri-ciri makhluk hidup yang benar.



Bergerak

Tumbuh dan Berkembang

Bernafas

Berkembang Biak

LIVEWORKSHEETS

Langkah kerja

Kelompok .....
1.
2.
3.
4.

1. bacalah dan pahami materi dengan cermat
2. Amati gambar dibawah
3. hitunglah hasil penjumlahan dari gambar tersebut
4. tulislah jawaban yang benar pada titik titik.

..... = ...



..... = ...



..... = ...

LIVEWORKSHEETS