AYO MARI BELAJAR BERHITUNG

Nama : _____

Kelas : _____

LIVEWORKSHEETS

BERHITUNG

Hitunglah jumlah masing-masing benda di tiap baris.

LIVEWORKSHEETS

BERHITUNG

Hitunglah jumlah masing-masing benda di tiap baris.

LIVEWORKSHEETS

YUK AMATI GAMBAR DAN HITUNG JUMLAHNYA!

1



Ada ☐ kucing.

Lalu, datang ☐ kucing lainnya ikut bergabung.

Jadi, jumlah kucing semuanya ada ☐.

2

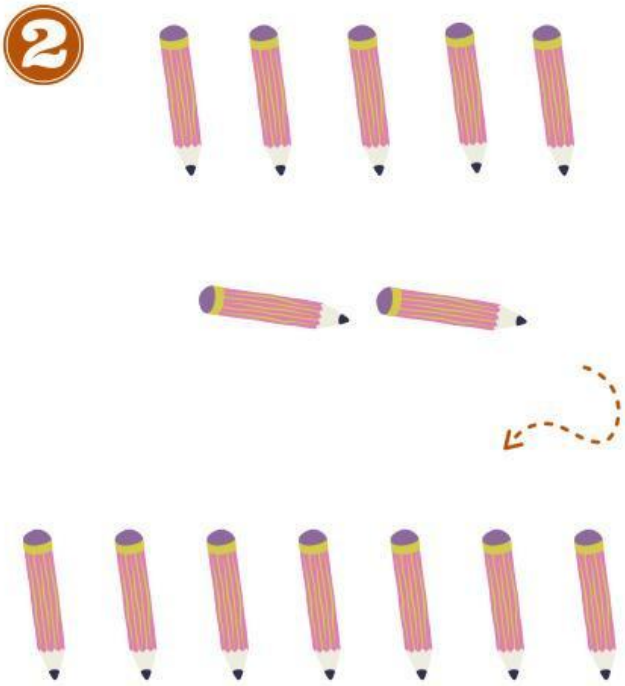

Abian memiliki ☐ pensil.

Ibu memberi Abian ☐ pensil lagi.

Jadi, jumlah pensil Abian ada ☐.

LIVEWORKSHEETS

YUK TULIS KALIMAT MATEMATIKA DENGAN TEPAT!

3



Ada 3 ikan di dalam kolam.

Kemudian, ditambahkan 2 ikan lagi ke dalam kolam.

Jadi, sekarang ada 5 ikan.

Kalimat matematika:

_____ + _____ = _____

4



Ada 6 bunga tumbuh di taman.

Kemudian, tumbuh lagi 2 bunga lainnya.

Jadi, sekarang ada 8 bunga.

Kalimat matematika:

_____ + _____ = _____

LIVEWORKSHEETS

YUK TULISKAN ANGKA DENGAN TEPAT!

5 Ada tiga kupu-kupu sedang terbang di taman. Lalu, tiga kupu-kupu lainnya datang. Ada berapa jumlah kupu-kupu di taman saat ini?

___ + ___ = ___

6 Keisya sedang berulang tahun. Dia menghias ruangan dengan dua balon. Lalu, adik Keisya datang dengan membawa satu balon lagi. Ada berapa jumlah balon saat ini?

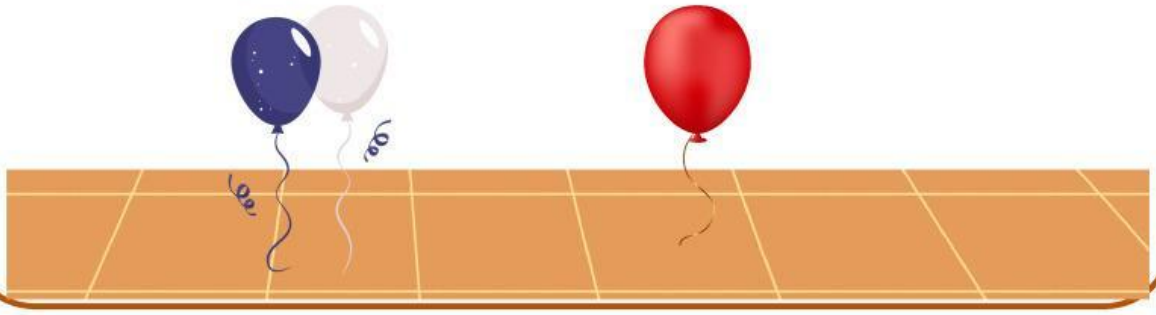

___ + ___ = ___

LIVEWORKSHEETS