TRASFERENCIA (TAREA)-SEMANA 7

1. Observa los siguientes objetos y identifica cuales son fósiles y cuales no. Piensa muy bien tu respuesta.

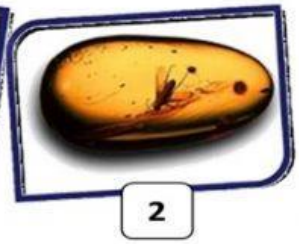

2. Pinta en estas dos imágenes todos aquellos elementos que consideres que se pueden fosilizar.





3. Observa las imágenes y explica la formación de cada fósil.

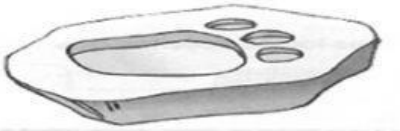

4. Ordena el proceso de fosilización del siguiente organismo. Escribe los números del 1 al 3

Los materiales de los huesos son sustituidos por minerales	Un pez muere y su cadáver queda en el fondo de un lago	El cadáver del pez es cubierto por lodo

5. "Fósil" es una palabra latina que significa: _____

6. ¿Qué es un fósil?_____

7. ¿Para qué sirven los fósiles? _____

LIVEWORKSHEETS