1 დააკვირდი დაყოფის რომელი მეთოდებია გამოსახული.

ნარევის დაყოფის მეთოდი _____ გამოიყენება _____ ხსნარების დასაყოფად. ამ მეთოდით შეიძლება დავყოთ წყლისა და _____ ნარევი.

2 მონიშნე ნარევი

ზღვის წყალი

რძე

სასმელი წყალი

შაქრიანი ჩაი

ქვიშა

თაბაშირი

LIVEWORKSHEETS

3

სქემაზე მოცემულ სამ აგრეგატულ მდგომარეობას დაუკავშირე მისთვის დამახასითებრლი თვისებები



აირადი

თხევადი

მყარი

იღებს ჭურჭლის ფორმას	ავსებს ჭურჭლის მოცულობას	იღებს ჭურჭლის მომცველ ფორმას
აქვს უცვლელი მოცულობა	აქვს უცვლელი ფორმა	აქვს უცვლელი მოცულობა

4

გადაადგილე აგრეგატული მდგომარეობების ცვლილების პროცესები შესაბამის ადგილებზე

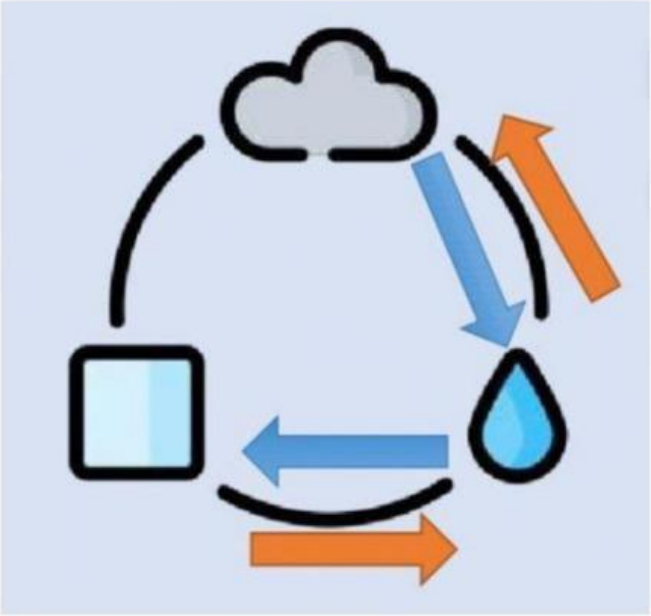

- აორთქლება
- კონდენსაცია
- დნობა
- გაყინვა

LIVEWORKSHEETS

5

მოსარევად რომელი კოვზის გამოყენება ჯობს, ხელი რომ არ დავიწვათ. რატომ?

6

მონიშნე რა სახის ენერგია აქვთ სურათზე მოცემულ სხეულებს

- ბგერითი
- მექანიკური
- ელექტრული
- სითბური
- ქიმიური
- სინათლის

- ბგერითი
- მექანიკური
- ელექტრული
- სითბური
- ქიმიური
- სინათლის

- ბგერითი
- მექანიკური
- ელექტრული
- სითბური
- ქიმიური
- სინათლის

- ბგერითი
- მექანიკური
- ელექტრული
- სითბური
- ქიმიური

LIVEWORKSHEETS

7

აღწერეთ, რა ტიპის (ქიმური თუ ფიზიკური) ცვლილებები მიმდინარეობს ზემოთ მოცემულ სურათზე? დაასაბუთე შენი მოსაზრება.



8

განსაზღვრე, რა ტიპის ენეგიების გარდაქმნები გამოსახულია სქემებზე



ენერგიის წყაროები

LIVEWORKSHEETS

9

აღწერე, ენერგიის როგორი სახის წყაროებია გამოსახული სურათზე

10

მწვანე მაგიდაზე დაალაგე

ერთგვაროვანი/ჰომოგენური

ნარევები

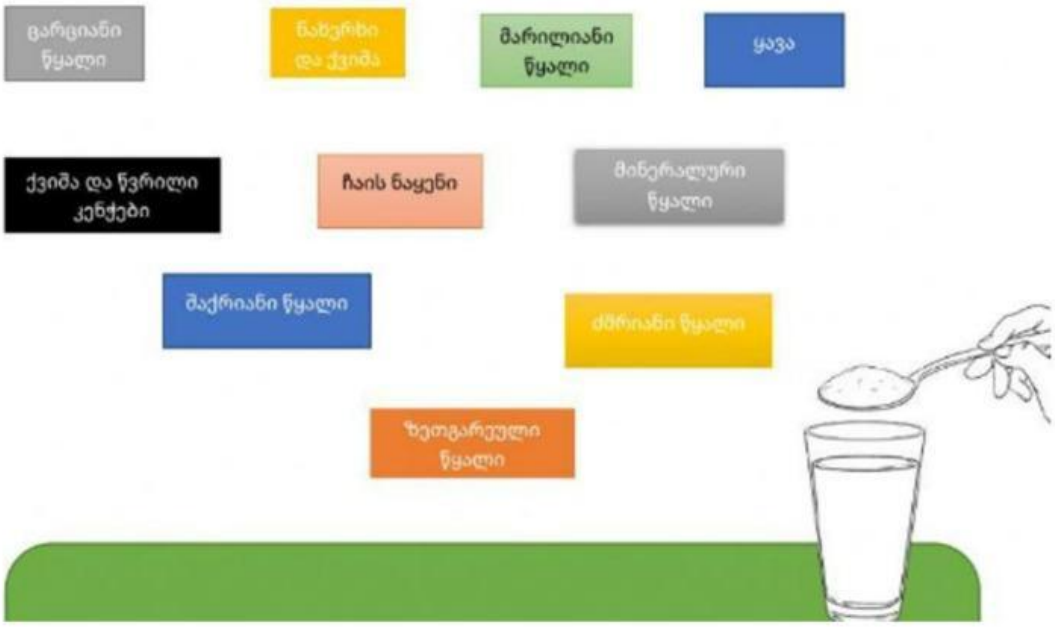

LIVEWORKSHEETS