Lembar Kerja Peserta Didik

PERKALIAN DAN PEMBAGIAN



Nama:

Kelas:

LIVEWORKSHEETS

PERKALIAN

1. Hitunglah 2 x 5 =

A. 15 | B. 10 | C. 5 | D. 30

2. Hitunglah 3 x 7 =

A. 14 | B. 24 | C. 21 | D. 20

3. Pasangkan gambar dengan kalimat natematika yang tepat !



3 x 3



2 x 4

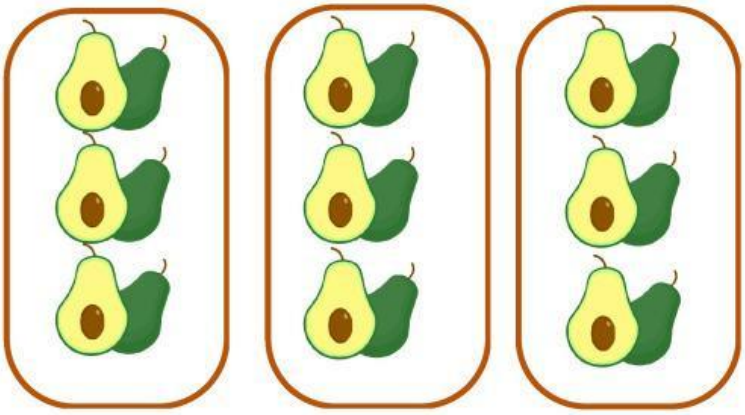

4 x 2

LIVEWORKSHEETS

PEMBAGIAN

1 6 : 3 =

4

2 8 : 2 =

10

3 20 : 2 =

2

4 ibu guru memiliki 20 kue dan akan di bagi ke 4 siswanya, masing masing siswa akan mendapatkan berapa kue ?

A. 5 B. 7 C. 2 D. 10

5 Kakak memiliki 15 kelereng dan akan dibagikan ke 5 temannya. masing-masing akan mendapatkan berapa kelereng ?

A. 5 B. 13 C. 3 D. 2

LIVEWORKSHEETS