Pasangkan gambar dengan kalimat matematika yang tepat.

3 x 3

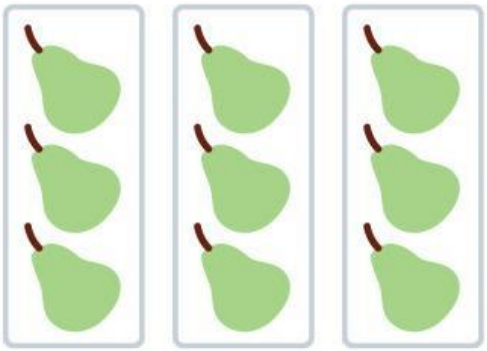

2 x 3

Jawablah pertanyaan berikut dengan tepat.

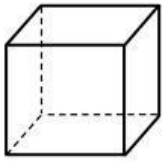

Sebuah kubus memiliki panjang sisi 8 cm.
Hitunglah volume kubus tersebut!



Sebuah prisma segitiga memiliki alas segitiga dengan panjang 6 cm dan tinggi segitiga 4 cm. Jika tinggi prisma adalah 10 cm, hitunglah volume prisma tersebut!

Gunting dan tempelkan bangun ruang sesuikan dengan nama bangun.

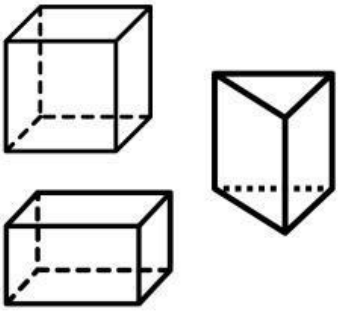

KUBUS	PRISMA	BALOK

LIVEWORKSHEETS