"IMAGINA"

Curso 2019 – 2020 5º Curso

NOMBRE: _____ CURSO: _____ Nº: ___
FECHA: _____

MATEMÁTICAS Tema 9

1.- Indica si se trata de recta, semirrecta o de segmento.

2.- Indica cuales de las siguientes rectas son paralelas y cuales secantes

Rectas Rectas Rectas Rectas

3.- Indica qué posiciones tienen las circunferencias según su posición en el plano.

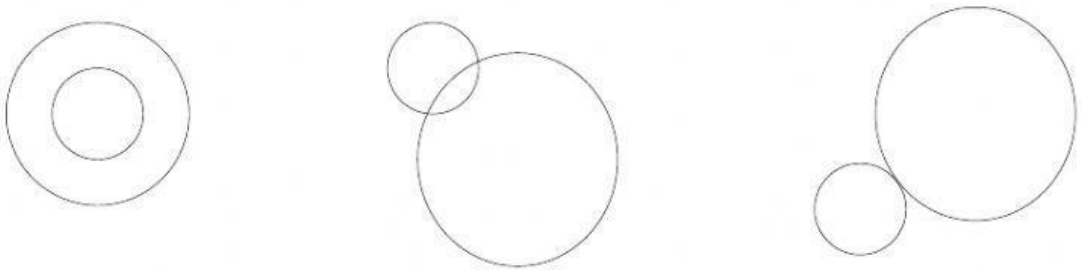

4.-El profesor de Educación Física ha colocado unas picas y unos aros de la manera en que muestran las imágenes. Indica qué posición ocupa la pica con respecto al aro en cada caso, o lo que es lo mismo, la posición que ocupa la recta con respecto a la circunferencia.

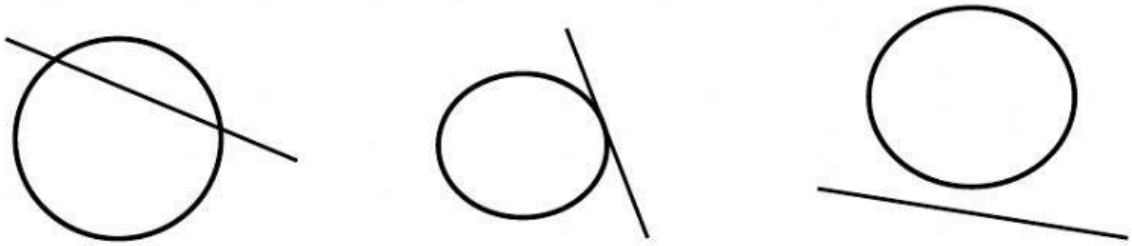

Recta Recta Recta

LIVEWORKSHEETS

5.- Indica si los siguientes ángulos son consecutivos, adyacentes u opuestos por el vértice.



Ángulos

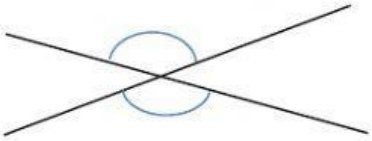

Ángulos

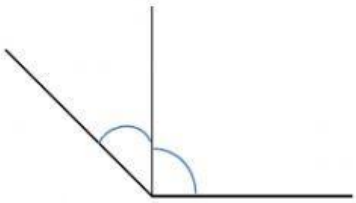

Ángulos

6.- Contesta las siguientes preguntas.

- Si el ángulo A mide 45º, ¿cuánto mide el ángulo B si son complementarios?

▶ El ángulo B mide

- Si el ángulo $\widehat{C}$ mide 60º, ¿cuánto mide el ángulo $\widehat{D}$ si son complementarios?

▶ El ángulo D mide

- Si el ángulo $\widehat{E}$ mide 125º, ¿cuánto mide el ángulo $\widehat{F}$ si son suplementarios?

▶ El ángulo F mide

7. Indica en cuál de estos ángulos está trazada la bisectriz. Contesta no bisectriz o si bisectriz.

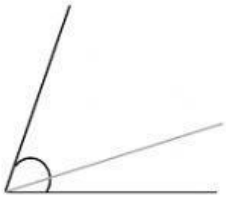

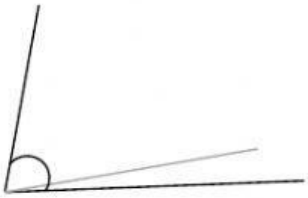

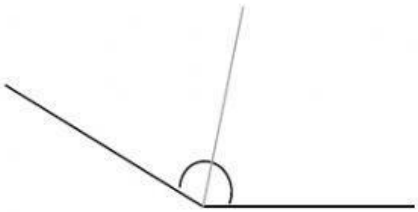

8. Indica en cuál de estos segmentos se ha trazado la mediatriz. Contesta no mediatriz o si mediatriz..

LIVEWORKSHEETS

LIVEWORKSHEETS