Ficha kilo, medio kilo y cuarto de kilo

1 ¿Cuánto pesan estas frutas? Completa con *más* o *menos*.



Pesa _____ de un kilo.

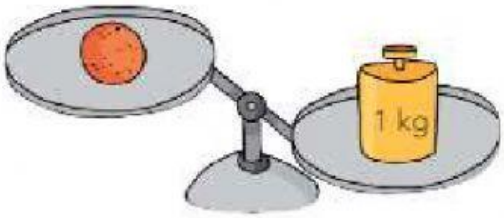

Pesa _____ de un kilo.

2 ¿Cuántos cuartos de kilo hay en medio kilo? Señala.

☐ 1 cuarto de kilo ☐ 2 cuartos de kilo ☐ 4 cuartos de kilo

3 ¿Cuánto pesan estas cajas? Observa y escribe.

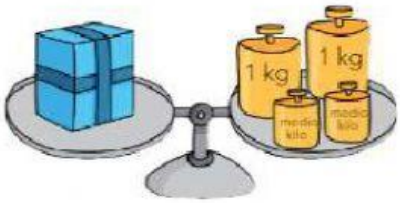

☐ _____

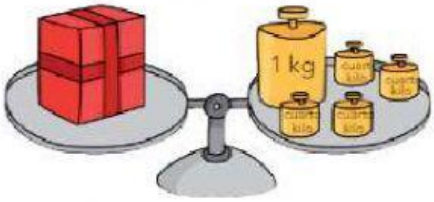

☐ _____

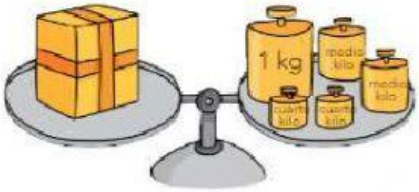

☐ _____

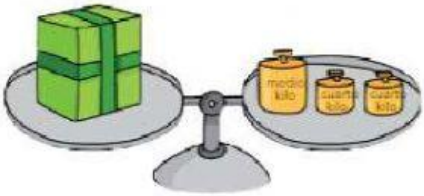

☐ _____

LIVEWORKSHEETS

4 Escribe los números del 1 al 4 para ordenar las cajas de la actividad anterior. Pon el 1 en la que pesa menos.

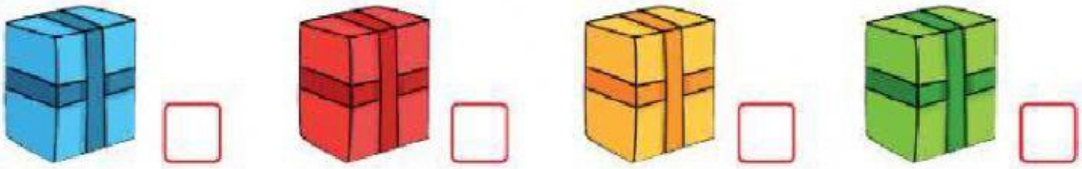

5 ¿Cuánto falta para que haya 3 kg? Señala.

- ☐ un kilo
- ☐ medio kilo
- ☐ un cuarto de kilo

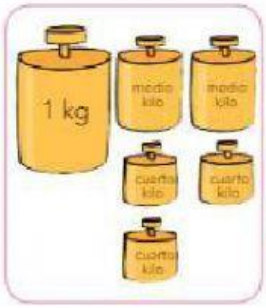

- ☐ un kilo
- ☐ medio kilo
- ☐ un cuarto de kilo

LIVEWORKSHEETS