سلطنة عمان
وزارة التربية والتعليم بجنوب الباطنة
مدرسة عبدالله بن وهب (١٠-١٢)

الاختبار القصير الثاني
للصف العاشر

أسم الطالب /

الصف/ ١٠-

١٠

١) نوع و قوة الارتباط الموضح في المخطط التالي من مخططات الانتشار هو:(ظلل الدائرة للاجابة الصحيحة) (١ درجة)

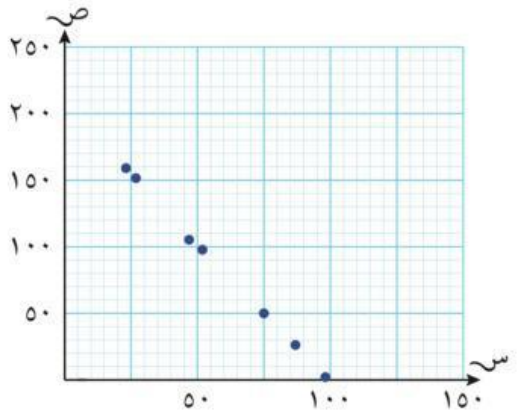

- ○ موجب قوي
- ○ لا يوجد ارتباط
- ○ سالب قوي
- ○ سالب ضعيف

٢) يبين الجدول التكراري التالي عدد الأهداف التي حققها ٢٠ فريقاً في مباريات كرة القدم (٢ درجة)
أرسم المدرج التكراري لعرض الأهداف

الأهداف	التكرار
٠ - ١٠	٢
١٠ - ٢٠	٤
٢٠ - ٣٠	٧
٣٠ - ٤٠	١
٤٠ - ٥٠	٦

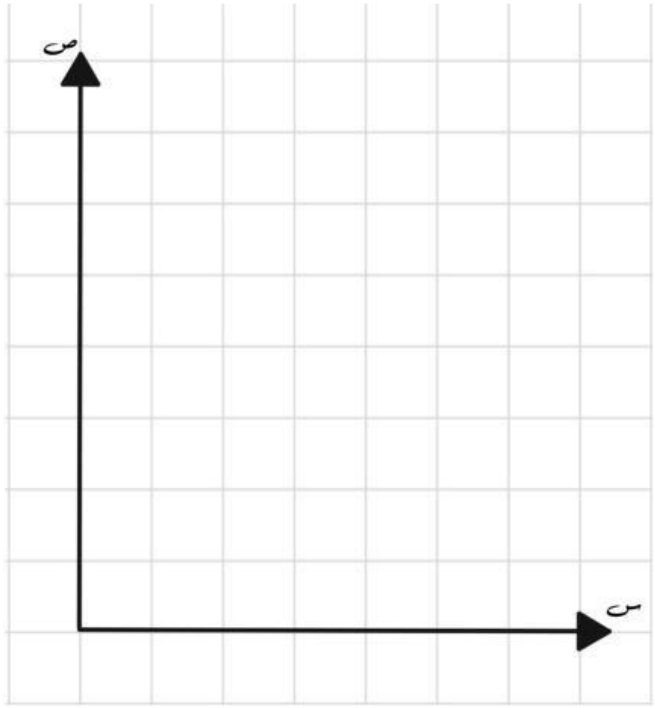

٣) من المثال السابق ، الفئة المئوية لعدد الأهداف هي ؟ (١ درجة)

LIVEWORKSHEETS

٤) أستخدم التمثيل البياني التالي لتجيب عن الأسئلة التالية : (٢ درجة)

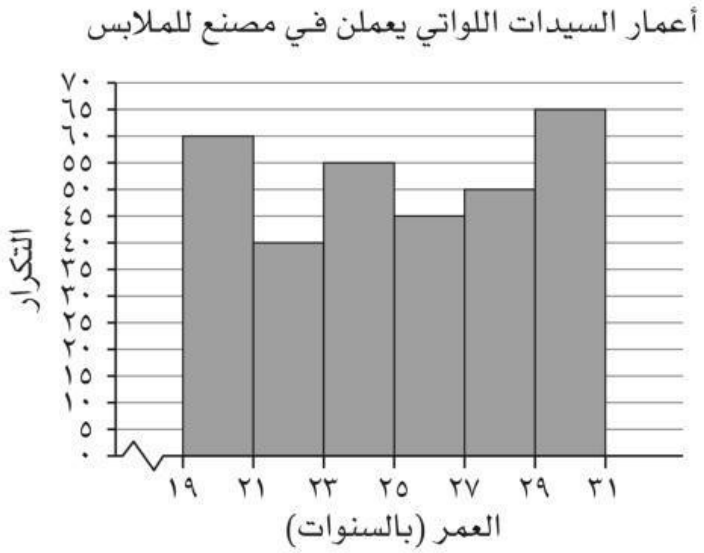

أ) كم سيدة تتراوح أعمارهن بين ٢٣ و ٢٥ سنة يعملن في مصنع الملابس ؟

ب) كم عدد السيدات اللاتي يعملن في المصنع ؟

٥) يعرض الجدول التالي ارتفاع ٢٥ نبتة ، مقرباً إلى أقرب سنتيمتر ، أكمل الجدول التكراري التراكمي التالي : (١ درجة)

الارتفاع (سم)	عدد النباتات	التكرار التراكمي
٦ - ١٥	٣	
١٦ - ٢٠	٧	
٢١ - ٢٥	١٠	
٢٦ - ٤٠	٥	

٦) أكتب العبارة التي تبين د (س) بدلالة س إذا كان : (١ درجة)

التعبير	العبارة
د : س ← ٣ س^{٢} + ٥	

٧) اذا كانت د (س) = ٢ س + ٩ فأوجد قيمة : (١ درجة)

د (٦) =

٨) أوجد قيمة س إذا كانت د (س) = س + ٦ ، د (س) = ٨ (١ درجة)

دائماً ، أنا أستطيع .. حتى تؤمن جوارحك أنه ليس هنالك مستحيلاً في هذا الكون ..
LIVEWORKSHEETS