Lembar Kerja Peserta Didik

LKPD

PENGUKURAN PANJANG DAN BERAT

DISUSUN OLEH : EFRILIA NADIFA

LIVEWORKSHEETS

IDENTITAS

Mata pelajaran : Matematika

Fase / Kelas : B / 3

Alokasi Waktu : 15 menit

Hari / Tanggal : .....

Tujuan LKPD : Setelah menyelesaikan LKPD peserta didik dapat menentukan Pengukuran Panjang dan Berat dalam kehidupan sehari-hari

Kelompok :

1.
2.
3.
4.

LIVEWORKSHEETS

Orientasi peserta didik pada masalah

Bacalah pemasalahan berikut:

" Ani memiliki sebuah pensil dan sebuah pena, bantulah Ani untuk mengetahui panjang dari masing-masing pena dan pensil tersebut "

LIVEWORKSHEETS

Mengorganisasikan peserta didik agar belajar

1. Guru membagi kelompok peserta didik
2. Duduklah dikelompok yang sudah ditentukan
3. Setiap kelompok menerima LKPD yang sudah disiapkan guru
4. Diskusikan dengan temanmu bagaimana cara menentukan Pengukuran panjang dan berat

LIVEWORKSHEETS

Pelaksanaan investigasi

Selidiki bersama anggota kelompokmu untuk menentukan panjang dari benda dibawah ini!



LIVEWORKSHEETS

Berdasarkan hitungan yang telah dilihat , jawablah pertanyaan dibawah ini dengan data dan informasi yang telah diperoleh dari gambar diatas !

1. Benda apa yang paling pendek?

Jawab :

2. Benda apa yang paling panjang?

Jawab :

3. Berapa cm selisih panjang antara benda terpanjang dan terpendek?

Jawab :

4. Berapa cm selisih panjang antara benda terpanjang dan terpendek?

Jawab :

5. Berapa cm total panjang semua alat tulis jika kita gabungkan semuanya?

Jawab :

LIVEWORKSHEETS

Pasangkan gambar pengukuran berat benda dengan alat ukur yang tepat.

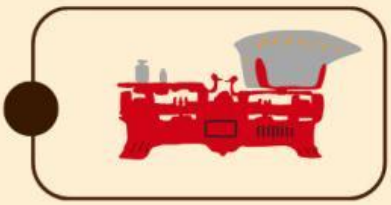

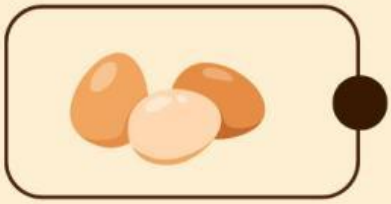



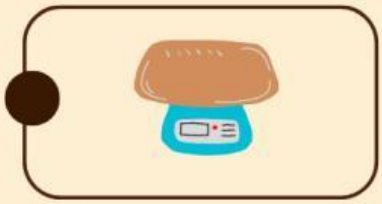

LIVEWORKSHEETS

Bacalah soal dibawah ini, kemudian jawablah dengan benar !

Ayah membeli satu karung kentang. Beratnya 8.000 gram. Berapa kilogram berat kentang itu?

Jawab : _____

Pak Rudi baru memanen jagung. Jagung itu beratnya 6.500 gram. Berapa kilogram berat jagung itu?

Jawab : _____

Ibu meminta Dika membeli beras. Dika membeli 3 kilogram beras. Berapa gram berat beras itu?

Jawab : _____

LIVEWORKSHEETS

Bacalah soal dibawah ini, kemudian jawablah dengan benar !

Berat satu karung tomat itu 5 kilogram. Berapa berat 3 karung tomat?

Jawab : _____

Ibu memiliki sekarung wortel yang beratnya 3 kilogram, lalu ayah mengambilnya 2 kilogram. Berapa gram sisa wortel Ibu?

Jawab : _____

LIVEWORKSHEETS

Mengembangkan dan menyajikan hasil kerja

Masing-masing perwakilan kelompok mempresentasikan hasil kerja kelompok di depan kelas.

LIVEWORKSHEETS

Menganalisis dan evaluasi masalah

Perwakilan kelompok mempresentasikan hasil kerja kelompok bagaimana cara secara klasikal membandingkan antar pecahan dengan penyebut sama yang dimiliki kakak. Kemudian kelompok lain memberikan tanggapan

LIVEWORKSHEETS

KESIMPULAN

LIVEWORKSHEETS