1.Complete la siguiente serie ascendente numérica del 1 al 100. (Vale 1,5 puntos)

1	2	3	4	5		7	8	9	10
	12		14		16	17	18		20
21		23	24	25		27		29	
	32	33		35	36	37	38		40
41		43	44	45			48	49	50
	52	53		55	56	57	58	59	
61		63	64	65		67	68		70
71	72	73		75	76		78	79	
	82	83		85	86	87		89	90
91	92		94		96	97	98		100

2. Coloque de manera correcta los signos de mayor >, menor < o igual = entre cada pareja de números. (Vale 1,5 puntos)

MAYOR	MENOR	IGUAL
>	<	=

72 ☐ 72

36 ☐ 31

48 ☐ 58

LIVEWORKSHEETS

3. ¿Cuántas decenas y unidades hay? **(Vale 1 punto)**

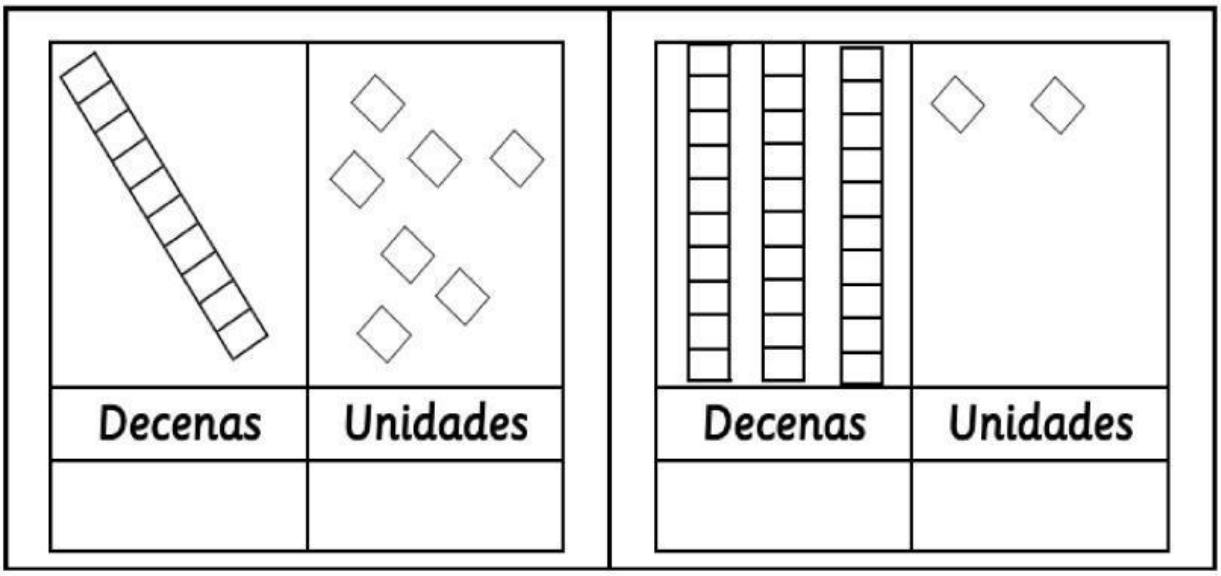

4. Ordena en forma descendiente. **(Vale 1,5 puntos)**

15	9	10	12	8	5

5. Cuenta los puntos de los dados y completa la suma. **(Vale 0,50 puntos)**

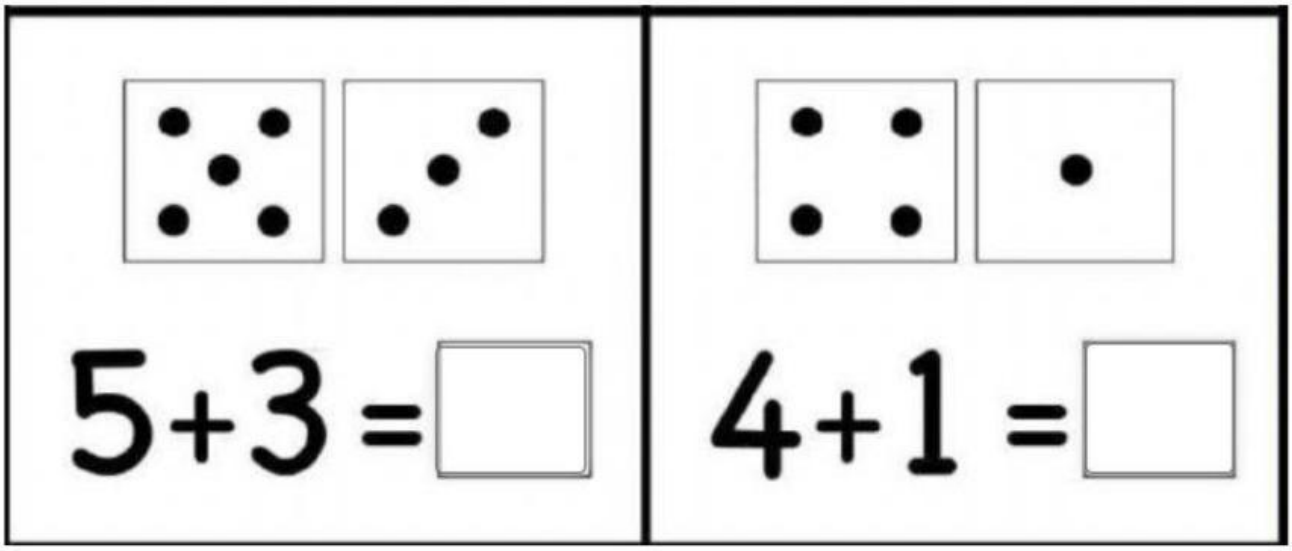

LIVEWORKSHEETS

6. Realiza la resta. **(Vale 0,50 puntos)**

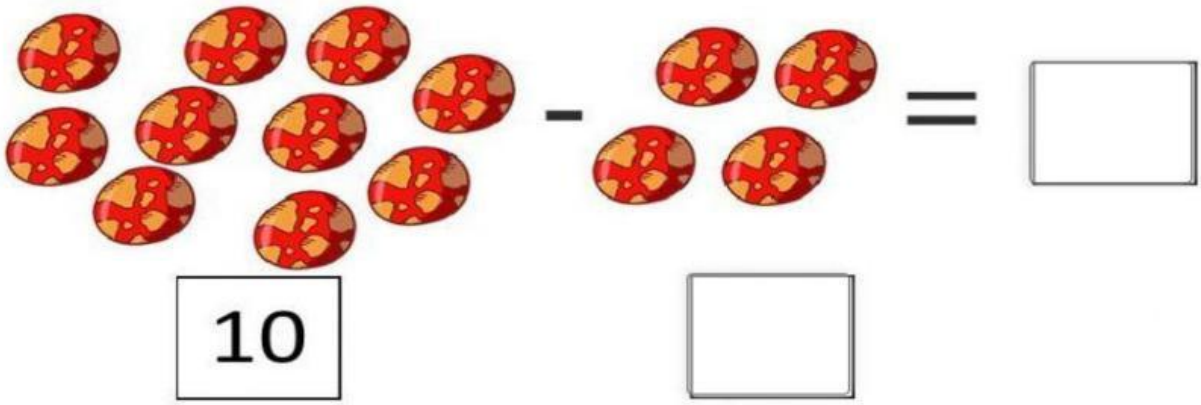

7. Realiza la suma y la resta. **(Vale 1 puntos)**

3 + 7 = ☐ 7 - 3 = ☐

8. Escribe la suma que representa en la recta numérica. **(Vale 0,50 puntos)**

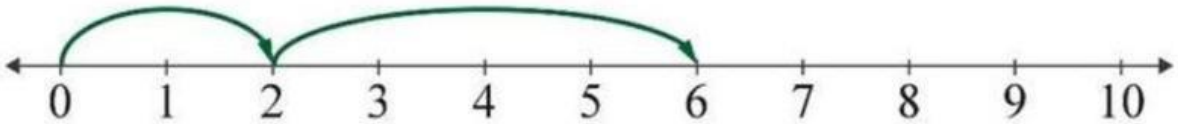

☐ + ☐ = ☐

9. Coloque el numero anterior y posterior correctamente. **(Vale 1,2 puntos)**

ANTERIOR		POSTERIOR
	96	
	44	
	56	

LIVEWORKSHEETS

10. Arrastra los números ordinales con la posición de cada niño. (Vale 1, 3 puntos)



LIVEWORKSHEETS