SEXTO CURSO MATEMÁTICAS

Examen unidad 4

CEIP JULIO COLOMA GALLEGOS

Nota:

Nombre: _____ Fecha: _____ Curso:____ Nº lista:___

Recuerda: Confío en ti, a si que saca la súper fuerza y arrasa! ¿Alguna pregunta?

!!!!TÚ PUEDES!!!!! Si tienes dudas pregunta a la Seño Belén.

1. Indica que tipo de ángulo es cada uno.

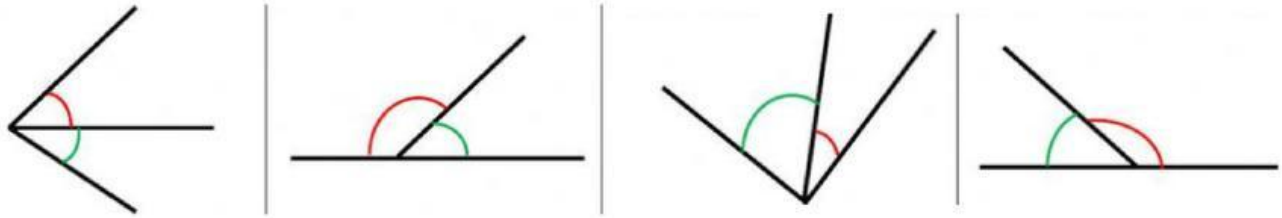

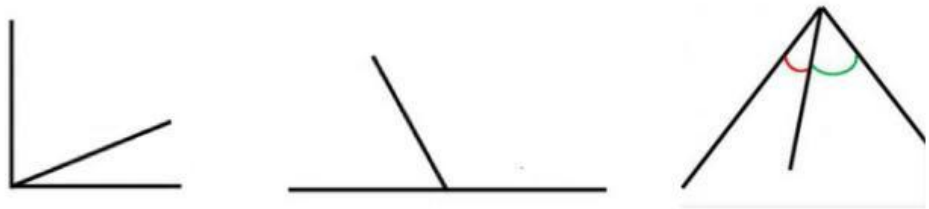

2. Marca que líneas trazan el eje de simetría de las siguiente figuras.

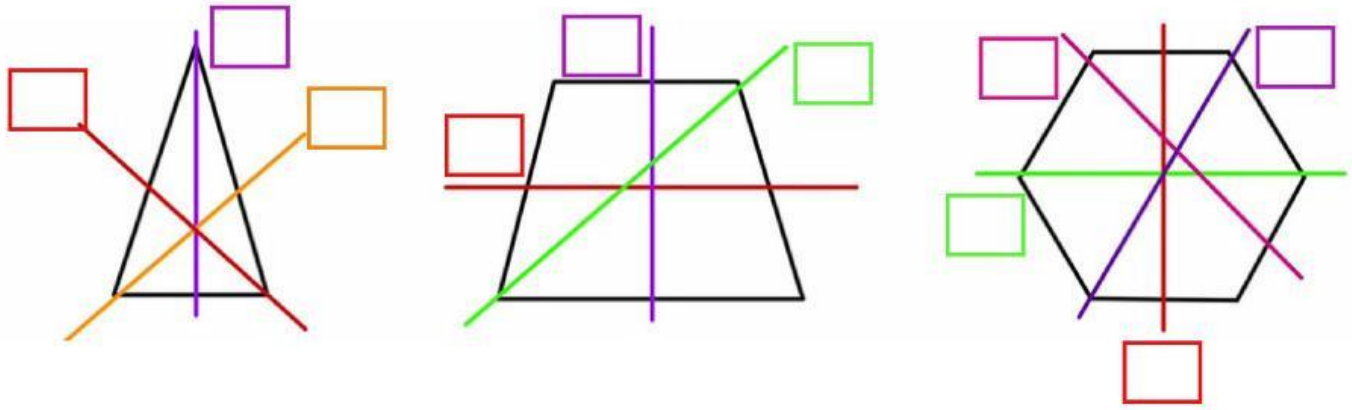

3. Completa las medidas que faltan sabiendo que los triángulos son semejantes.

Triángulo 1

- Lado AB: 6 cm
- Lado BC: ____ cm
- Lado AB: 18 cm

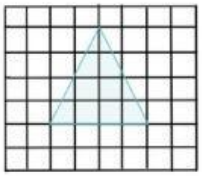

Triángulo 2

- Lado AB: 18 cm
- Lado BC: 24 cm
- Lado AB: ___ cm

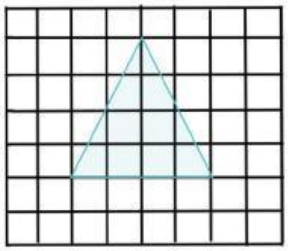

LIVEWORKSHEETS

4. Mira las siguientes figuras y escribe si son semejantes o simétricas.

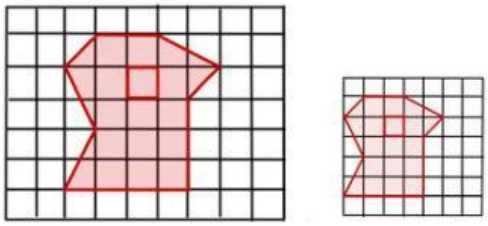

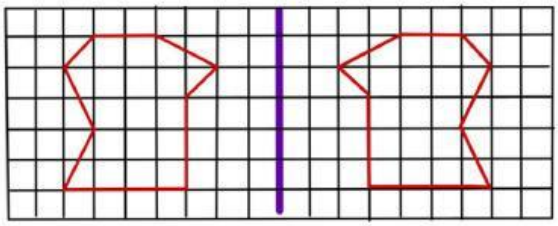

5. Marca cual de las siguientes figuras está trasladada 11 cuadros a la izquierda.



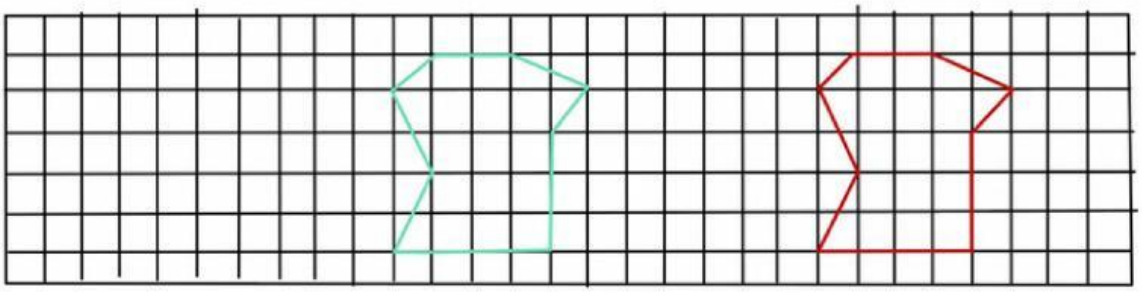

6. ¿Estas figuras son semejantes?

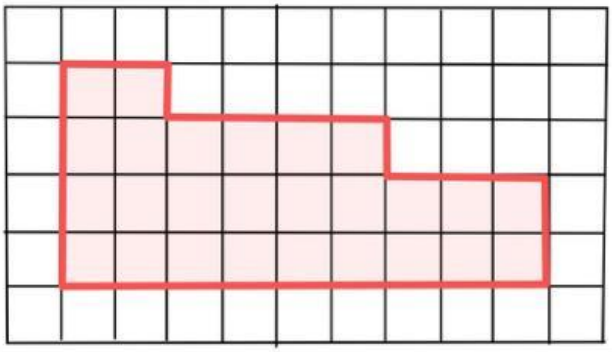

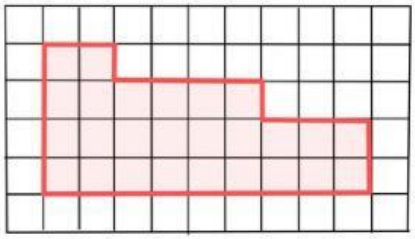

1. No
2. Sí

7. Dibuja una figura semejante a la siguiente:

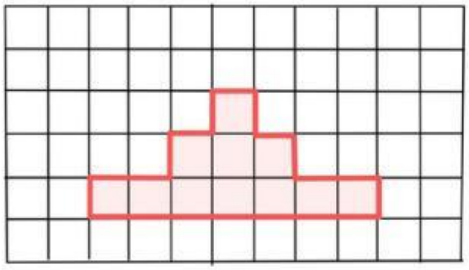

LIVEWORKSHEETS