Lembar Kerja Peserta Didik

LKPD

BANGUN DATAR

Nama : _____

Kelas : _____

Oleh Dinda Meisyah Azzahra

LIVEWORKSHEETS

Nama : Tanggal :

CIRI & SIFAT BANGUN DATAR

Cermati gambar dibawah kemudian tarik garis dan pasangkan dengan pernyataan yang benar!

- Memiliki 4 sisi sama panjang
- 4 sudut siku-siku yang sama besar

- Memiliki 4 sisi, kedua sisi yang saling berhadapan sama panjang dan sejajar

- Memiliki satu titik pusat
- Jumlah derajat sebesar 360 derajat

- Memiliki 3 sisi yang sama panjang
- Memiliki 3 sudut yang sama besar

- Memiliki 6 sisi yang sama panjang
- Memiliki 6 sudut yang sama besar

LIVEWORKSHEETS

Nama: _____ Kelas: _____

Menghitung Jumlah Bangun Datar

Pilih kata tanya yang tepat untuk melengkapi kalimat di bawah ini. Satu kata tanya bisa digunakan beberapa kali.

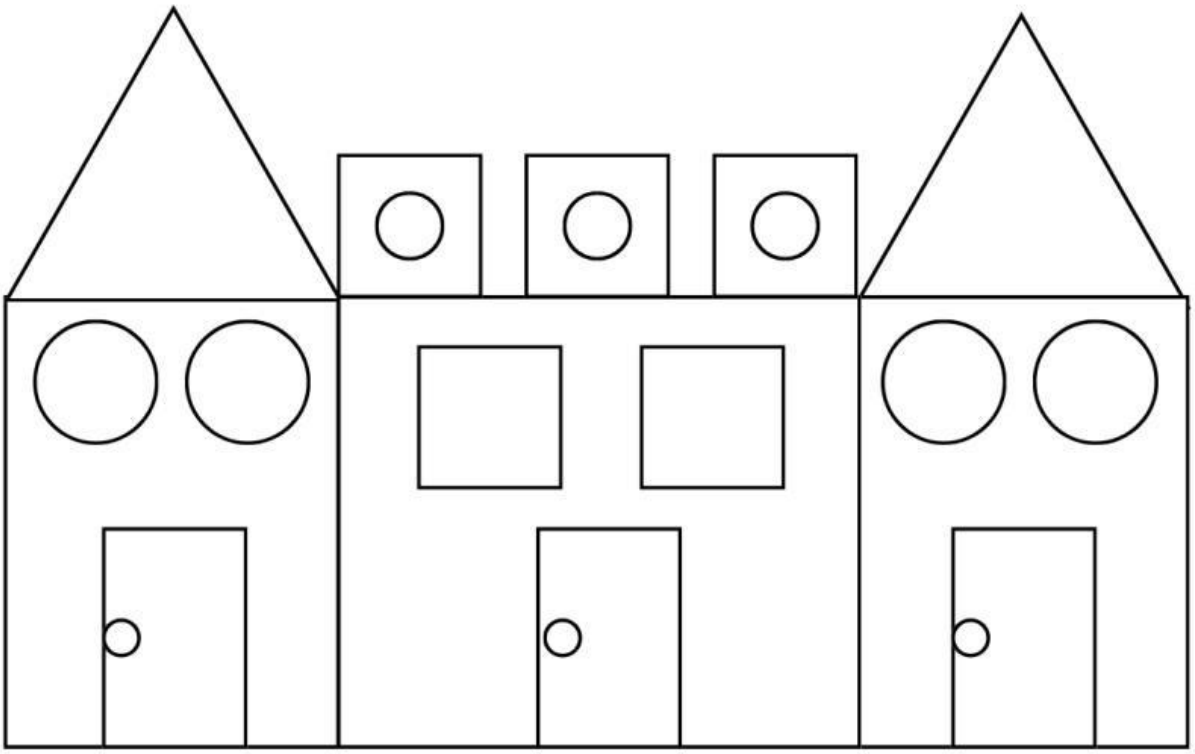

 = _____ = _____

= _____ 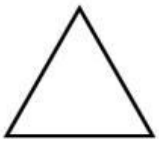 = _____

LIVEWORKSHEETS

Nama : Kelas :

MENGENAL BANGUN DATAR

Jawablah pertanyaan tentang bangun datar dibawah dengan benar dan tepat !

1. 

Nama bangun datar :_____

Banyak sisi :_____

Banyak titik sudut :_____

2. 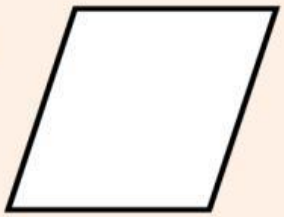

Nama bangun datar :_____

Banyak sisi :_____

Banyak titik sudut :_____

3. 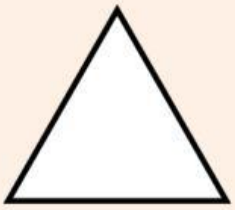

Nama bangun datar :_____

Banyak sisi :_____

Banyak titik sudut :_____

4. 

Nama bangun datar :_____

Banyak sisi :_____

Banyak titik sudut :_____

5.

Nama bangun datar :_____

Banyak sisi :_____

Banyak titik sudut :_____

LIVEWORKSHEETS

Nama: **Kelas:**

Bangun Datar

Isikan jawaban yang benar pada kolom yang tersedia!

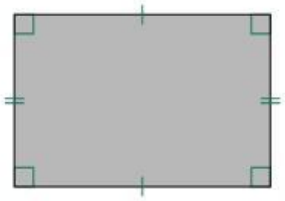

Nama Bangun Datar :

Jumlah Sisi : Jumlah Sudut : Jumlah Diagonal :



Nama Bangun Datar :

Jumlah Sisi : Jumlah Sudut : Jumlah Diagonal :

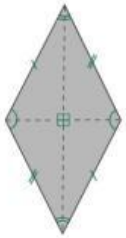

Nama Bangun Datar :

Jumlah Sisi : Jumlah Sudut : Jumlah Diagonal :

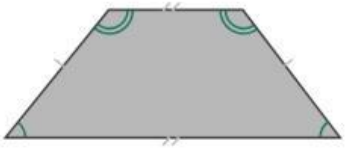

Nama Bangun Datar :

Jumlah Sisi : Jumlah Sudut : Jumlah Diagonal :

LIVEWORKSHEETS

NAMA :

KELAS :

LATIHAN SOAL BANGUN DATAR

1. Apa nama bangun datar yang memiliki 4 sisi dengan panjang sisi yang sama dan 4 sudut yang sama?

   A. Segitiga
   C. Persegi
   B. Segiempat
   D. Jajar Genjang

2. Bangun datar apa yang memiliki 3 sisi?

   A. Persegi
   C. Segitiga
   B. Lingkaran
   D. Trapesium

3. Berapa banyak sudut yang dimiliki oleh sebuah segiempat?

   A. 3
   C. 5
   B. 4
   D. 6

4. Bangun datar apakah yang memiliki dua pasang sisi yang sama panjang dan dua sudut yang sama besar?

   A. Jajar Genjang
   C. Segitiga
   B. Persegi Panjang
   D. Lingkaran

5. Bangun datar apa yang memiliki sisi melengkung dan tidak memiliki sudut?

   A. Trapesium
   C. Persegi
   B. Segitiga
   D. Lingkaran

LIVEWORKSHEETS