Unidad Educativa
Centro Eduactivo MIRAFLORES
EDUCAMOS Y FORMAMOS PARA TODA LA VIDA

EXAMEN CORRESPONDIENTE AL SEGUNDO QUIMESTRE
EXAMEN CORRESPONDIENTE AL SEGUNDO QUIMESTRE

ÁREA: Ciencias Experimental **ASIGNATURA:** Ciencias Naturales.
DOCENTE: Rebeca Villamar Barcia
NOMBRE DEL ESTUDIANTE: _____
AÑO: Séptimo de Educación Básica **SECCIÓN:** A - B
FECHA: _____ **AÑO LECTIVO:** 2020– 2021.

1.Completar el siguiente esquema arrastrando las siguientes palabras a los cuadros respectivos.

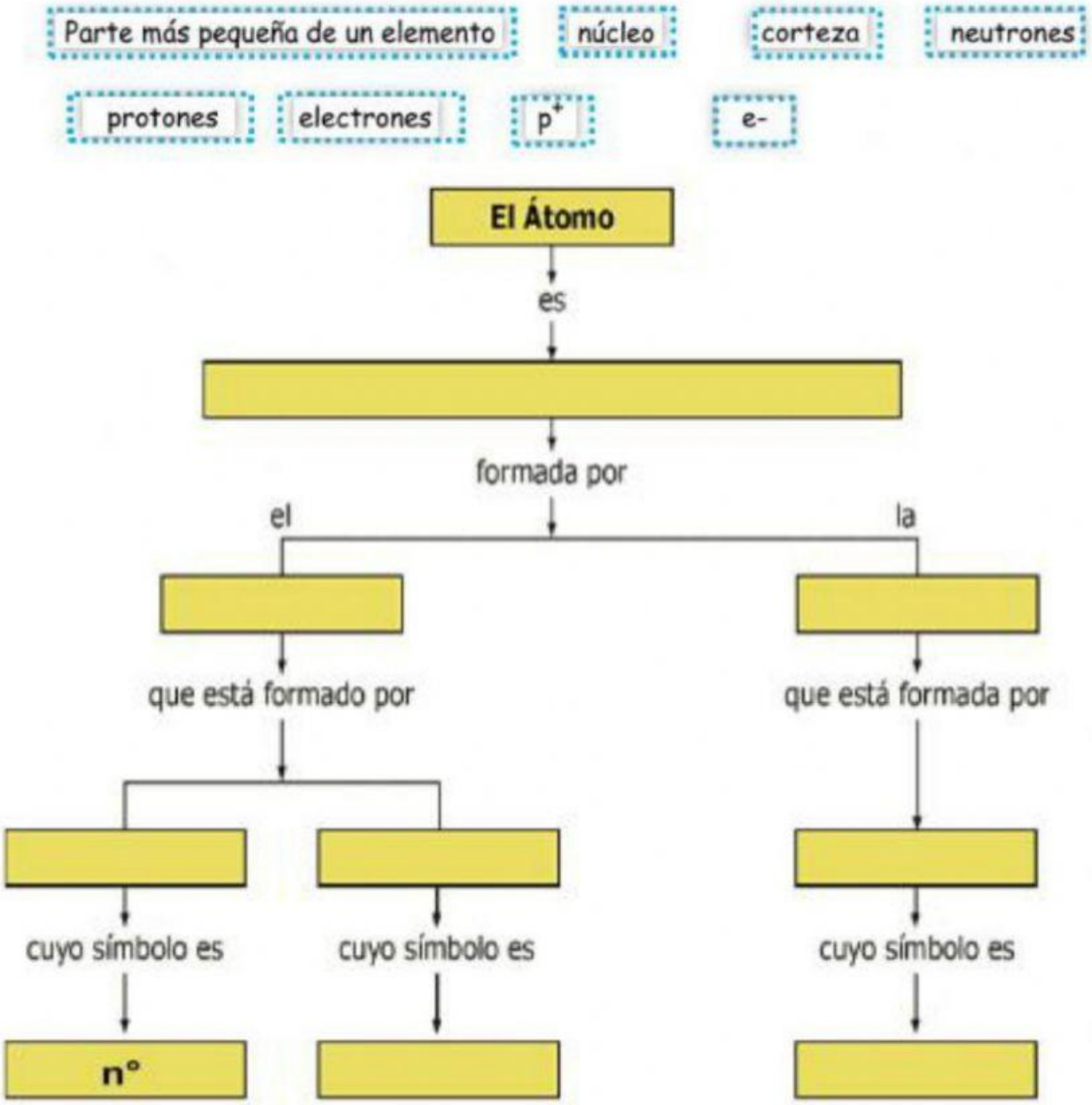

LIVEWORKSHEETS

2.Unir con líneas según corresponda.

DEMÓCRITO	Propuso que la materia no era continua, si no que habría un punto en el cual ya no se podía dividir.
DALTON	Construyó el primer modelo atómico. Descubrió el electrón.
THOMSON	Concluye que el átomo está formado por dos partes: núcleo y corteza
RUTHERFOR	Existen partículas indivisibles eternas e inmutables; a las cuales llamó ÁTOMOS.

3.Clasificar arrastrando los siguientes métodos para la separación de mezclas.

Coloca donde corresponda para clasificar los diferentes métodos de separación de mezclas.

Métodos para separar mezclas heterogéneas	Métodos para separar mezclas homogéneas

Destilación | Decantación | Evaporación | Filtración

4.Seleccionar que métodos de separación se está utilizando.



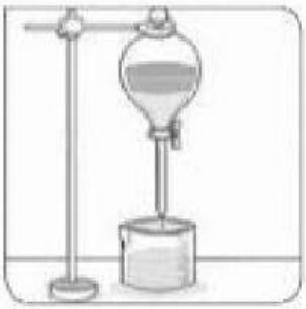



LIVEWORKSHEETS

5.Escribir verdadero o falso según corresponda.

- [ ] La evaporación se utiliza para separar agua y alcohol.
- [ ] Para separar agua y aceite utilizo la destilación.
- [ ] Mediante la filtración puedo separa agua y arena.
- [ ] El aceite y el agua se pueden separar por decantación.

6.Identificar las partes de la tabla periódica de los elementos sobre los elementos químicos.

Periódica.

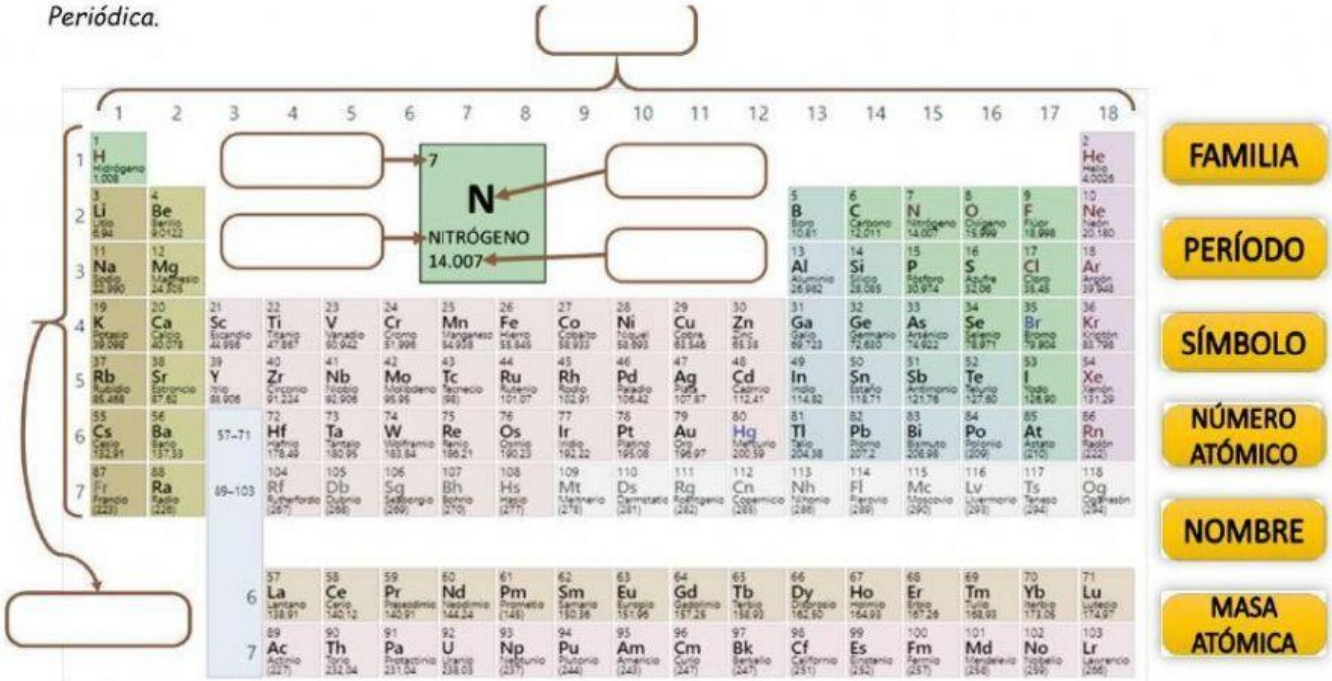

6.Arrastrar y completar sobre los estados de la materia.

adapta | volumen | líquido | gaseoso | forma | hielo

La materia puede encontrarse en tres estados: sólido, _____ y gaseoso.

El _____ es agua en estado sólido. La materia en estado sólido tiene _____ fija.

También es fijo su volumen, es decir, el espacio que ocupa.

El agua del lago está en estado líquido. La materia en estado líquido no tiene una forma fija, es decir, se _____ a la forma del recipiente que lo contiene. En cambio, su _____ es fijo.

El vapor es agua en estado _____. La materia en estado gaseoso no tiene forma propia. Su volumen tampoco es fijo.

LIVEWORKSHEETS

7.Completar el organizador gráfico de acuerdo a la electricidad.

En reposo - generador - circuitos eléctricos - receptores
corriente eléctrica - electrización

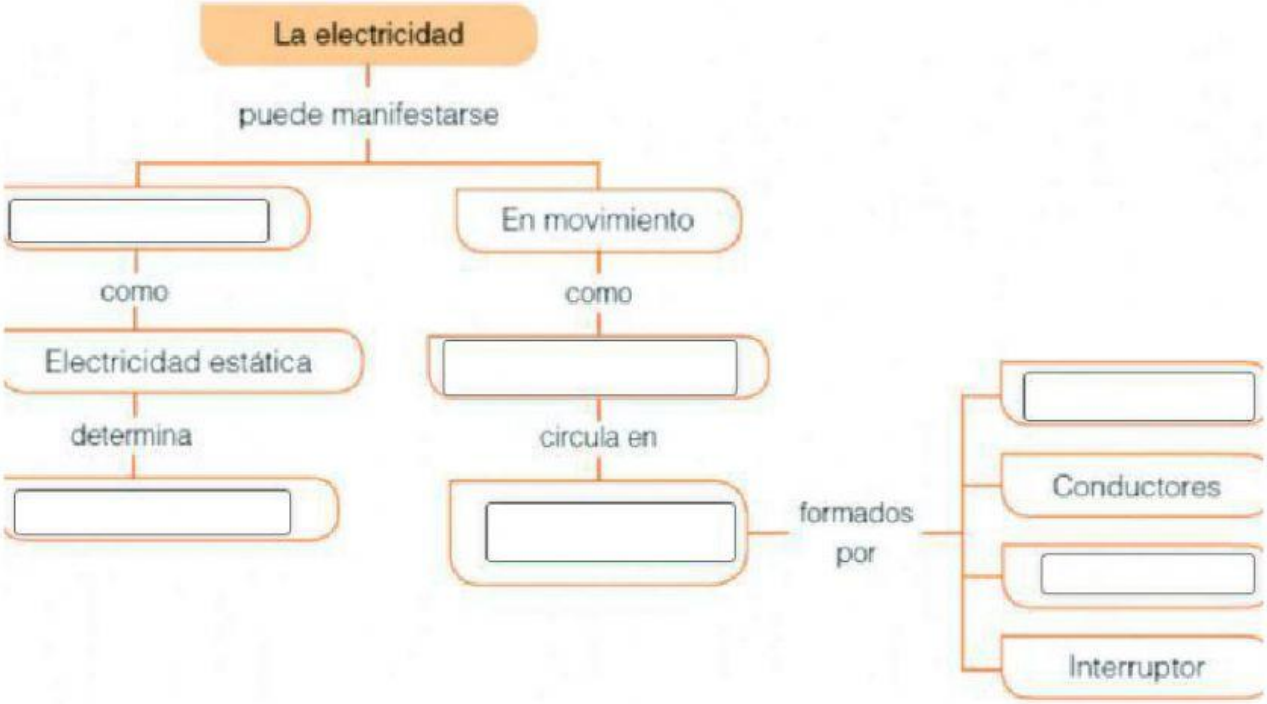

8.Ubica los nombres de la capas internas y externas de la Tierra.

MESOSFERA

TROPOSFERA

TERMOSFERA

EXOSFERA

ESTRATOSFERA

LIVEWORKSHEETS

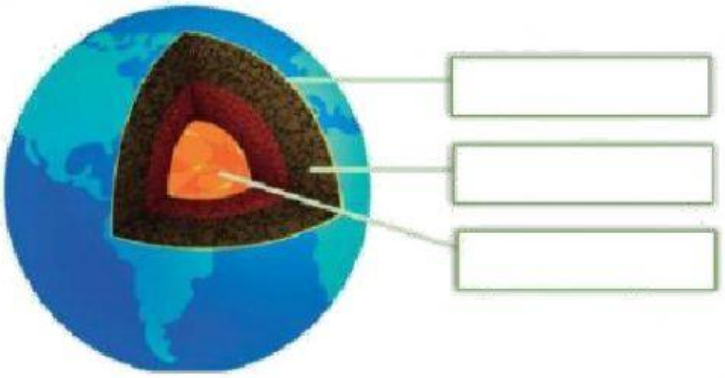

CORTEZA

NÚCLEO

MANTO

9.Mencionar las hidroeléctricas más importantes del Ecuador.

LIVEWORKSHEETS