اليوم و التاريخ : الثلاثاء 9/3/2021	المقاطع العرضية.	التقويم القبلي	الطالبة :..... (7/1)

1 صل كل عدد من الوجوه والحواف والرؤوس بالشكل المجسم الصحيح.

الشكل 1

الشكل 2

الشكل 3

الشكل 1

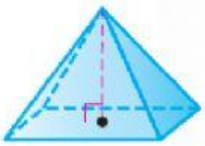

الشكل 2

الشكل 3

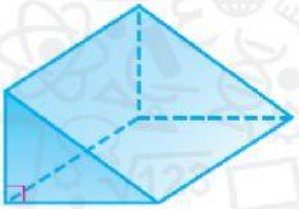

a. 4 وجوه، و 6 حواف، و 4 رؤوس

b. 5 وجوه، و 8 حواف، و 5 رؤوس

c. 5 وجوه، و 9 حواف، و 6 رؤوس

LIVEWORKSHEETS

2 أي مما يلي يعتبر أحد حواف الشكل المقابل :

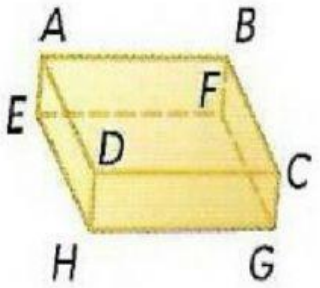

a) CG b) G

c) CGH d) CGHD

3 أي مما يلي يعتبر أحد وجوه الشكل المقابل :

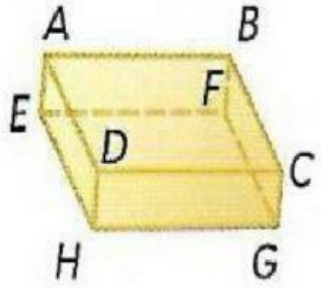

a) CG b) G

c) CGH d) CGHD

اعداد الأستاذة: سهاد أحمد المهر

LIVEWORKSHEETS